# Séquence de Nombres Linéaires (G)

Remplissez les nombres qui manquent de chaque nombre linéaire.

1.

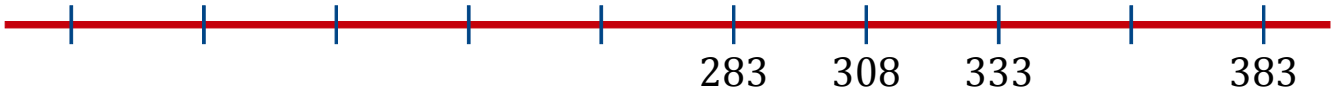


Différence commune: _____

2.

Différence commune: _____

3.

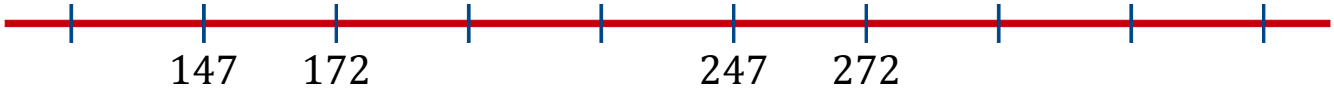


Différence commune: _____

4.

Différence commune: _____

5.

Différence commune: _____

6.




Différence commune: _____

7.

Différence commune: _____

8.

Différence commune: _____

# Séquence de Nombres Linéaires (G) Réponses

Remplissez les nombres qui manquent de chaque nombre linéaire.

1. 158 183 208 233 258 283 308 333 358 383

Différence commune: 25

2. 178 168 158 148 138 128 118 108 98 88

Différence commune: -10

3. 122 147 172 197 222 247 272 297 322 347

Différence commune: 25

4. 526 516 506 496 486 476 466 456 446 436

Différence commune: -10

5. 925 850 775 700 625 550 475 400 325 250

Différence commune: -75

6. 395 445 495 545 595 645 695 745 795 845

Différence commune: 50

7. 954 854 754 654 554 454 354 254 154 54

Différence commune: -100

8. 118 108 98 88 78 68 58 48 38 28

Différence commune: -10