Droites Numériques (A)

Complétez cette droite numérique par les nombres manquants.

1.

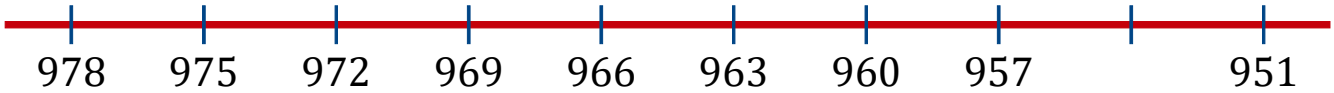

Différence commune: _____

2.

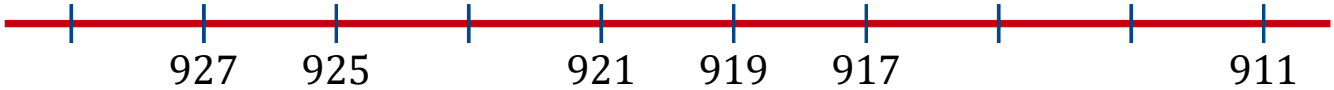

Différence commune: _____

3.

Différence commune: _____

4.

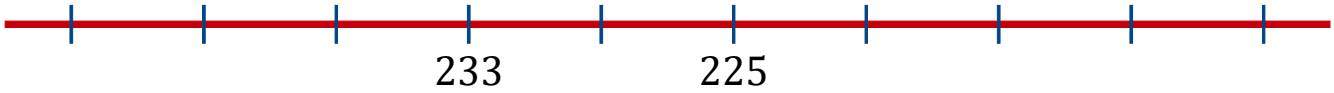

Différence commune: _____

5.

Différence commune: _____

6.

Différence commune: _____

7.

Différence commune: _____

8.

Différence commune: _____

Droites Numériques (A) Réponses

Complétez cette droite numérique par les nombres manquants.

1. 978 975 972 969 966 963 960 957 954 951

Différence commune: -3

2. 929 927 925 923 921 919 917 915 913 911

Différence commune: -2

3. 476 468 460 452 444 436 428 420 412 404

Différence commune: -8

4. 245 241 237 233 229 225 221 217 213 209

Différence commune: -4

5. 422 418 414 410 406 402 398 394 390 386

Différence commune: -4

6. 503 496 489 482 475 468 461 454 447 440

Différence commune: -7

7. 902 901 900 899 898 897 896 895 894 893

Différence commune: -1

8. 453 448 443 438 433 428 423 418 413 408

Différence commune: -5

Droites Numériques (B)

Complétez cette droite numérique par les nombres manquants.

1.

Différence commune: _____

2.

Différence commune: _____

3.

Différence commune: _____

4.

Différence commune: _____

5.

Différence commune: _____

6.

Différence commune: _____

7.

Différence commune: _____

8.



Différence commune: _____

Droites Numériques (B) Réponses

Complétez cette droite numérique par les nombres manquants.

1. 696 688 680 672 664 656 648 640 632 624

Différence commune: -8

2. 563 560 557 554 551 548 545 542 539 536

Différence commune: -3

3. 220 212 204 196 188 180 172 164 156 148

Différence commune: -8

4. 848 844 840 836 832 828 824 820 816 812

Différence commune: -4

5. 753 750 747 744 741 738 735 732 729 726

Différence commune: -3

6. 880 876 872 868 864 860 856 852 848 844

Différence commune: -4

7. 972 964 956 948 940 932 924 916 908 900

Différence commune: -8

8. 728 718 708 698 688 678 668 658 648 638

Différence commune: -10

Droites Numériques (C)

Complétez cette droite numérique par les nombres manquants.

1.

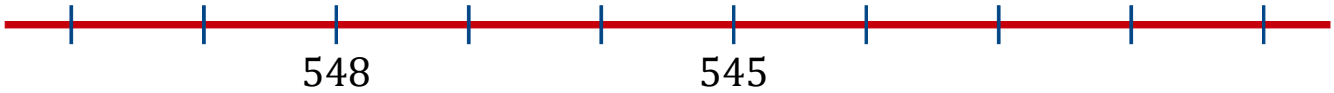

Différence commune: _____

2.

Différence commune: _____

3.

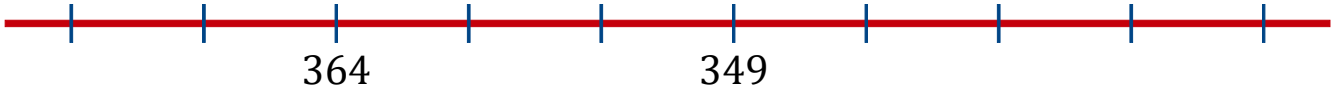

Différence commune: _____

4.

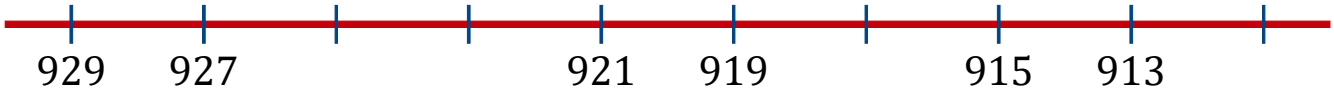

Différence commune: _____

5.

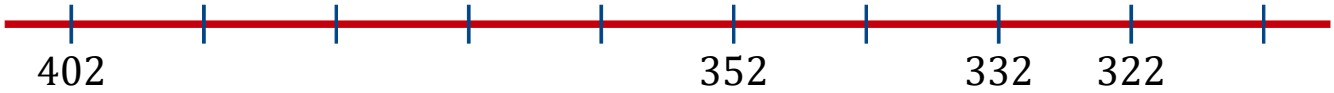

Différence commune: _____

6.



Différence commune: _____

7.

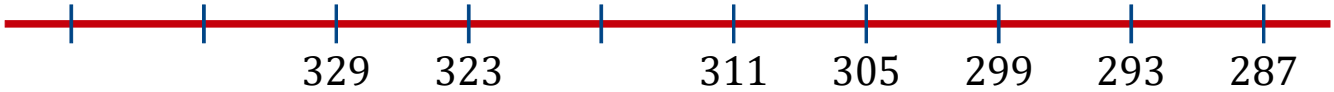

Différence commune: _____

8.

Différence commune: _____

Droites Numériques (C) Réponses

Complétez cette droite numérique par les nombres manquants.

1. 550 549 548 547 546 545 544 543 542 541

Différence commune: -1

2. 153 150 147 144 141 138 135 132 129 126

Différence commune: -3

3. 374 369 364 359 354 349 344 339 334 329

Différence commune: -5

4. 929 927 925 923 921 919 917 915 913 911

Différence commune: -2

5. 402 392 382 372 362 352 342 332 322 312

Différence commune: -10

6. 678 673 668 663 658 653 648 643 638 633

Différence commune: -5

7. 341 335 329 323 317 311 305 299 293 287

Différence commune: -6

8. 980 971 962 953 944 935 926 917 908 899

Différence commune: -9

Droites Numériques (D)

Complétez cette droite numérique par les nombres manquants.

1.

Différence commune: _____

2.

Différence commune: _____

3.

Différence commune: _____

4.

Différence commune: _____

5.

Différence commune: _____

6.



Différence commune: _____

7.

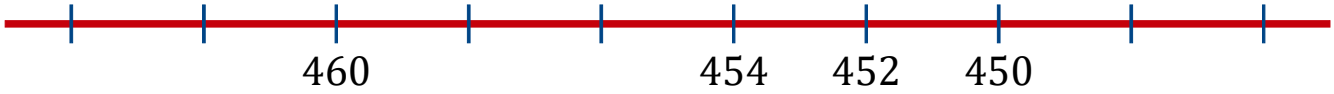

Différence commune: _____

8.

Différence commune: _____

Droites Numériques (D) Réponses

Complétez cette droite numérique par les nombres manquants.

1. 733 726 719 712 705 698 691 684 677 670

Différence commune: -7

2. 674 673 672 671 670 669 668 667 666 665

Différence commune: -1

3. 511 506 501 496 491 486 481 476 471 466

Différence commune: -5

4. 301 291 281 271 261 251 241 231 221 211

Différence commune: -10

5. 965 964 963 962 961 960 959 958 957 956

Différence commune: -1

6. 661 654 647 640 633 626 619 612 605 598

Différence commune: -7

7. 464 462 460 458 456 454 452 450 448 446

Différence commune: -2

8. 622 620 618 616 614 612 610 608 606 604

Différence commune: -2

Droites Numériques (E)

Complétez cette droite numérique par les nombres manquants.

1.

Différence commune: _____

2.

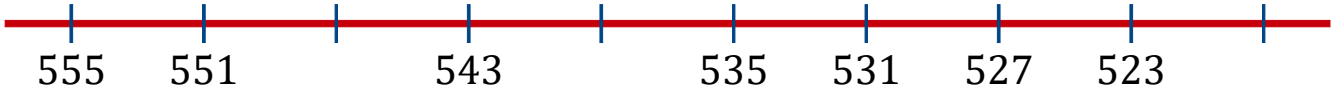

Différence commune: _____

3.

Différence commune: _____

4.

Différence commune: _____

5.

Différence commune: _____

6.



Différence commune: _____

7.

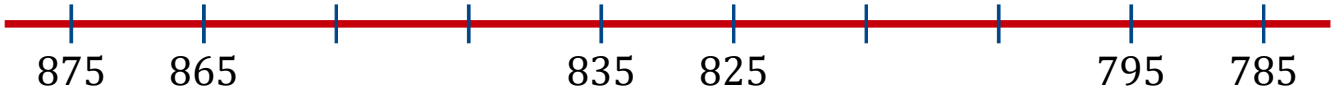

Différence commune: _____

8.

Différence commune: _____

Droites Numériques (E) Réponses

Complétez cette droite numérique par les nombres manquants.

1. 880 871 862 853 844 835 826 817 808 799

Différence commune: -9

2. 555 551 547 543 539 535 531 527 523 519

Différence commune: -4

3. 798 788 778 768 758 748 738 728 718 708

Différence commune: -10

4. 484 481 478 475 472 469 466 463 460 457

Différence commune: -3

5. 264 257 250 243 236 229 222 215 208 201

Différence commune: -7

6. 904 894 884 874 864 854 844 834 824 814

Différence commune: -10

7. 875 865 855 845 835 825 815 805 795 785

Différence commune: -10

8. 195 192 189 186 183 180 177 174 171 168

Différence commune: -3

Droites Numériques (F)

Complétez cette droite numérique par les nombres manquants.

1.

Différence commune: _____

2.

Différence commune: _____

3.

Différence commune: _____

4.

Différence commune: _____

5.



Différence commune: _____

6.

Différence commune: _____

7.

Différence commune: _____

8.

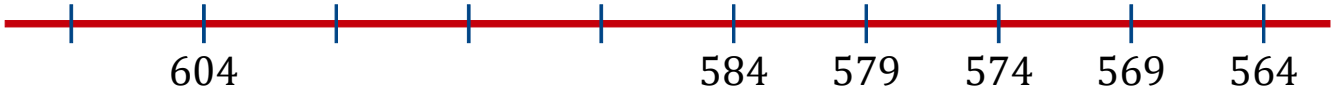

Différence commune: _____

Droites Numériques (F) Réponses

Complétez cette droite numérique par les nombres manquants.

1. 460 456 452 448 444 440 436 432 428 424

Différence commune: -4

2. 902 897 892 887 882 877 872 867 862 857

Différence commune: -5

3. 557 552 547 542 537 532 527 522 517 512

Différence commune: -5

4. 196 186 176 166 156 146 136 126 116 106

Différence commune: -10

5. 522 521 520 519 518 517 516 515 514 513

Différence commune: -1

6. 157 152 147 142 137 132 127 122 117 112

Différence commune: -5

7. 641 637 633 629 625 621 617 613 609 605

Différence commune: -4

8. 609 604 599 594 589 584 579 574 569 564

Différence commune: -5

Droites Numériques (G)

Complétez cette droite numérique par les nombres manquants.

1.

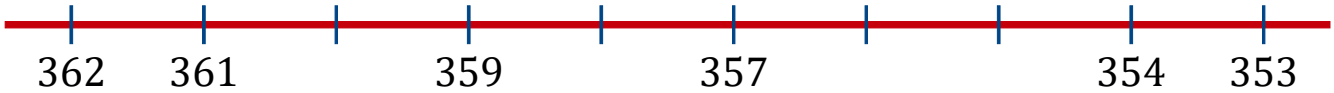

Différence commune: _____

2.

Différence commune: _____

3.

Différence commune: _____

4.

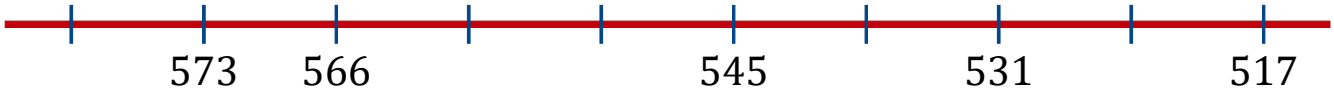

Différence commune: _____

5.

Différence commune: _____

6.

Différence commune: _____

7.

Différence commune: _____

8.

Différence commune: _____

Droites Numériques (G) Réponses

Complétez cette droite numérique par les nombres manquants.

1. 362 361 360 359 358 357 356 355 354 353

Différence commune: -1

2. 604 600 596 592 588 584 580 576 572 568

Différence commune: -4

3. 466 457 448 439 430 421 412 403 394 385

Différence commune: -9

4. 580 573 566 559 552 545 538 531 524 517

Différence commune: -7

5. 657 647 637 627 617 607 597 587 577 567

Différence commune: -10

6. 466 458 450 442 434 426 418 410 402 394

Différence commune: -8

7. 805 802 799 796 793 790 787 784 781 778

Différence commune: -3

8. 871 870 869 868 867 866 865 864 863 862

Différence commune: -1

Droites Numériques (H)

Complétez cette droite numérique par les nombres manquants.

1.

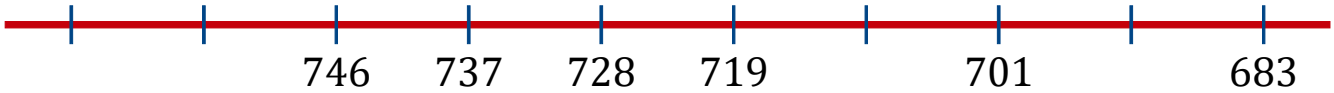

Différence commune: _____

2.

Différence commune: _____

3.

Différence commune: _____

4.

Différence commune: _____

5.

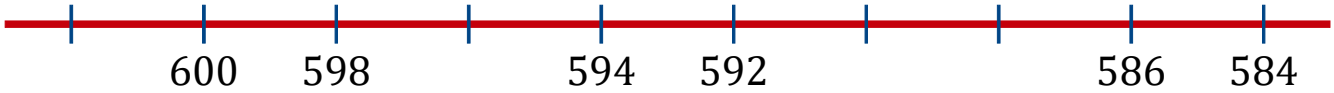

Différence commune: _____

6.

Différence commune: _____

7.

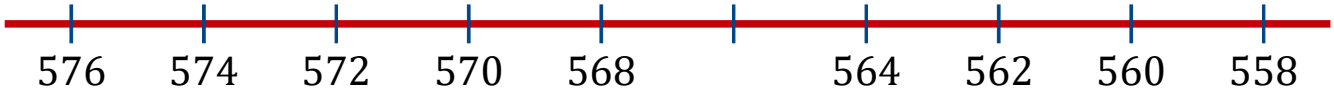

Différence commune: _____

8.

Différence commune: _____

Droites Numériques (H) Réponses

Complétez cette droite numérique par les nombres manquants.

1. 764 755 746 737 728 719 710 701 692 683

Différence commune: -9

2. 272 269 266 263 260 257 254 251 248 245

Différence commune: -3

3. 793 787 781 775 769 763 757 751 745 739

Différence commune: -6

4. 532 529 526 523 520 517 514 511 508 505

Différence commune: -3

5. 602 600 598 596 594 592 590 588 586 584

Différence commune: -2

6. 535 532 529 526 523 520 517 514 511 508

Différence commune: -3

7. 576 574 572 570 568 566 564 562 560 558

Différence commune: -2

8. 418 410 402 394 386 378 370 362 354 346

Différence commune: -8

Droites Numériques (I)

Complétez cette droite numérique par les nombres manquants.

1.

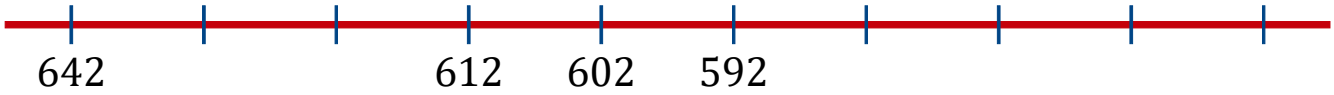

Différence commune: _____

2.

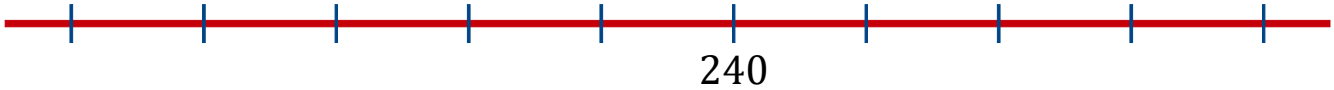

Différence commune: _____

3.

Différence commune: _____

4.

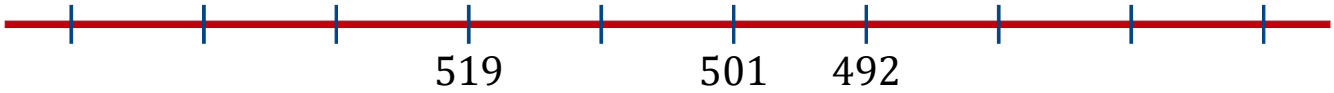

Différence commune: _____

5.

Différence commune: _____

6.

Différence commune: _____

7.

Différence commune: _____

8.

Différence commune: _____

Droites Numériques (I) Réponses

Complétez cette droite numérique par les nombres manquants.

1. 642 632 622 612 602 592 582 572 562 552

Différence commune: -10

2. 260 256 252 248 244 240 236 232 228 224

Différence commune: -4

3. 724 714 704 694 684 674 664 654 644 634

Différence commune: -10

4. 546 537 528 519 510 501 492 483 474 465

Différence commune: -9

5. 639 629 619 609 599 589 579 569 559 549

Différence commune: -10

6. 317 307 297 287 277 267 257 247 237 227

Différence commune: -10

7. 982 981 980 979 978 977 976 975 974 973

Différence commune: -1

8. 675 665 655 645 635 625 615 605 595 585

Différence commune: -10

Droites Numériques (J)

Complétez cette droite numérique par les nombres manquants.

1.

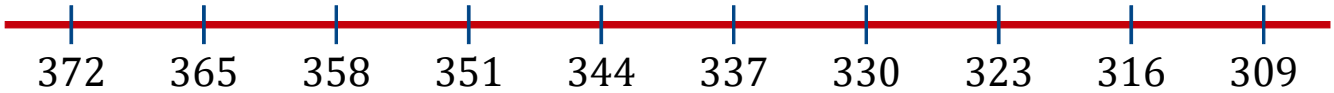

Différence commune: _____

2.

Différence commune: _____

3.



Différence commune: _____

4.

Différence commune: _____

5.



Différence commune: _____

6.

Différence commune: _____

7.

Différence commune: _____

8.



Différence commune: _____

Droites Numériques (J) Réponses

Complétez cette droite numérique par les nombres manquants.

1. 372 365 358 351 344 337 330 323 316 309

Différence commune: -7

2. 395 393 391 389 387 385 383 381 379 377

Différence commune: -2

3. 786 778 770 762 754 746 738 730 722 714

Différence commune: -8

4. 982 978 974 970 966 962 958 954 950 946

Différence commune: -4

5. 776 769 762 755 748 741 734 727 720 713

Différence commune: -7

6. 986 983 980 977 974 971 968 965 962 959

Différence commune: -3

7. 525 521 517 513 509 505 501 497 493 489

Différence commune: -4

8. 848 843 838 833 828 823 818 813 808 803

Différence commune: -5