# Droites Numériques (E)

Complétez cette droite numérique par les nombres manquants.

1.

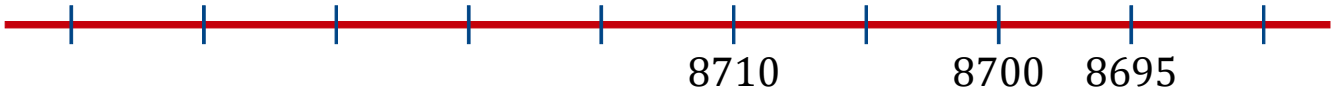


Différence commune: _____

2.

Différence commune: _____

3.

Différence commune: _____

4.

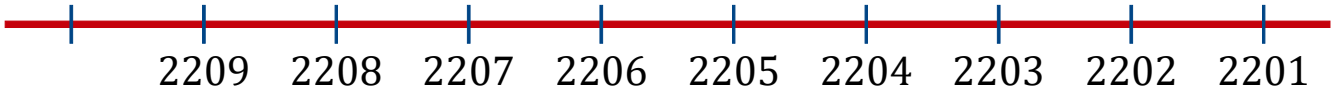


Différence commune: _____

5.

Différence commune: _____

6.

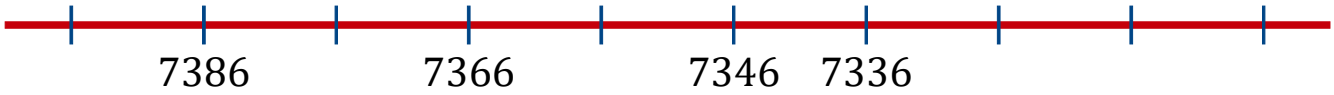


Différence commune: _____

7.

Différence commune: _____

8.




Différence commune: _____

# Droites Numériques (E) Réponses

Complétez cette droite numérique par les nombres manquants.

1. 8735 8730 8725 8720 8715 8710 8705 8700 8695 8690

Différence commune: -5

2. 6925 6917 6909 6901 6893 6885 6877 6869 6861 6853

Différence commune: -8

3. 7889 7886 7883 7880 7877 7874 7871 7868 7865 7862

Différence commune: -3

4. 2210 2209 2208 2207 2206 2205 2204 2203 2202 2201

Différence commune: -1

5. 6498 6492 6486 6480 6474 6468 6462 6456 6450 6444

Différence commune: -6

6. 7396 7386 7376 7366 7356 7346 7336 7326 7316 7306

Différence commune: -10

7. 4339 4329 4319 4309 4299 4289 4279 4269 4259 4249

Différence commune: -10

8. 2095 2094 2093 2092 2091 2090 2089 2088 2087 2086

Différence commune: -1