Droites Numériques (B)

Complétez cette droite numérique par les nombres manquants.

1.

Différence commune: _____

2.

Différence commune: _____

3.

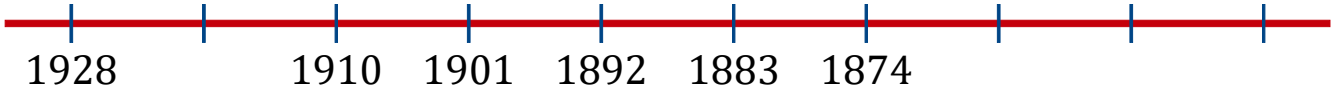

Différence commune: _____

4.

Différence commune: _____

5.

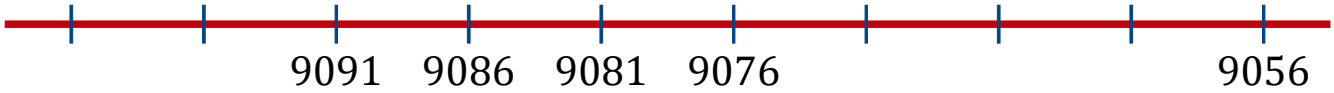

Différence commune: _____

6.

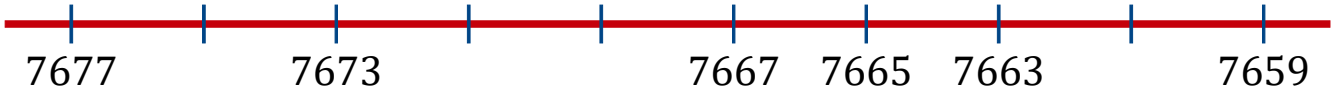

Différence commune: _____

7.

Différence commune: _____

8.

Différence commune: _____

Droites Numériques (B) Réponses

Complétez cette droite numérique par les nombres manquants.

1. 3346 3343 3340 3337 3334 3331 3328 3325 3322 3319

Différence commune: -3

2. 7824 7817 7810 7803 7796 7789 7782 7775 7768 7761

Différence commune: -7

3. 1928 1919 1910 1901 1892 1883 1874 1865 1856 1847

Différence commune: -9

4. 6446 6436 6426 6416 6406 6396 6386 6376 6366 6356

Différence commune: -10

5. 9101 9096 9091 9086 9081 9076 9071 9066 9061 9056

Différence commune: -5

6. 7677 7675 7673 7671 7669 7667 7665 7663 7661 7659

Différence commune: -2

7. 3869 3867 3865 3863 3861 3859 3857 3855 3853 3851

Différence commune: -2

8. 7227 7224 7221 7218 7215 7212 7209 7206 7203 7200

Différence commune: -3