Séquence de Nombres Linéaires (G)

Remplissez les nombres qui manquent de chaque nombre linéaire.

1. 

Différence commune: _____

2.

Différence commune: _____

3.

Différence commune: _____

4.

Différence commune: _____

5. 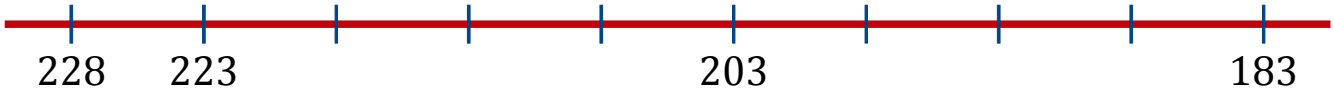

Différence commune: _____

6. 

Différence commune: _____

7. 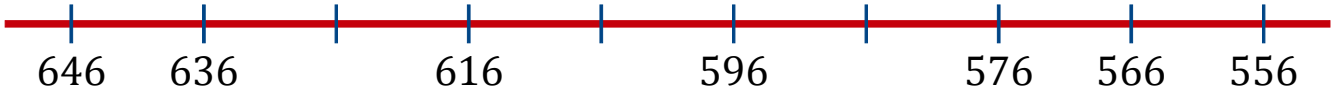

Différence commune: _____

8.

Différence commune: _____