Séquence de Nombres Linéaires (D)

Remplissez les nombres qui manquent de chaque nombre linéaire.

1. 

Différence commune: _____

2.

Différence commune: _____

3.

Différence commune: _____

4. 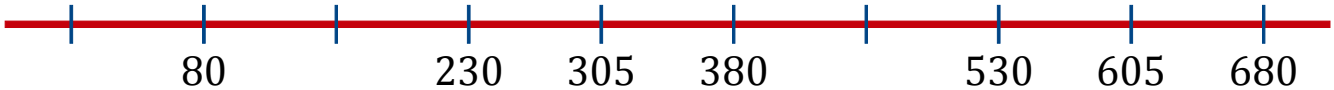

Différence commune: _____

5.

Différence commune: _____

6. 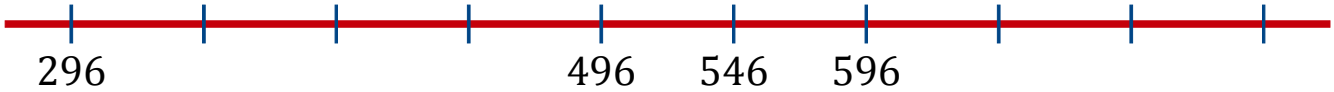

Différence commune: _____

7.

Différence commune: _____

8.

Différence commune: _____

Séquence de Nombres Linéaires (D) Réponses

Remplissez les nombres qui manquent de chaque nombre linéaire.

1. 97 197 297 397 497 597 697 797 897 997

Différence commune: 100

2. 187 262 337 412 487 562 637 712 787 862

Différence commune: 75

3. 349 354 359 364 369 374 379 384 389 394

Différence commune: 5

4. 5 80 155 230 305 380 455 530 605 680

Différence commune: 75

5. 56 61 66 71 76 81 86 91 96 101

Différence commune: 5

6. 296 346 396 446 496 546 596 646 696 746

Différence commune: 50

7. 237 242 247 252 257 262 267 272 277 282

Différence commune: 5

8. 61 66 71 76 81 86 91 96 101 106

Différence commune: 5