Séquence de Nombres Linéaires (H)

Remplissez les nombres qui manquent de chaque nombre linéaire.

1.

Différence commune: _____

2.

Différence commune: _____

3. 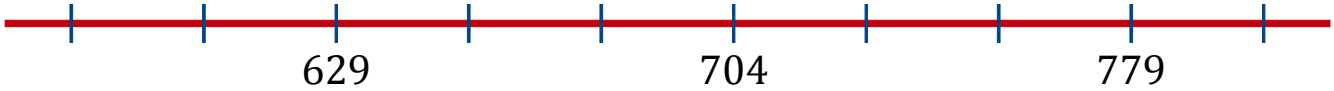

Différence commune: _____

4. 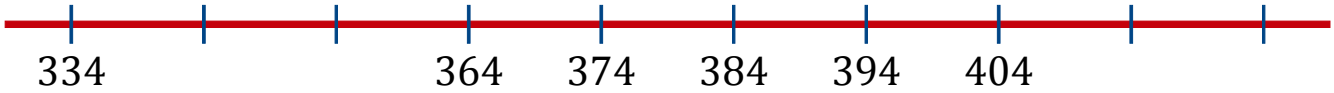

Différence commune: _____

5.

Différence commune: _____

6.

Différence commune: _____

7. 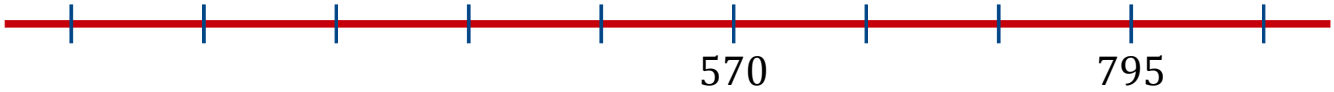

Différence commune: _____

8. 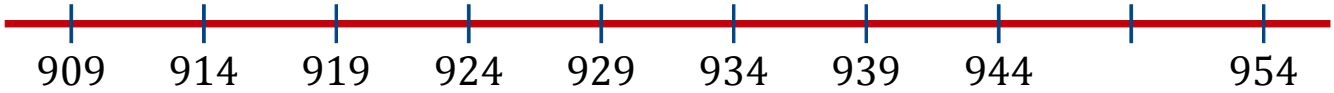

Différence commune: _____