Séquence de Nombres Linéaires (H)

Remplissez les nombres qui manquent de chaque nombre linéaire.

1.

Différence commune: _____

2.

Différence commune: _____

3. 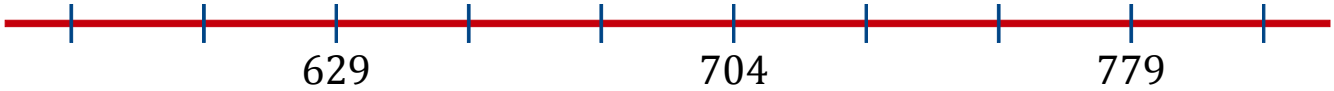

Différence commune: _____

4. 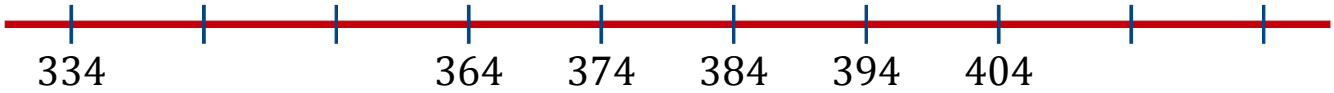

Différence commune: _____

5.

Différence commune: _____

6.

Différence commune: _____

7. 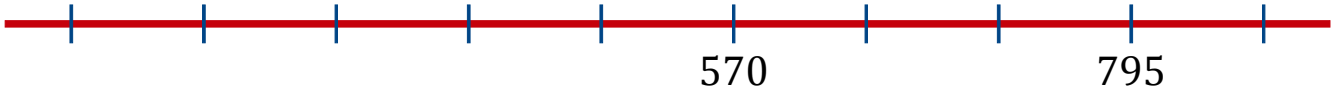

Différence commune: _____

8. 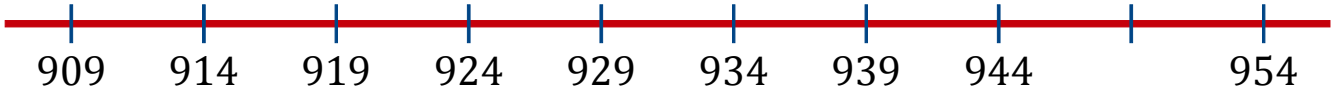

Différence commune: _____

Séquence de Nombres Linéaires (H) Réponses

Remplissez les nombres qui manquent de chaque nombre linéaire.

1. 661 671 681 691 701 711 721 731 741 751

Différence commune: 10

2. 254 304 354 404 454 504 554 604 654 704

Différence commune: 50

3. 579 604 629 654 679 704 729 754 779 804

Différence commune: 25

4. 334 344 354 364 374 384 394 404 414 424

Différence commune: 10

5. 100 200 300 400 500 600 700 800 900 1000

Différence commune: 100

6. 231 306 381 456 531 606 681 756 831 906

Différence commune: 75

7. 195 270 345 420 495 570 645 720 795 870

Différence commune: 75

8. 909 914 919 924 929 934 939 944 949 954

Différence commune: 5