Séquence de Nombres Linéaires (C)

Remplissez les nombres qui manquent de chaque nombre linéaire.

1.

Différence commune: _____

2.

Différence commune: _____

3. 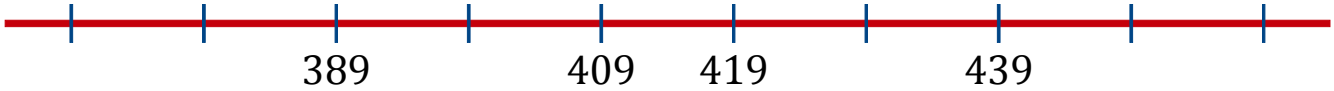

Différence commune: _____

4.

Différence commune: _____

5. 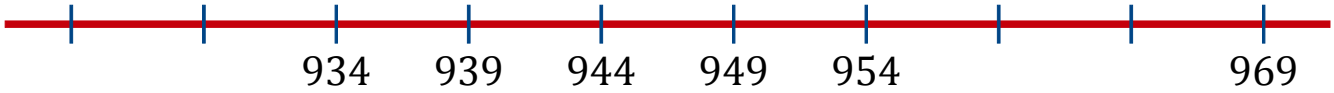

Différence commune: _____

6. 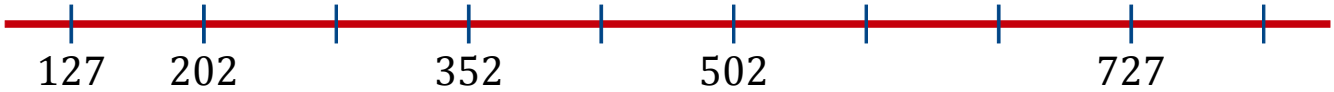

Différence commune: _____

7. 

Différence commune: _____

8.

Différence commune: _____

Séquence de Nombres Linéaires (C) Réponses

Remplissez les nombres qui manquent de chaque nombre linéaire.

1. 280 355 430 505 580 655 730 805 880 955

Différence commune: 75

2. 424 429 434 439 444 449 454 459 464 469

Différence commune: 5

3. 369 379 389 399 409 419 429 439 449 459

Différence commune: 10

4. 100 200 300 400 500 600 700 800 900 1000

Différence commune: 100

5. 924 929 934 939 944 949 954 959 964 969

Différence commune: 5

6. 127 202 277 352 427 502 577 652 727 802

Différence commune: 75

7. 612 637 662 687 712 737 762 787 812 837

Différence commune: 25

8. 100 200 300 400 500 600 700 800 900 1000

Différence commune: 100