Compter des bonbons en forme de cœurs (H)

Nom: _____ Date: _____

Comptes combien de bonbons en forme de cœurs il y a dans chaque groupe.

1. Il y a _____ cœurs oranges dans le groupe ci-dessous.



2. Il y a _____ cœurs oranges dans le groupe ci-dessous.

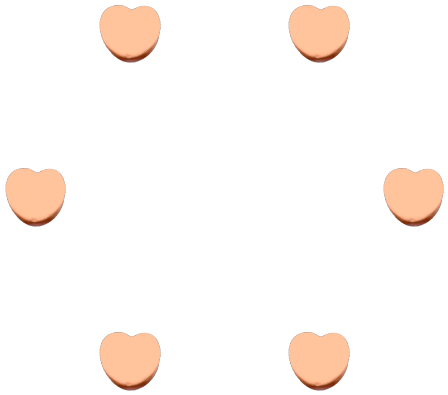

3. Il y a _____ cœurs bleus dans le groupe ci-dessous.



4. Il y a _____ cœurs roses dans le groupe ci-dessous.

Compter des bonbons en forme de cœurs (H) Réponses

Nom: _____ Date: _____

Comptes combien de bonbons en forme de cœurs il y a dans chaque groupe.

1. Il y a __72__ cœurs oranges dans le groupe ci-dessous.



2. Il y a __6__ cœurs oranges dans le groupe ci-dessous.

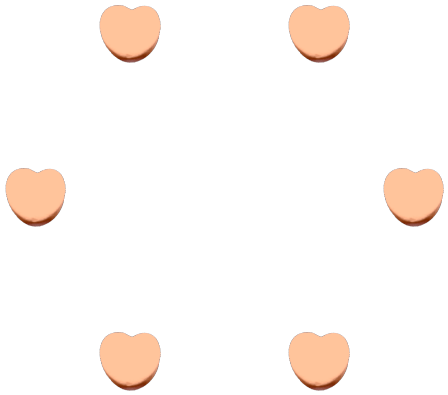

3. Il y a __4__ cœurs bleus dans le groupe ci-dessous.



4. Il y a __29__ cœurs roses dans le groupe ci-dessous.