Compter des bonbons en forme de cœurs (C)

Nom: _____ Date: _____

Comptes combien de bonbons en forme de cœurs il y a dans chaque groupe.

1. Il y a _____ cœurs oranges dans le groupe ci-dessous.

2. Il y a _____ cœurs roses dans le groupe ci-dessous.



3. Il y a _____ cœurs oranges dans le groupe ci-dessous.

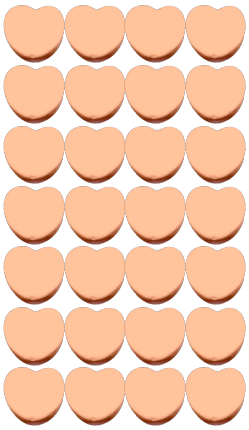

4. Il y a _____ cœurs bleus dans le groupe ci-dessous.



Compter des bonbons en forme de cœurs (C) Réponses

Nom: _____ Date: _____

Comptes combien de bonbons en forme de cœurs il y a dans chaque groupe.

1. Il y a __6__ cœurs oranges dans le groupe ci-dessous.

2. Il y a __72__ cœurs roses dans le groupe ci-dessous.



3. Il y a __28__ cœurs oranges dans le groupe ci-dessous.

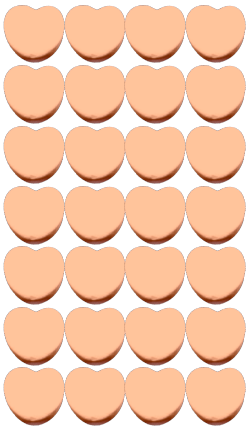

4. Il y a __10__ cœurs bleus dans le groupe ci-dessous.