Compter des bonbons en forme de cœurs (F)

Nom: _____ Date: _____

Comptes combien de bonbons en forme de cœurs il y a dans chaque groupe.

1. Il y a _____ cœurs oranges dans le groupe ci-dessous.

2. Il y a _____ cœurs bleus dans le groupe ci-dessous.



3. Il y a _____ cœurs roses dans le groupe ci-dessous.



4. Il y a _____ cœurs oranges dans le groupe ci-dessous.

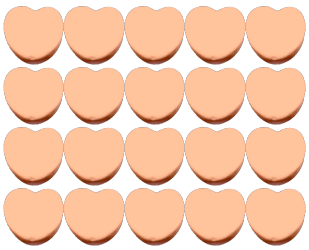

Compter des bonbons en forme de cœurs (F) Réponses

Nom: _____ Date: _____

Comptes combien de bonbons en forme de cœurs il y a dans chaque groupe.

1. Il y a __6__ cœurs oranges dans le groupe ci-dessous.

2. Il y a __6__ cœurs bleus dans le groupe ci-dessous.



3. Il y a __20__ cœurs roses dans le groupe ci-dessous.


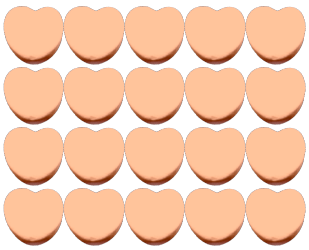
4. Il y a __20__ cœurs oranges dans le groupe ci-dessous.