Compter des bonbons en forme de cœurs (I)

Nom: _____ Date: _____

Comptes combien de bonbons en forme de cœurs il y a dans chaque groupe.

1. Il y a _____ cœurs oranges dans le groupe ci-dessous.



2. Il y a _____ cœurs bleus dans le groupe ci-dessous.



3. Il y a _____ cœurs oranges dans le groupe ci-dessous.



4. Il y a _____ cœurs roses dans le groupe ci-dessous.



Compter des bonbons en forme de cœurs (I) Réponses

Nom: _____ Date: _____

Comptes combien de bonbons en forme de cœurs il y a dans chaque groupe.

1. Il y a __6__ cœurs oranges dans le groupe ci-dessous.



2. Il y a __6__ cœurs bleus dans le groupe ci-dessous.



3. Il y a __5__ cœurs oranges dans le groupe ci-dessous.



4. Il y a __7__ cœurs roses dans le groupe ci-dessous.