COMPTAGE DES ŒUX DE PÂQUES (F)

Combien d'œux de Pâques y a-t-il dans chaque groupe?

1. Il y a _____ œux de Pâques dans le groupe ci-dessous.

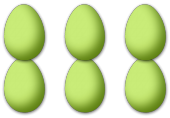

2. Il y a _____ œux de Pâques dans le groupe ci-dessous.



3. Il y a _____ œux de Pâques dans le groupe ci-dessous.

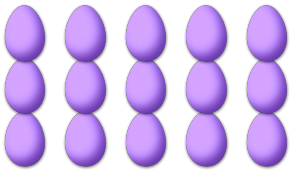

4. Il y a _____ œux de Pâques dans le groupe ci-dessous.



5. Il y a _____ œux de Pâques dans le groupe ci-dessous.



6. Il y a _____ œux de Pâques dans le groupe ci-dessous.



Comptage des œux de Pâques (F) Réponses

Combien d'œux de Pâques y a-t-il dans chaque groupe?

1. Il y a __6__ œux de Pâques dans le groupe ci-dessous.

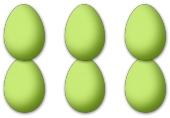

2. Il y a __30__ œux de Pâques dans le groupe ci-dessous.



3. Il y a __15__ œux de Pâques dans le groupe ci-dessous.

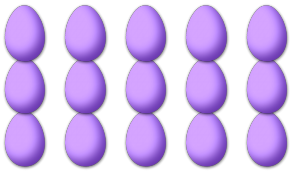

4. Il y a __24__ œux de Pâques dans le groupe ci-dessous.



5. Il y a __35__ œux de Pâques dans le groupe ci-dessous.



6. Il y a __28__ œux de Pâques dans le groupe ci-dessous.



MathsLibres.com vous souhaite une heureuse Pâques!