Comptage de Monnaie des États-Unis. (A)

Faites le total de chaque collection de pièces de monnaie ci-dessous.

1.

_____

2.



_____

3.



_____

Images de pièces de monnaie provenantes de la Monnaie des États-Unis.

Comptage de Monnaie des États-Unis. (A) Solutions

Faites le total de chaque collection de pièces de monnaie ci-dessous.

1.

4,80 $

2.



4,48 $

3.



5,00 $

Images de pièces de monnaie provenantes de la Monnaie des États-Unis.

Comptage de Monnaie des États-Unis. (B)

Faites le total de chaque collection de pièces de monnaie ci-dessous.

1.



_____

2.

_____

3.



_____

Images de pièces de monnaie provenantes de la Monnaie des États-Unis.

Comptage de Monnaie des États-Unis. (B) Solutions

Faites le total de chaque collection de pièces de monnaie ci-dessous.

1.



4,30 $

2.

3,22 $

3.



4,77 $

Images de pièces de monnaie provenantes de la Monnaie des États-Unis.

Comptage de Monnaie des États-Unis. (C)

Faites le total de chaque collection de pièces de monnaie ci-dessous.

1.

_____

2.



_____

3.



_____

Images de pièces de monnaie provenantes de la Monnaie des États-Unis.

Comptage de Monnaie des États-Unis. (C) Solutions

Faites le total de chaque collection de pièces de monnaie ci-dessous.

1.

3,59 $

2.



4,15 $

3.



4,92 $

Images de pièces de monnaie provenantes de la Monnaie des États-Unis.

Comptage de Monnaie des États-Unis. (D)

Faites le total de chaque collection de pièces de monnaie ci-dessous.

1.



_____

2.

_____

3.

_____

Images de pièces de monnaie provenantes de la Monnaie des États-Unis.

Comptage de Monnaie des États-Unis. (D) Solutions

Faites le total de chaque collection de pièces de monnaie ci-dessous.

1.

4,44 $

2.

5,23 $

3.

5,40 $

Images de pièces de monnaie provenantes de la Monnaie des États-Unis.

Comptage de Monnaie des États-Unis. (E)

Faites le total de chaque collection de pièces de monnaie ci-dessous.

1.

_____

2.



_____

3.



_____

Images de pièces de monnaie provenantes de la Monnaie des États-Unis.

Comptage de Monnaie des États-Unis. (E) Solutions

Faites le total de chaque collection de pièces de monnaie ci-dessous.

1.

4,44 $

2.



3,57 $

3.



4,77 $

Images de pièces de monnaie provenantes de la Monnaie des États-Unis.

Comptage de Monnaie des États-Unis. (F)

Faites le total de chaque collection de pièces de monnaie ci-dessous.

1.

_____

2.



_____

3.

_____

Images de pièces de monnaie provenantes de la Monnaie des États-Unis.

Comptage de Monnaie des États-Unis. (F) Solutions

Faites le total de chaque collection de pièces de monnaie ci-dessous.

1.

5,79 $

2.

5,40 $

3.

5,83 $

Images de pièces de monnaie provenantes de la Monnaie des États-Unis.

Comptage de Monnaie des États-Unis. (G)

Faites le total de chaque collection de pièces de monnaie ci-dessous.

1.



_____

2.

_____

3.



_____

Images de pièces de monnaie provenantes de la Monnaie des États-Unis.

Comptage de Monnaie des États-Unis. (G) Solutions

Faites le total de chaque collection de pièces de monnaie ci-dessous.

1.



3,61 $

2.



3,70 $

3.

3,98 $

Images de pièces de monnaie provenantes de la Monnaie des États-Unis.

Comptage de Monnaie des États-Unis. (H)

Faites le total de chaque collection de pièces de monnaie ci-dessous.

1.



_____

2.

_____

3.

_____

Images de pièces de monnaie provenantes de la Monnaie des États-Unis.

Comptage de Monnaie des États-Unis. (H) Solutions

Faites le total de chaque collection de pièces de monnaie ci-dessous.

1.

3,20 $

2.

4,43 $

3.

4,08 $

Images de pièces de monnaie provenantes de la Monnaie des États-Unis.

Comptage de Monnaie des États-Unis. (I)

Faites le total de chaque collection de pièces de monnaie ci-dessous.

1.

_____

2.



_____

3.



_____

Images de pièces de monnaie provenantes de la Monnaie des États-Unis.

Comptage de Monnaie des États-Unis. (I) Solutions

Faites le total de chaque collection de pièces de monnaie ci-dessous.

1.



2,45 $

2.

3,88 $

3.



2,95 $

Images de pièces de monnaie provenantes de la Monnaie des États-Unis.

Comptage de Monnaie des États-Unis. (J)

Faites le total de chaque collection de pièces de monnaie ci-dessous.

1.

_____

2.

_____

3.

_____

Images de pièces de monnaie provenantes de la Monnaie des États-Unis.

Comptage de Monnaie des États-Unis. (J) Solutions

Faites le total de chaque collection de pièces de monnaie ci-dessous.

1.

5,37 $

2.



4,50 $

3.



3,57 $

Images de pièces de monnaie provenantes de la Monnaie des États-Unis.