Comptage de Monnaie des États-Unis. (A)

Faites le total de chaque collection de pièces de monnaie ci-dessous.

1.

2.

3.

Images de pièces de monnaie provenantes de la Monnaie des États-Unis.

Comptage de Monnaie des États-Unis. (A) Solutions

Faites le total de chaque collection de pièces de monnaie ci-dessous.

1.

0,84 $

2.

1,06 $

3.

1,01 $

Images de pièces de monnaie provenantes de la Monnaie des États-Unis.

Comptage de Monnaie des États-Unis. (B)

Faites le total de chaque collection de pièces de monnaie ci-dessous.

1.

_____

2.

_____

3.

_____

Images de pièces de monnaie provenantes de la Monnaie des États-Unis.

Comptage de Monnaie des États-Unis. (B) Solutions

Faites le total de chaque collection de pièces de monnaie ci-dessous.

1.



0,60 $

2.

1,19 $

3.



1,72 $

Images de pièces de monnaie provenantes de la Monnaie des États-Unis.

Comptage de Monnaie des États-Unis. (C)

Faites le total de chaque collection de pièces de monnaie ci-dessous.

1.



_____

2.

_____

3.

_____

Images de pièces de monnaie provenantes de la Monnaie des États-Unis.

Comptage de Monnaie des États-Unis. (C) Solutions

Faites le total de chaque collection de pièces de monnaie ci-dessous.

1.



1,52 $

2.

1,14 $

3.

1,03 $

Images de pièces de monnaie provenantes de la Monnaie des États-Unis.

Comptage de Monnaie des États-Unis. (D)

Faites le total de chaque collection de pièces de monnaie ci-dessous.

1.

_____

2.

_____

3.

_____

Images de pièces de monnaie provenantes de la Monnaie des États-Unis.

Comptage de Monnaie des États-Unis. (D) Solutions

Faites le total de chaque collection de pièces de monnaie ci-dessous.

1.

0,82 $

2.



1,33 $

3.

1,16 $

Images de pièces de monnaie provenantes de la Monnaie des États-Unis.

Comptage de Monnaie des États-Unis. (E)

Faites le total de chaque collection de pièces de monnaie ci-dessous.

1.

_____

2.

_____

3.

_____

Images de pièces de monnaie provenantes de la Monnaie des États-Unis.

Comptage de Monnaie des États-Unis. (E) Solutions

Faites le total de chaque collection de pièces de monnaie ci-dessous.

1.

1,40 $

2.

1,70 $

3.

1,45 $

Images de pièces de monnaie provenantes de la Monnaie des États-Unis.

Comptage de Monnaie des États-Unis. (F)

Faites le total de chaque collection de pièces de monnaie ci-dessous.

1.

_____

2.

_____

3.



_____

Images de pièces de monnaie provenantes de la Monnaie des États-Unis.

Comptage de Monnaie des États-Unis. (F) Solutions

Faites le total de chaque collection de pièces de monnaie ci-dessous.

1.

0,85 $

2.

0,61 $

3.



0,95 $

Images de pièces de monnaie provenantes de la Monnaie des États-Unis.

Comptage de Monnaie des États-Unis. (G)

Faites le total de chaque collection de pièces de monnaie ci-dessous.

1.

_____

2.

_____

3.



_____

Images de pièces de monnaie provenantes de la Monnaie des États-Unis.

Comptage de Monnaie des États-Unis. (G) Solutions

Faites le total de chaque collection de pièces de monnaie ci-dessous.

1.



1,81 $

2.

1,04 $

3.



1,87 $

Images de pièces de monnaie provenantes de la Monnaie des États-Unis.

Comptage de Monnaie des États-Unis. (H)

Faites le total de chaque collection de pièces de monnaie ci-dessous.

1.

_____

2.

_____

3.

_____

Images de pièces de monnaie provenantes de la Monnaie des États-Unis.

Comptage de Monnaie des États-Unis. (H) Solutions

Faites le total de chaque collection de pièces de monnaie ci-dessous.

1.

1,07 $

2.

1,27 $

3.

0,71 $

Images de pièces de monnaie provenantes de la Monnaie des États-Unis.

Comptage de Monnaie des États-Unis. (I)

Faites le total de chaque collection de pièces de monnaie ci-dessous.

1.

_____

2.

_____

3.



_____

Images de pièces de monnaie provenantes de la Monnaie des États-Unis.

Comptage de Monnaie des États-Unis. (I) Solutions

Faites le total de chaque collection de pièces de monnaie ci-dessous.

1.

0,99 $

2.



1,78 $

3.

1,53 $

Images de pièces de monnaie provenantes de la Monnaie des États-Unis.

Comptage de Monnaie des États-Unis. (J)

Faites le total de chaque collection de pièces de monnaie ci-dessous.

1.

_____

2.

_____

3.

_____

Images de pièces de monnaie provenantes de la Monnaie des États-Unis.

Comptage de Monnaie des États-Unis. (J) Solutions

Faites le total de chaque collection de pièces de monnaie ci-dessous.

1.

0,72 $

2.



1,36 $

3.

1,39 $

Images de pièces de monnaie provenantes de la Monnaie des États-Unis.