# Comptage de Monnaie des États-Unis. (I)

Faites le total de chaque collection de pièces de monnaie ci-dessous.

1.

_____

2.



_____

3.



_____

Images de pièces de monnaie provenantes de la Monnaie des États-Unis.

# Comptage de Monnaie des États-Unis. (I) Solutions

Faites le total de chaque collection de pièces de monnaie ci-dessous.

1.



2,45 $

2.

3,88 $

3.



2,95 $

Images de pièces de monnaie provenantes de la Monnaie des États-Unis.