Mesurer la longueur (I)

Nom: _____ Date: _____ Note: _____

Veuillez mesurer la longueur de chaque barre au **centimètre** le plus près.

1. Longueur de la barre:



2. Longueur de la barre:

3. Longueur de la barre:



4. Longueur de la barre:

5. Longueur de la barre:

6. Longueur de la barre:



7. Longueur de la barre:

8. Longueur de la barre:

9. Longueur de la barre:



10. Longueur de la barre:

Mesurer la longueur (I) Réponses

Nom: _____ Date: _____ Note: _____

Veuillez mesurer la longueur de chaque barre au **centimètre** le plus près.

1. Longueur de la barre: 14 cm



2. Longueur de la barre: 11 cm

3. Longueur de la barre: 16 cm



4. Longueur de la barre: 10 cm

5. Longueur de la barre: 9 cm

6. Longueur de la barre: 3 cm



7. Longueur de la barre: 8 cm

8. Longueur de la barre: 7 cm

9. Longueur de la barre: 6 cm



10. Longueur de la barre: 5 cm