Comptage de Chapeaux des Leprechauns (E)

Comptez combien de chapeaux des Leprechauns sont dans chaque groupe?

1. Il y a _____ chapeaux des Leprechauns dans le groupe ci-dessous.



2. Il y a _____ chapeaux des Leprechauns dans le groupe ci-dessous.



3. Il y a _____ chapeaux des Leprechauns dans le groupe ci-dessous.

4. Il y a _____ chapeaux des Leprechauns dans le groupe ci-dessous.



5. Il y a _____ chapeaux des Leprechauns dans le groupe ci-dessous.

6. Il y a _____ chapeaux des Leprechauns dans le groupe ci-dessous.