Translations (A)

Dessinez l'image finale et les étapes intermédiaires de la translation décrite.

Déplacement de la figure par (-4, -1).
Déplacement de la figure par (5, 4).
Déplacement de la figure par (-4, -2).

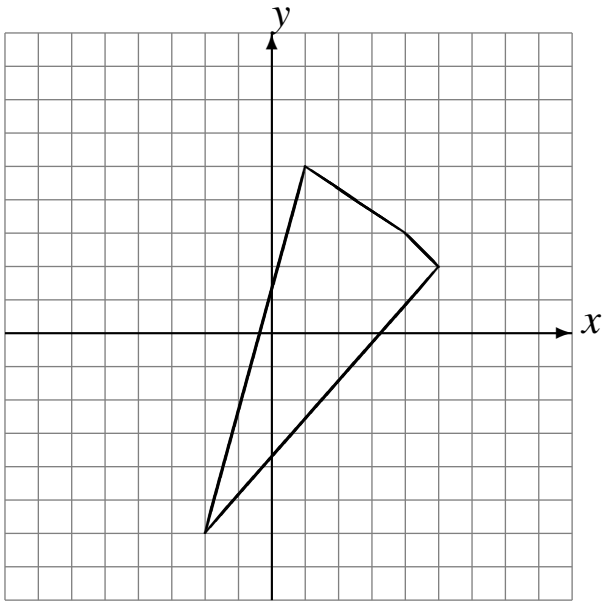

Déplacement de la figure par (3, -2).
Déplacement de la figure par (4, -4).
Déplacement de la figure par (4, 1).

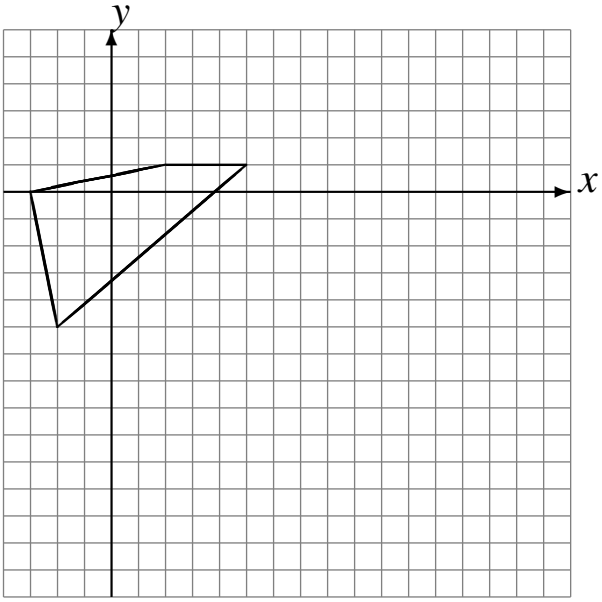

Déplacement de la figure par (3, -2).
Déplacement de la figure par (2, 3).
Déplacement de la figure par (0, 3).

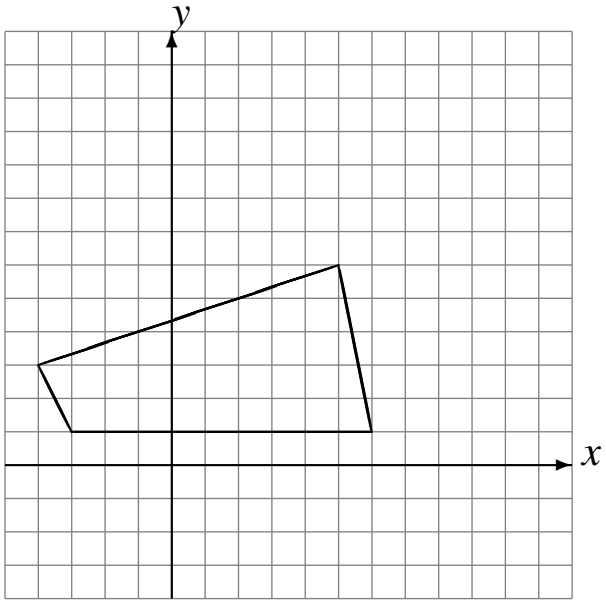

Déplacement de la figure par (3, 4).
Déplacement de la figure par (-1, -2).
Déplacement de la figure par (4, -2).

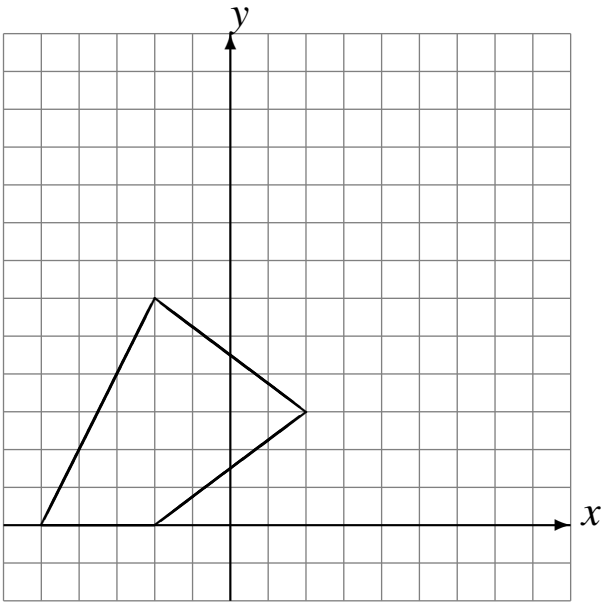

Translations (A) Solutions

Dessinez l'image finale et les étapes intermédiaires de la translation décrite.

Déplacement de la figure par (-4, -1).
Déplacement de la figure par (5, 4).
Déplacement de la figure par (-4, -2).

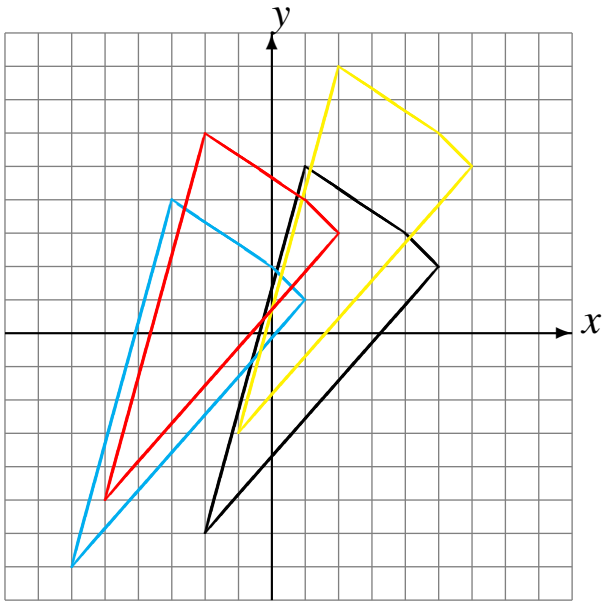

Déplacement de la figure par (3, -2).
Déplacement de la figure par (4, -4).
Déplacement de la figure par (4, 1).

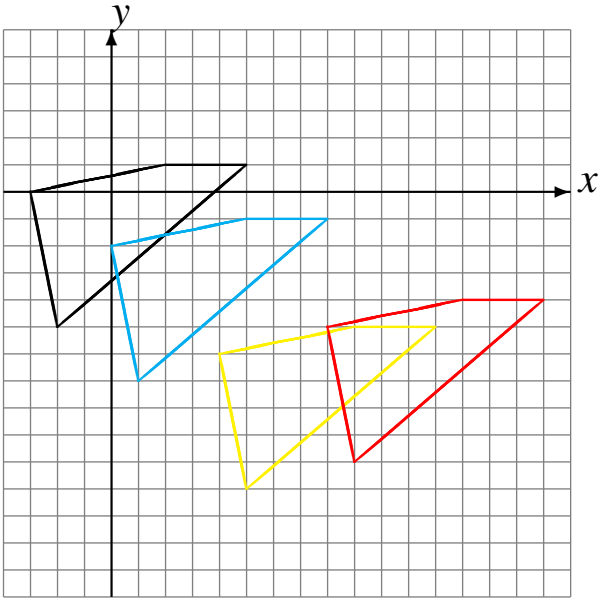

Déplacement de la figure par (3, -2).
Déplacement de la figure par (2, 3).
Déplacement de la figure par (0, 3).

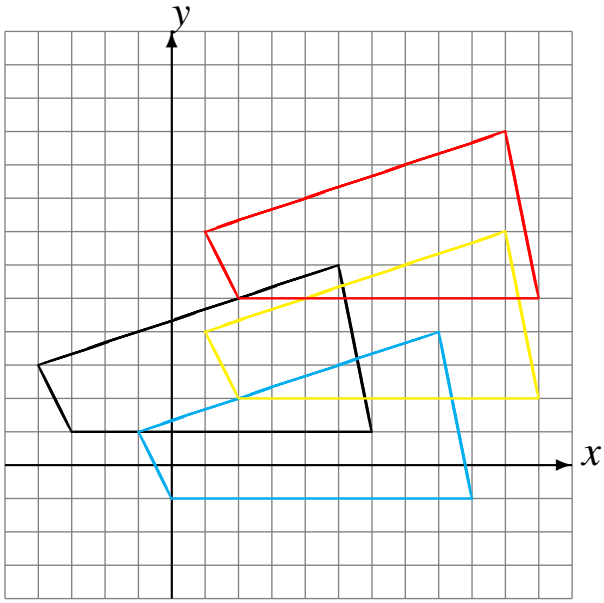

Déplacement de la figure par (3, 4).
Déplacement de la figure par (-1, -2).
Déplacement de la figure par (4, -2).

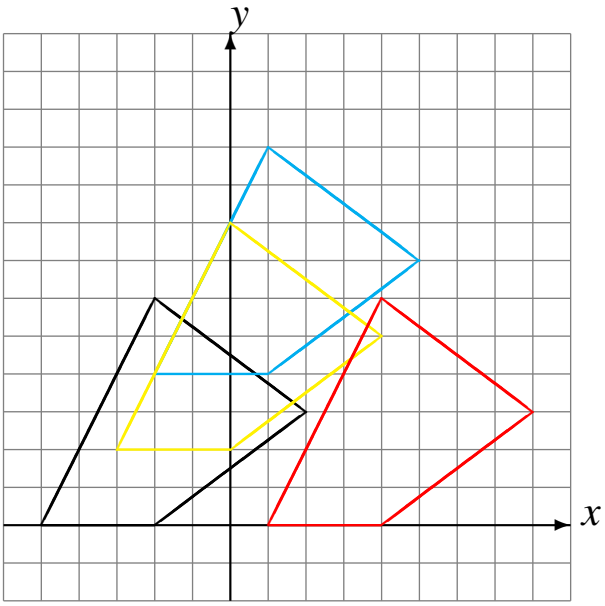

Translations (B)

Dessinez l'image finale et les étapes intermédiaires de la translation décrite.

Déplacement de la figure par (-2, -1).
Déplacement de la figure par (-3, 0).
Déplacement de la figure par (-4, 1).

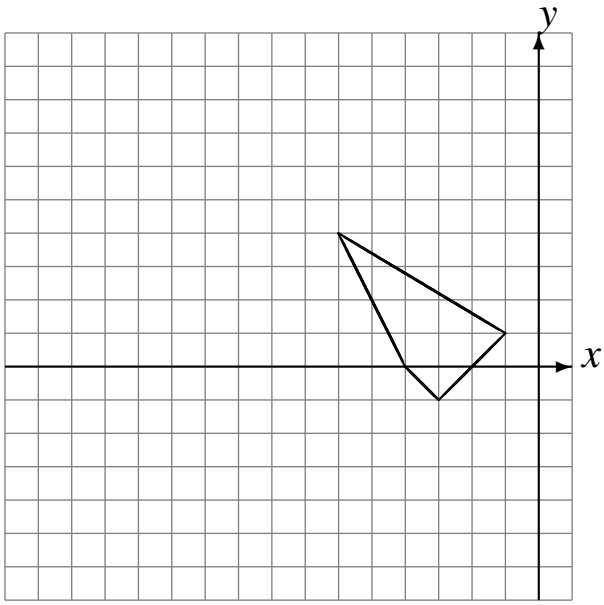

Déplacement de la figure par (2, -6).
Déplacement de la figure par (4, 5).
Déplacement de la figure par (-2, -3).

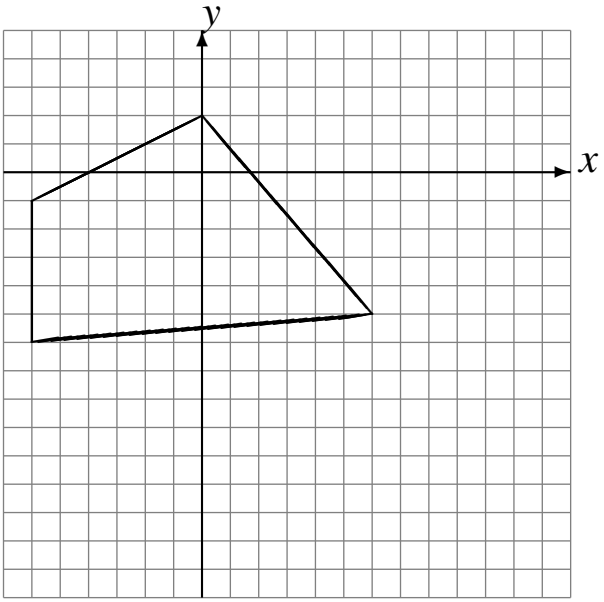

Déplacement de la figure par (-5, -1).
Déplacement de la figure par (1, -2).
Déplacement de la figure par (4, -2).

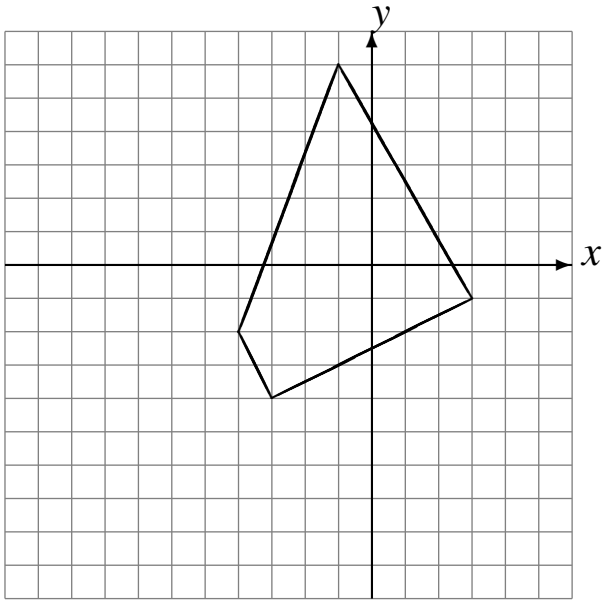

Déplacement de la figure par (2, -2).
Déplacement de la figure par (4, 5).
Déplacement de la figure par (0, -5).

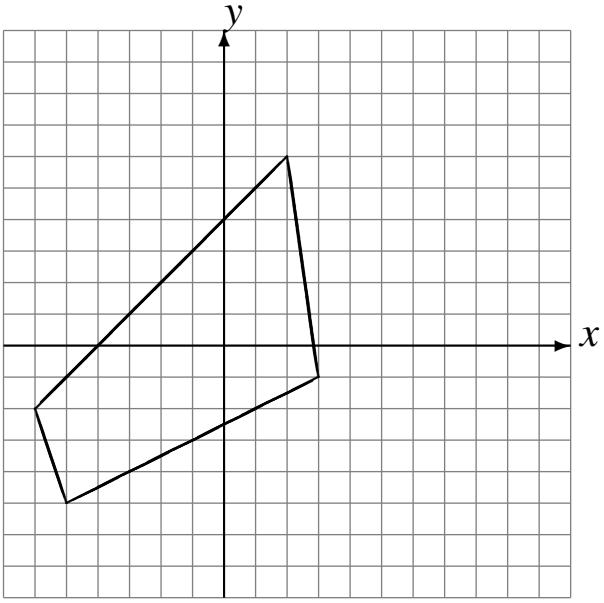

Translations (B) Solutions

Dessinez l'image finale et les étapes intermédiaires de la translation décrite.

Déplacement de la figure par (-2, -1).
Déplacement de la figure par (-3, 0).
Déplacement de la figure par (-4, 1).

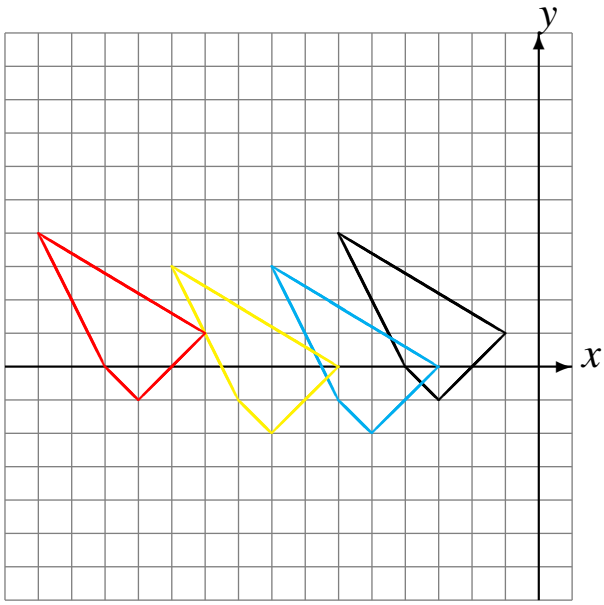

Déplacement de la figure par (2, -6).
Déplacement de la figure par (4, 5).
Déplacement de la figure par (-2, -3).

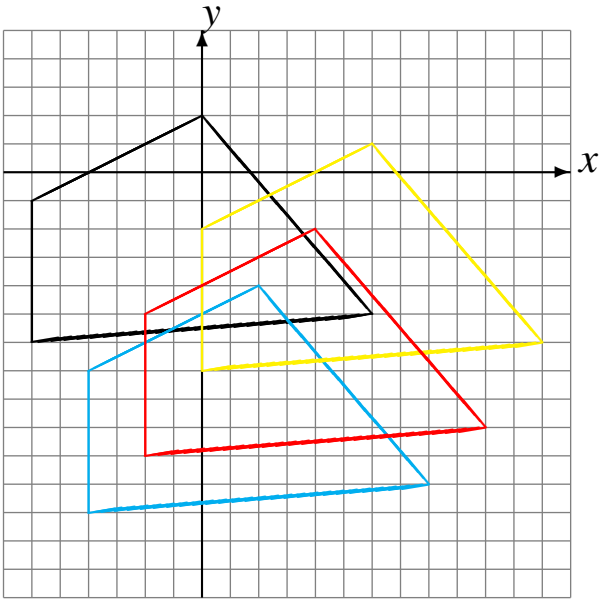

Déplacement de la figure par (-5, -1).
Déplacement de la figure par (1, -2).
Déplacement de la figure par (4, -2).

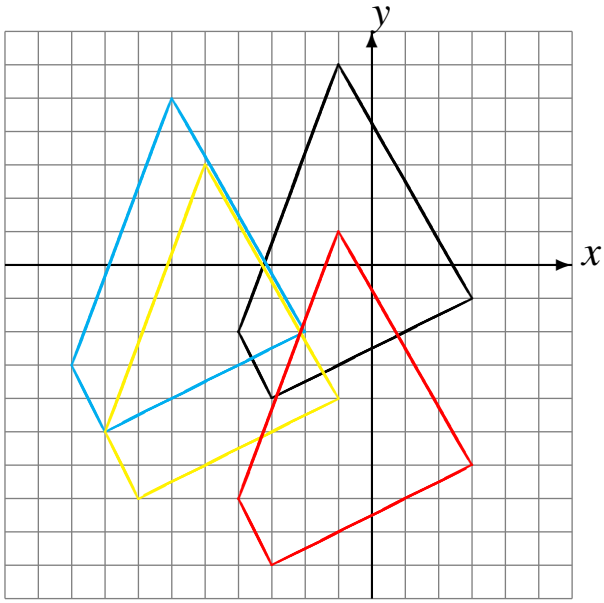

Déplacement de la figure par (2, -2).
Déplacement de la figure par (4, 5).
Déplacement de la figure par (0, -5).

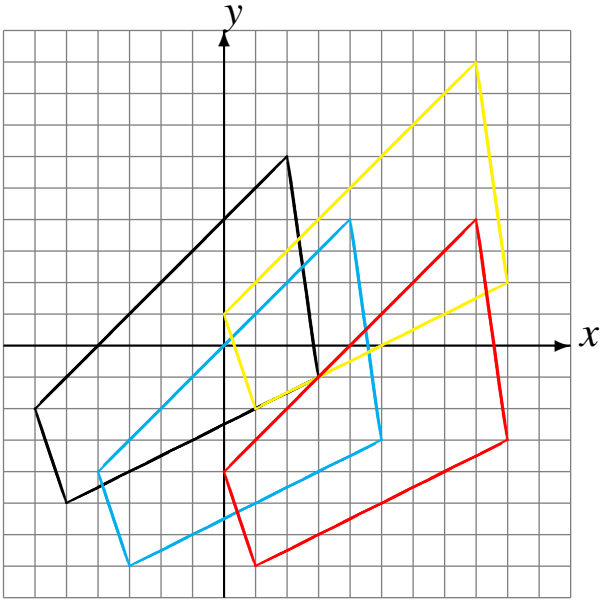

Translations (C)

Dessinez l'image finale et les étapes intermédiaires de la translation décrite.

Déplacement de la figure par (0, 3).
Déplacement de la figure par (4, -6).
Déplacement de la figure par (-5, 5).

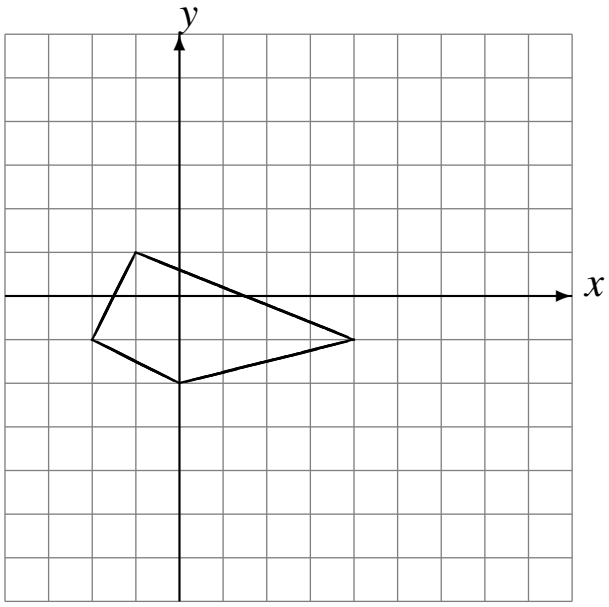

Déplacement de la figure par (-5, -6).
Déplacement de la figure par (-1, -2).
Déplacement de la figure par (-5, 3).

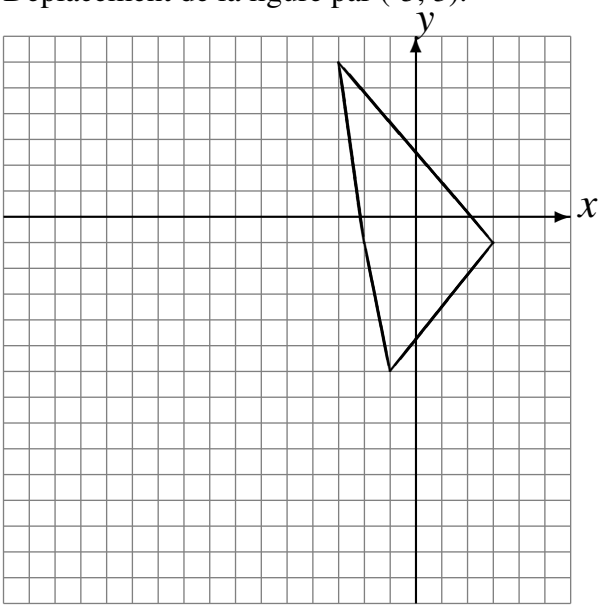

Déplacement de la figure par (1, -3).
Déplacement de la figure par (-2, -1).
Déplacement de la figure par (0, 3).

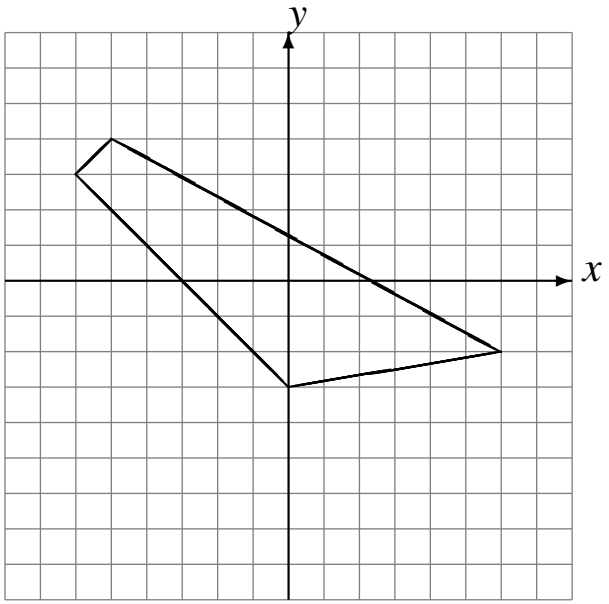

Déplacement de la figure par (-6, -4).
Déplacement de la figure par (0, -3).
Déplacement de la figure par (0, -3).

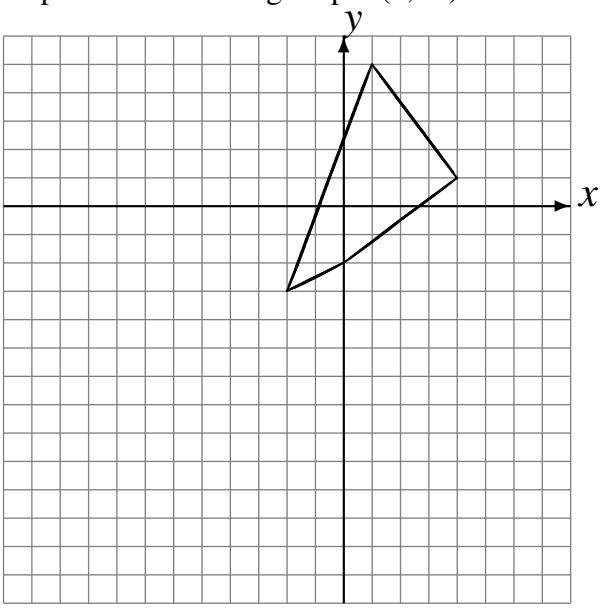

Translations (C) Solutions

Dessinez l'image finale et les étapes intermédiaires de la translation décrite.

Déplacement de la figure par (0, 3).
Déplacement de la figure par (4, -6).
Déplacement de la figure par (-5, 5).

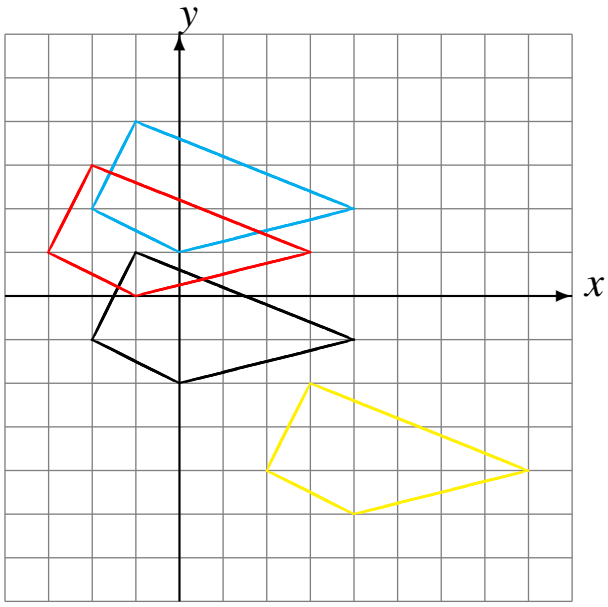

Déplacement de la figure par (-5, -6).
Déplacement de la figure par (-1, -2).
Déplacement de la figure par (-5, 3).

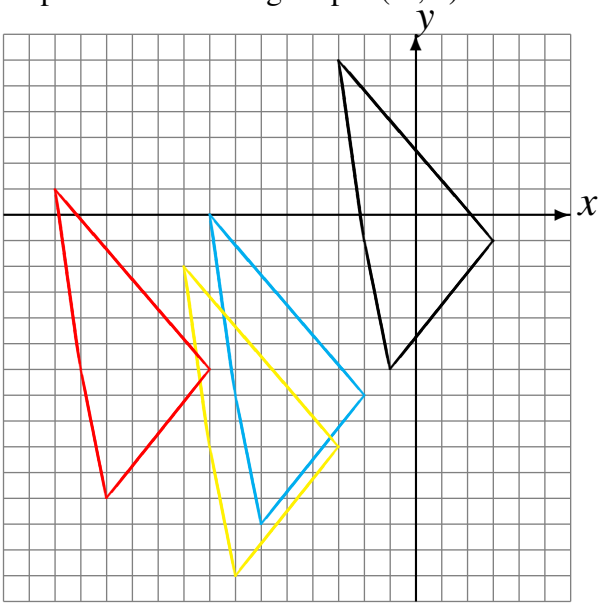

Déplacement de la figure par (1, -3).
Déplacement de la figure par (-2, -1).
Déplacement de la figure par (0, 3).

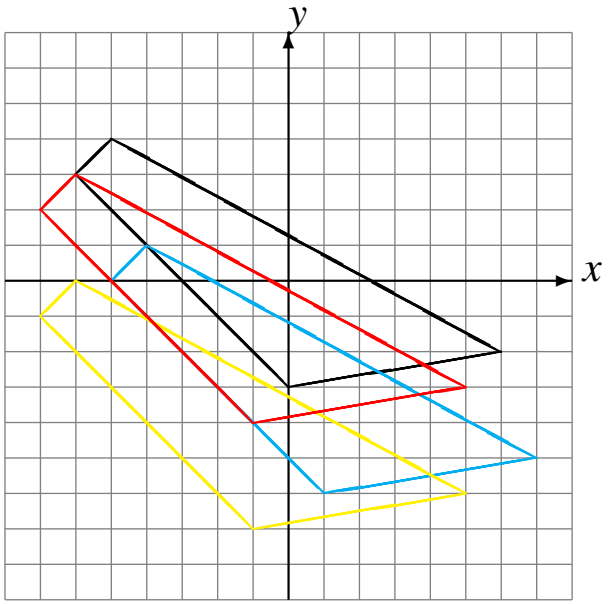

Déplacement de la figure par (-6, -4).
Déplacement de la figure par (0, -3).
Déplacement de la figure par (0, -3).

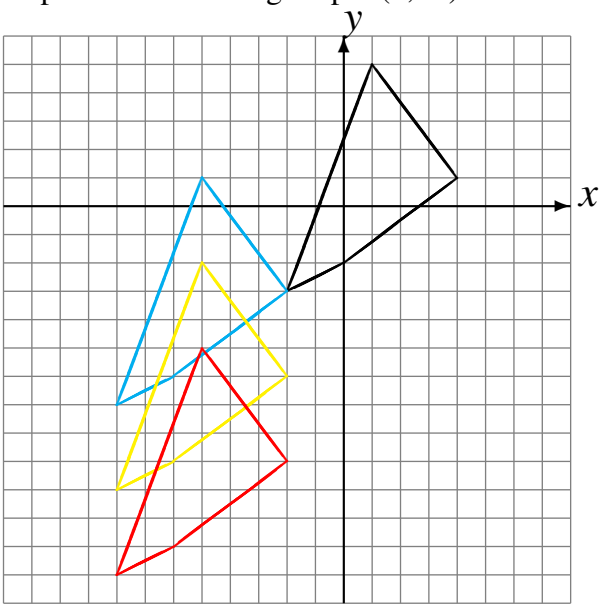

Translations (D)

Dessinez l'image finale et les étapes intermédiaires de la translation décrite.

Déplacement de la figure par (-3, 6).
Déplacement de la figure par (2, 3).
Déplacement de la figure par (-2, -4).

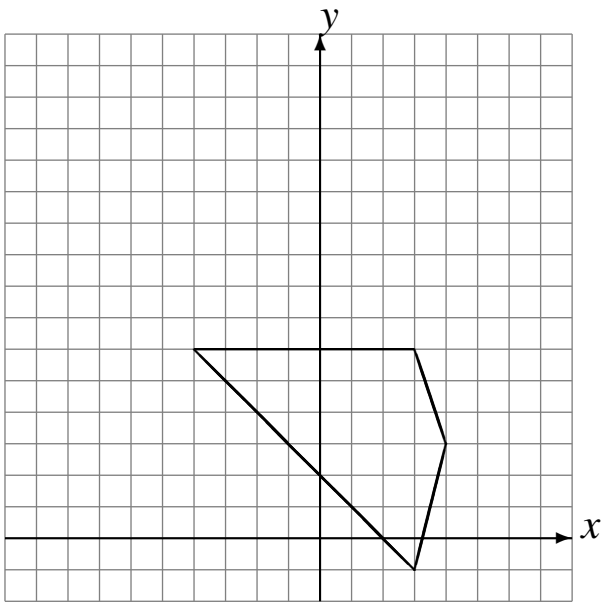

Déplacement de la figure par (4, 1).
Déplacement de la figure par (3, 6).
Déplacement de la figure par (3, -1).

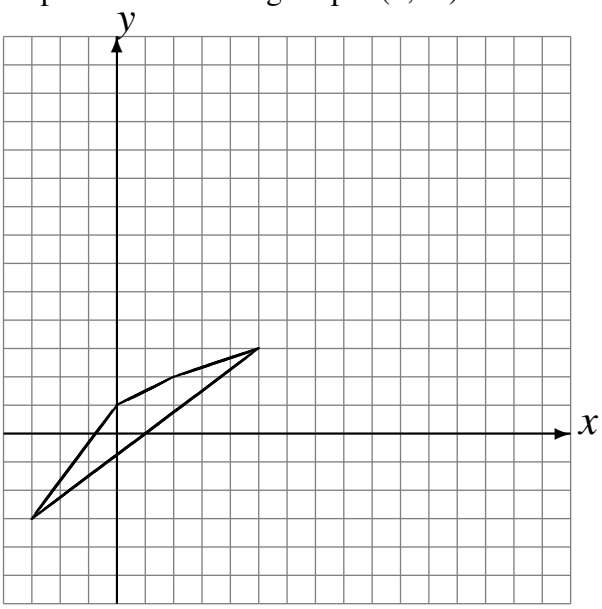

Déplacement de la figure par (2, 6).
Déplacement de la figure par (-6, -3).
Déplacement de la figure par (-5, -5).

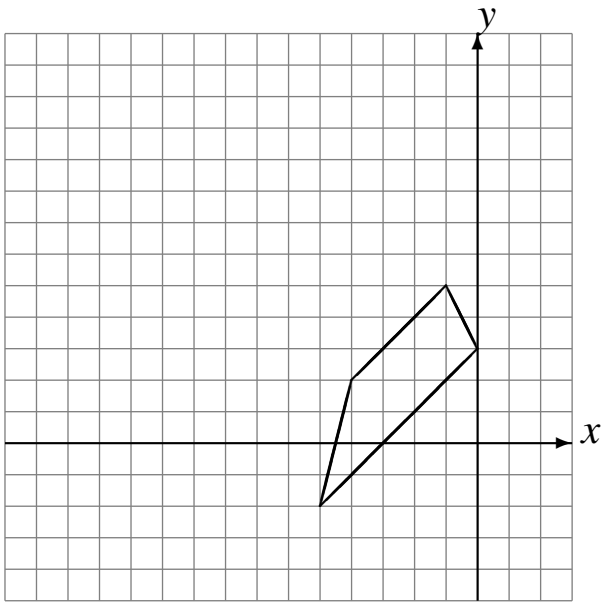

Déplacement de la figure par (-3, -6).
Déplacement de la figure par (-5, -3).
Déplacement de la figure par (6, 0).

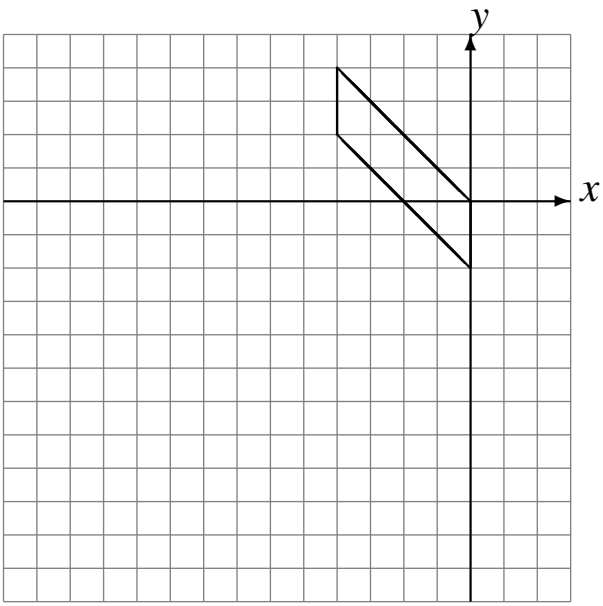

Translations (D) Solutions

Dessinez l'image finale et les étapes intermédiaires de la translation décrite.

Déplacement de la figure par (-3, 6).
Déplacement de la figure par (2, 3).
Déplacement de la figure par (-2, -4).

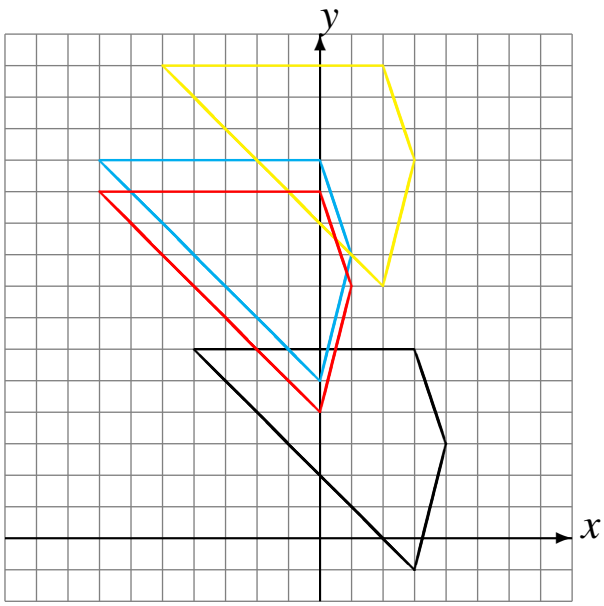

Déplacement de la figure par (4, 1).
Déplacement de la figure par (3, 6).
Déplacement de la figure par (3, -1).

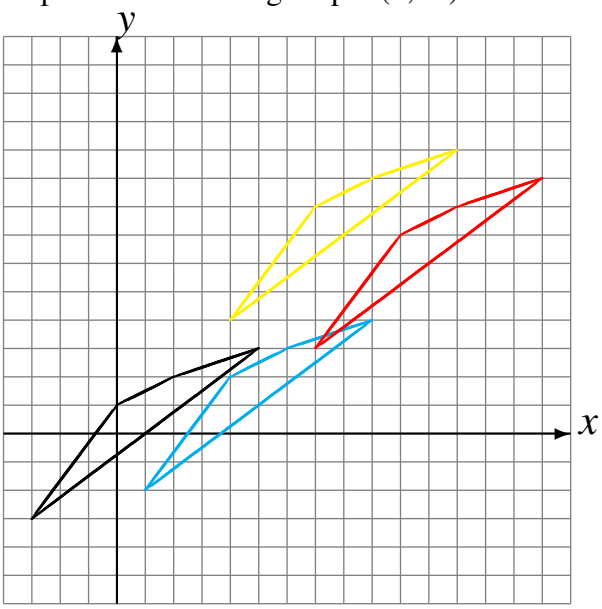

Déplacement de la figure par (2, 6).
Déplacement de la figure par (-6, -3).
Déplacement de la figure par (-5, -5).

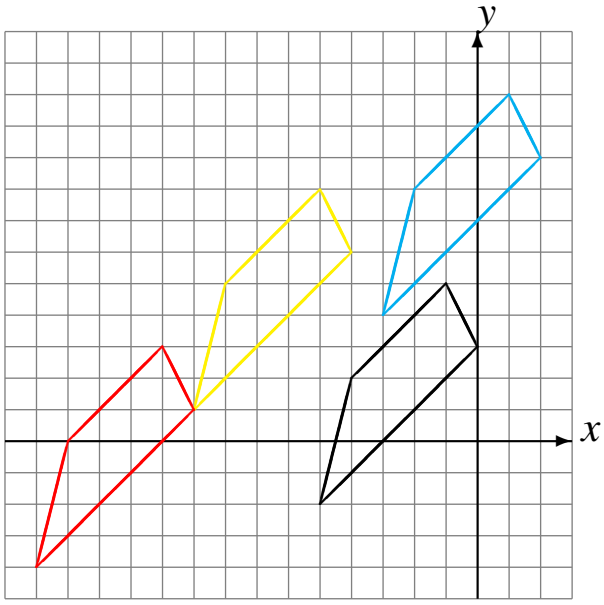

Déplacement de la figure par (-3, -6).
Déplacement de la figure par (-5, -3).
Déplacement de la figure par (6, 0).

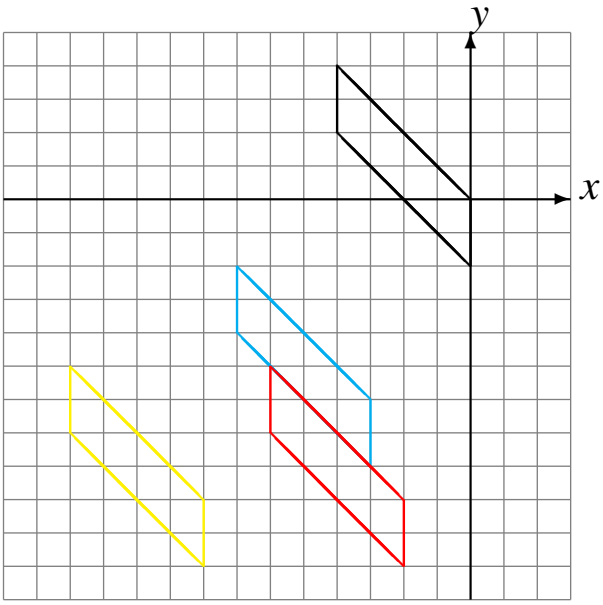

Translations (E)

Dessinez l'image finale et les étapes intermédiaires de la translation décrite.

Déplacement de la figure par (5, 5).
Déplacement de la figure par (2, 0).
Déplacement de la figure par (-2, 6).

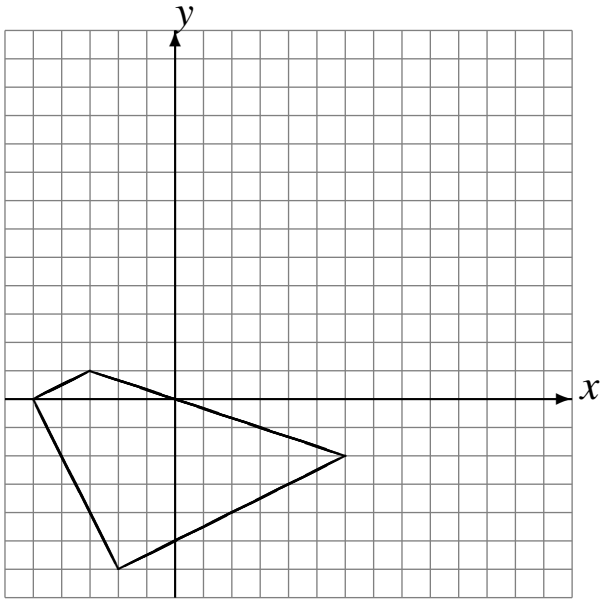

Déplacement de la figure par (-4, 3).
Déplacement de la figure par (3, -4).
Déplacement de la figure par (-5, 4).

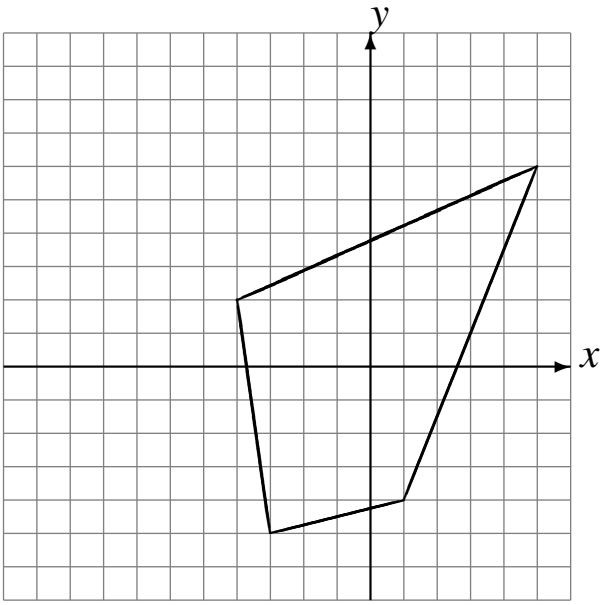

Déplacement de la figure par (0, 1).
Déplacement de la figure par (1, 1).
Déplacement de la figure par (2, -4).

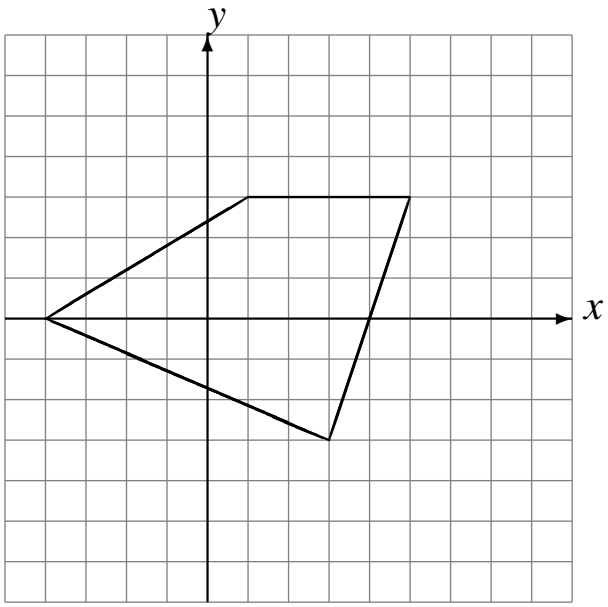

Déplacement de la figure par (-5, 6).
Déplacement de la figure par (3, -1).
Déplacement de la figure par (0, 0).

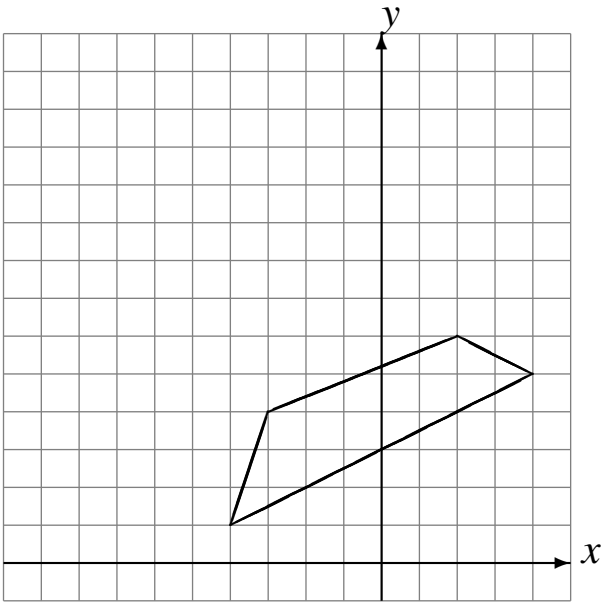

Translations (E) Solutions

Dessinez l'image finale et les étapes intermédiaires de la translation décrite.

Déplacement de la figure par (5, 5).
Déplacement de la figure par (2, 0).
Déplacement de la figure par (-2, 6).

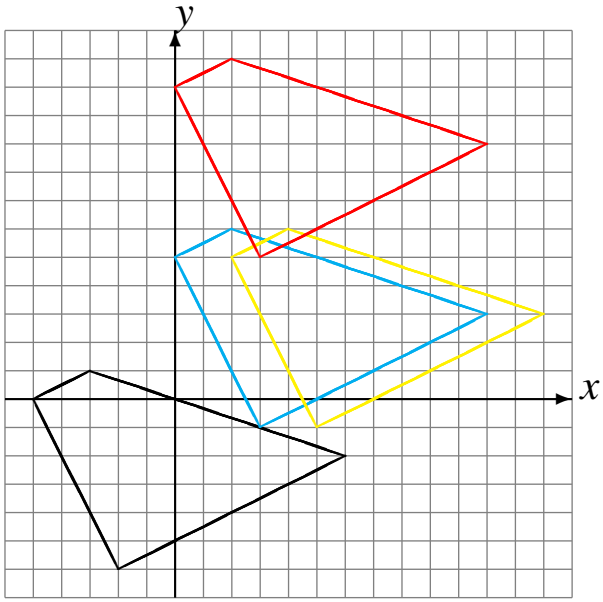

Déplacement de la figure par (-4, 3).
Déplacement de la figure par (3, -4).
Déplacement de la figure par (-5, 4).

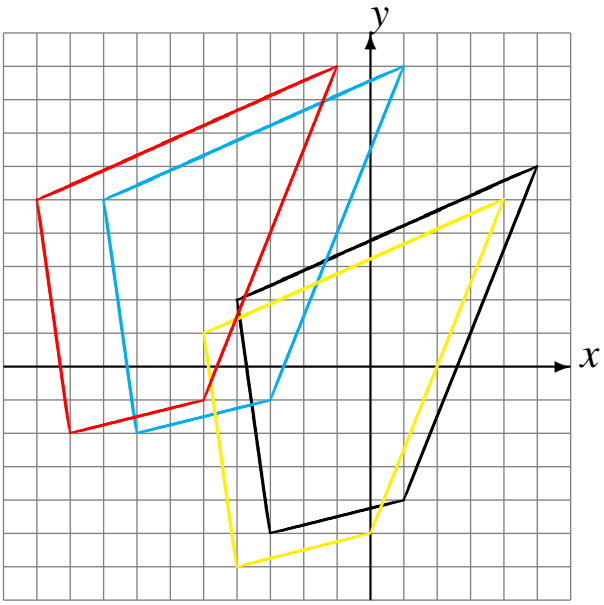

Déplacement de la figure par (0, 1).
Déplacement de la figure par (1, 1).
Déplacement de la figure par (2, -4).

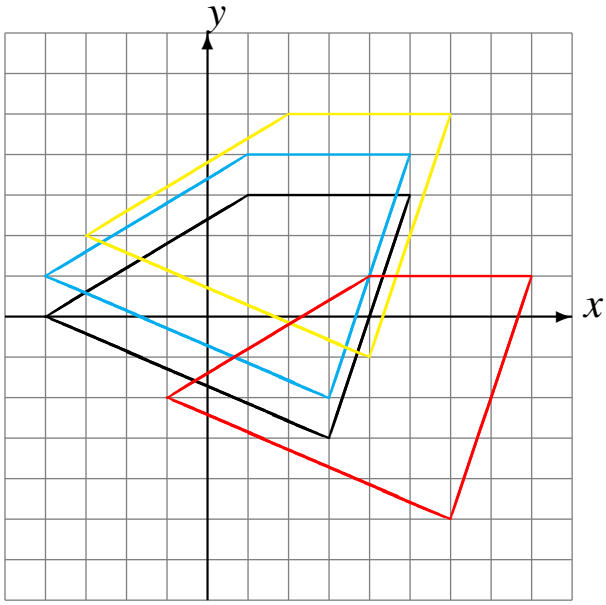

Déplacement de la figure par (-5, 6).
Déplacement de la figure par (3, -1).
Déplacement de la figure par (0, 0).

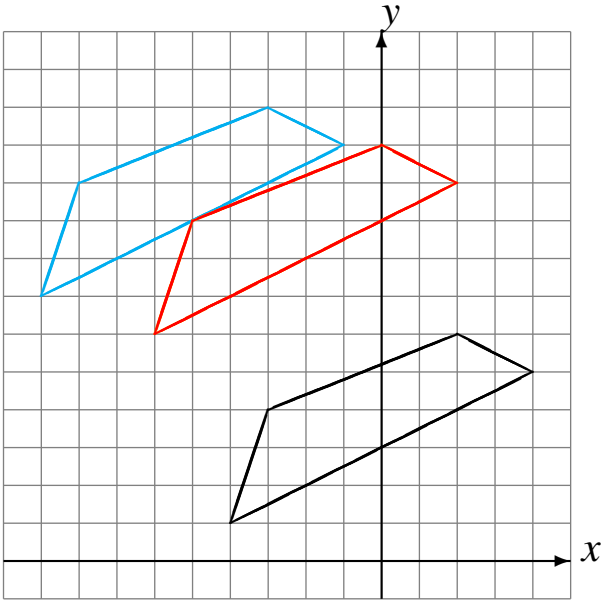

Translations (F)

Dessinez l'image finale et les étapes intermédiaires de la translation décrite.

Déplacement de la figure par (4, -5).
Déplacement de la figure par (3, -1).
Déplacement de la figure par (4, 5).

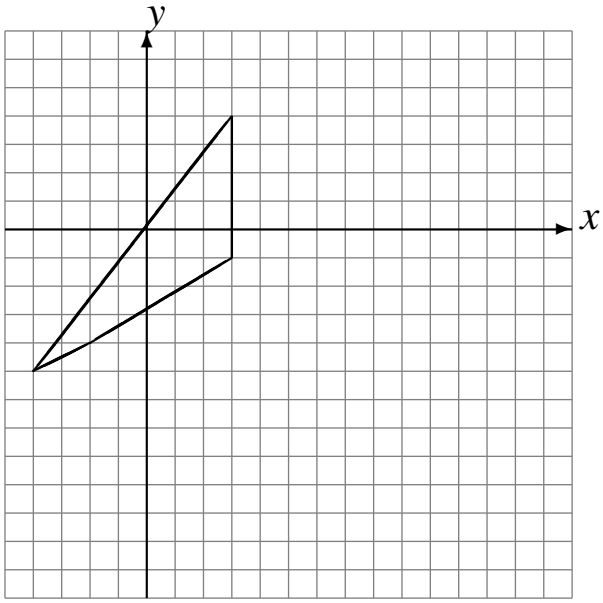

Déplacement de la figure par (-4, 6).
Déplacement de la figure par (-2, 0).
Déplacement de la figure par (-6, -3).

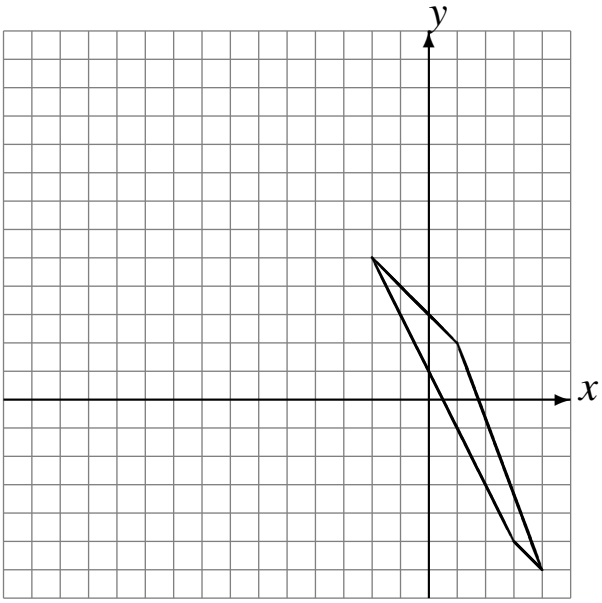

Déplacement de la figure par (-2, 6).
Déplacement de la figure par (1, 0).
Déplacement de la figure par (0, 0).

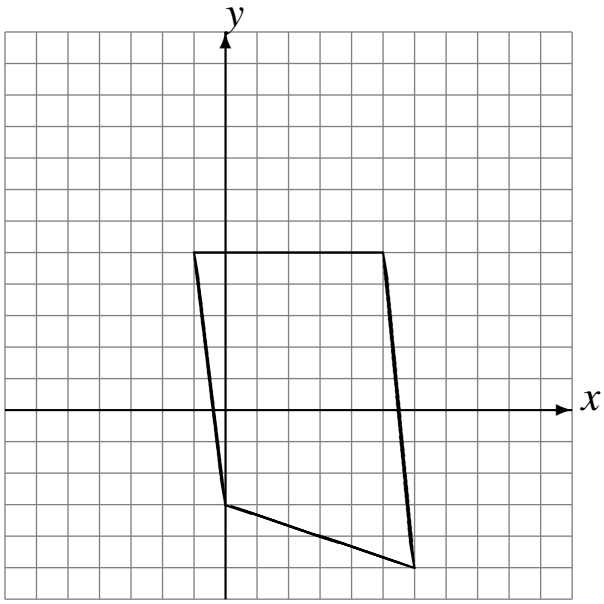

Déplacement de la figure par (-5, -4).
Déplacement de la figure par (-6, 4).
Déplacement de la figure par (-1, 6).

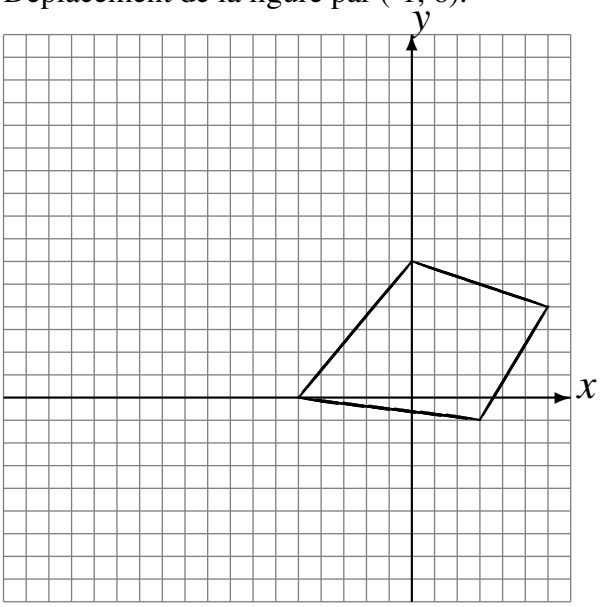

Translations (F) Solutions

Dessinez l'image finale et les étapes intermédiaires de la translation décrite.

Déplacement de la figure par (4, -5).
Déplacement de la figure par (3, -1).
Déplacement de la figure par (4, 5).

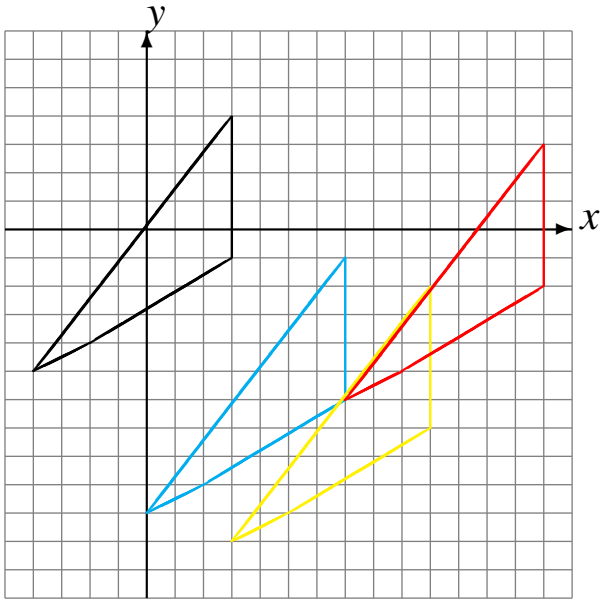

Déplacement de la figure par (-4, 6).
Déplacement de la figure par (-2, 0).
Déplacement de la figure par (-6, -3).

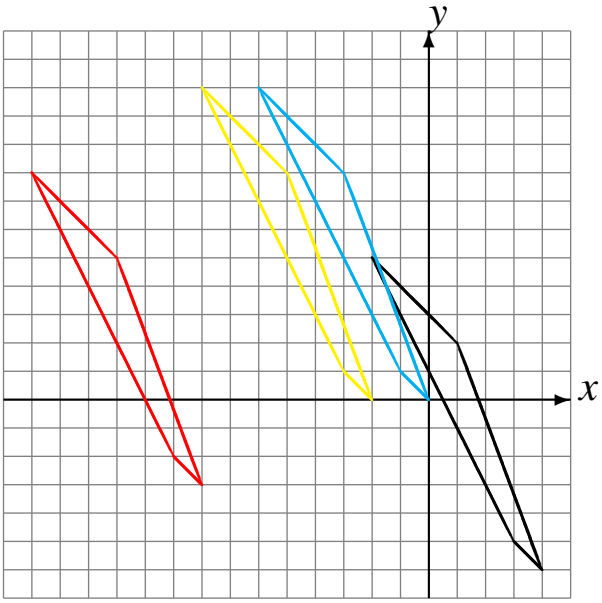

Déplacement de la figure par (-2, 6).
Déplacement de la figure par (1, 0).
Déplacement de la figure par (0, 0).

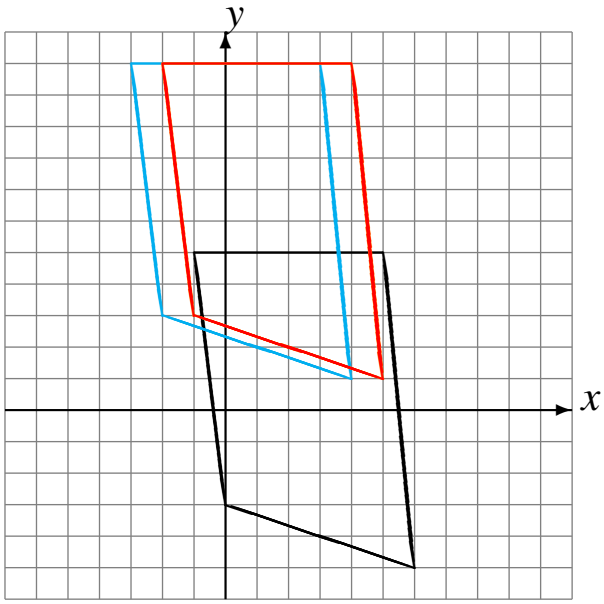

Déplacement de la figure par (-5, -4).
Déplacement de la figure par (-6, 4).
Déplacement de la figure par (-1, 6).

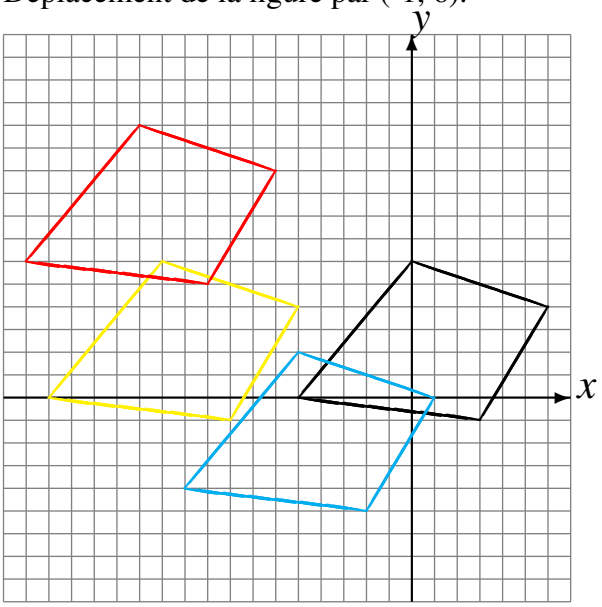

Translations (G)

Dessinez l'image finale et les étapes intermédiaires de la translation décrite.

Déplacement de la figure par (-4, 3).
Déplacement de la figure par (-6, 5).
Déplacement de la figure par (2, 0).

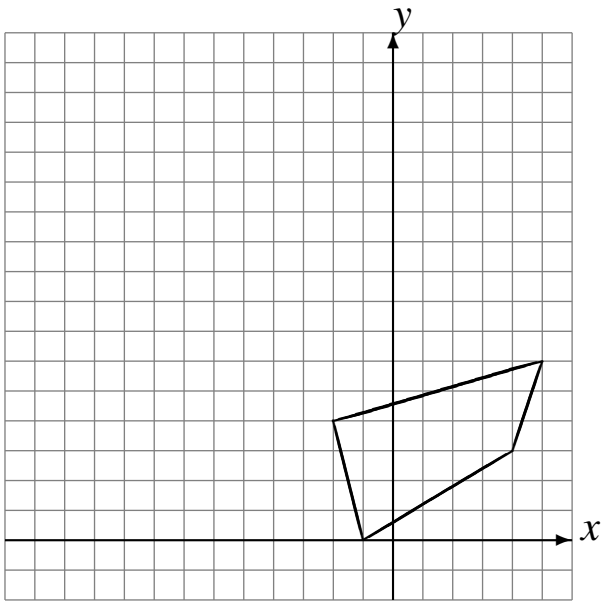

Déplacement de la figure par (-3, 5).
Déplacement de la figure par (3, 1).
Déplacement de la figure par (3, 0).

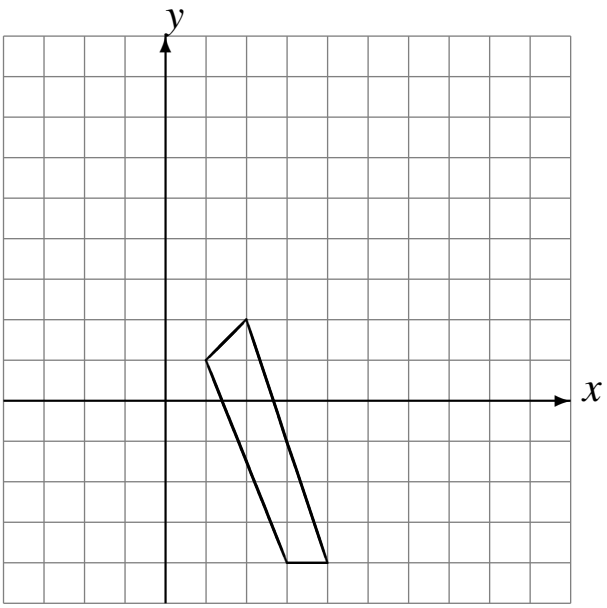

Déplacement de la figure par (-3, -3).
Déplacement de la figure par (0, -1).
Déplacement de la figure par (-5, -4).

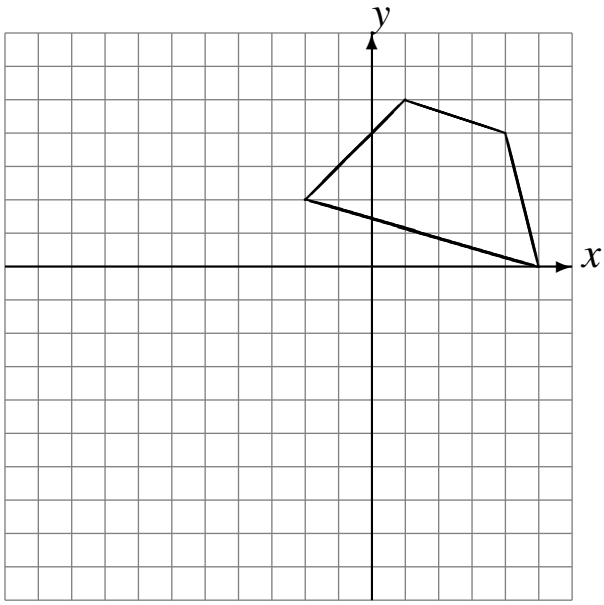

Déplacement de la figure par (1, 2).
Déplacement de la figure par (2, -2).
Déplacement de la figure par (-4, -4).

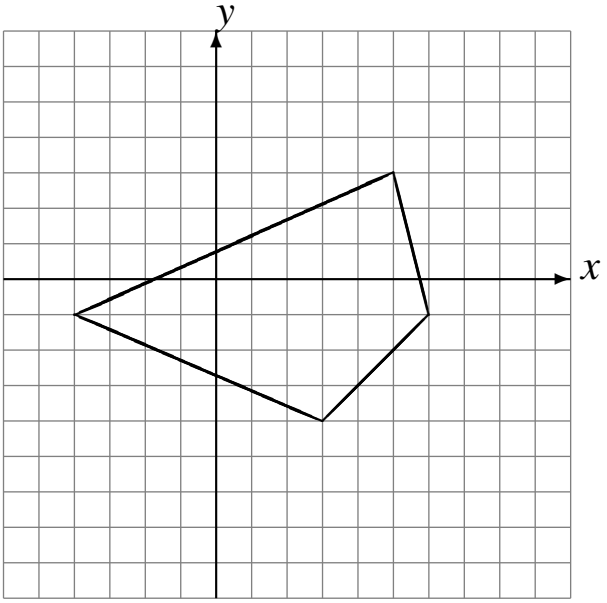

Translations (G) Solutions

Dessinez l'image finale et les étapes intermédiaires de la translation décrite.

Déplacement de la figure par (-4, 3).
Déplacement de la figure par (-6, 5).
Déplacement de la figure par (2, 0).

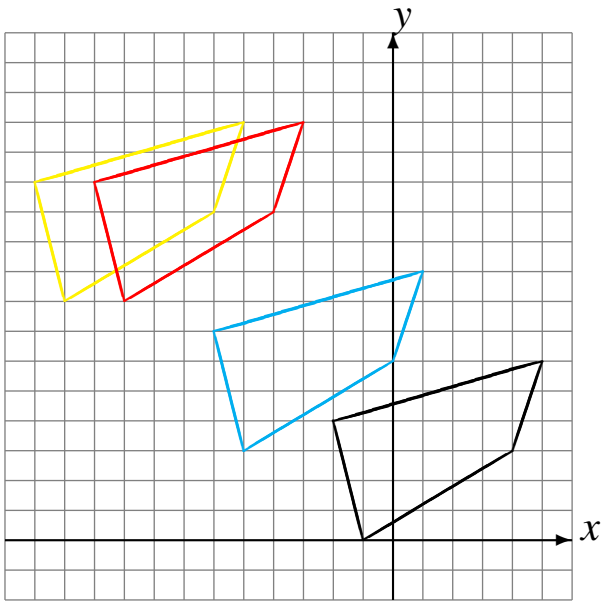

Déplacement de la figure par (-3, 5).
Déplacement de la figure par (3, 1).
Déplacement de la figure par (3, 0).

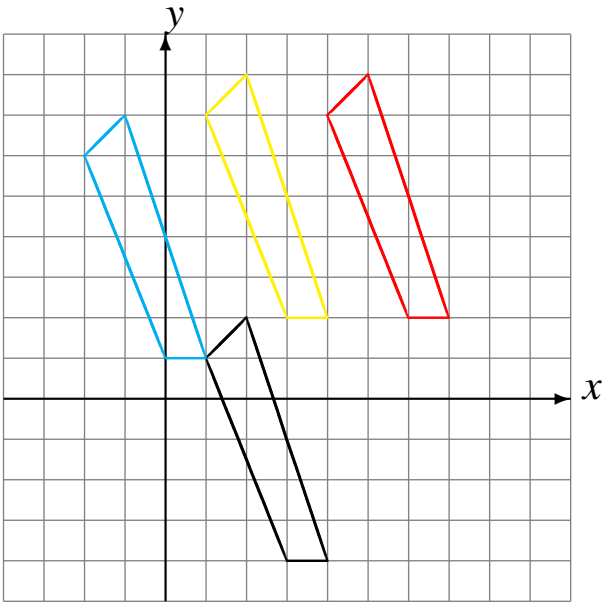

Déplacement de la figure par (-3, -3).
Déplacement de la figure par (0, -1).
Déplacement de la figure par (-5, -4).

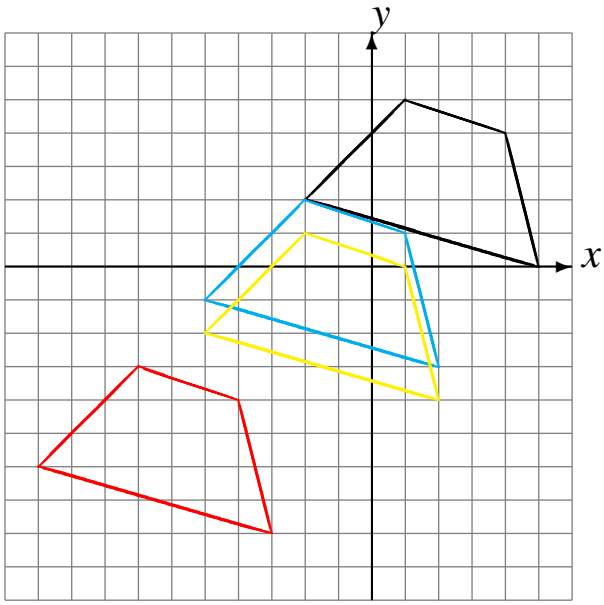

Déplacement de la figure par (1, 2).
Déplacement de la figure par (2, -2).
Déplacement de la figure par (-4, -4).

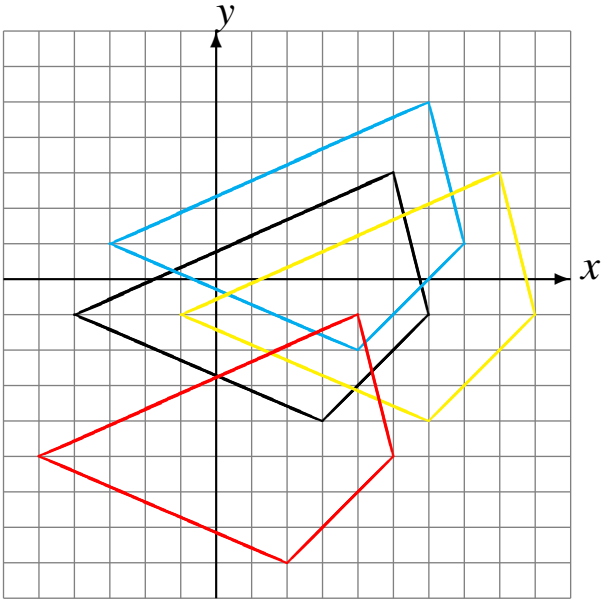

Translations (H)

Dessinez l'image finale et les étapes intermédiaires de la translation décrite.

Déplacement de la figure par (5, 6).
Déplacement de la figure par (0, -6).
Déplacement de la figure par (5, 1).

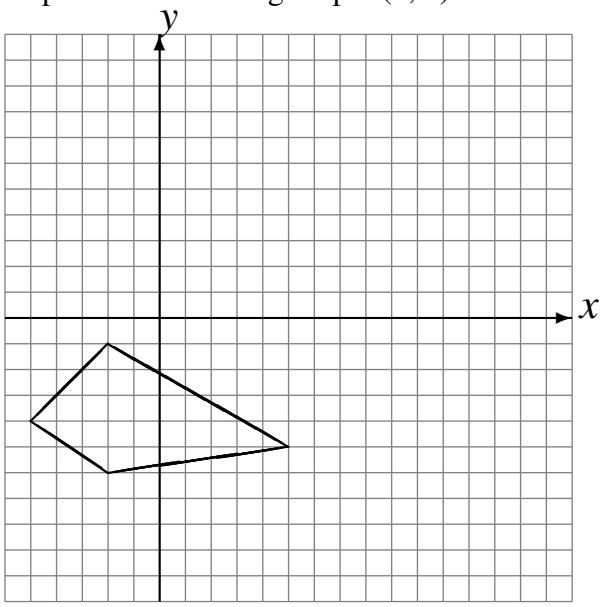

Déplacement de la figure par (-4, 0).
Déplacement de la figure par (2, 3).
Déplacement de la figure par (0, 6).

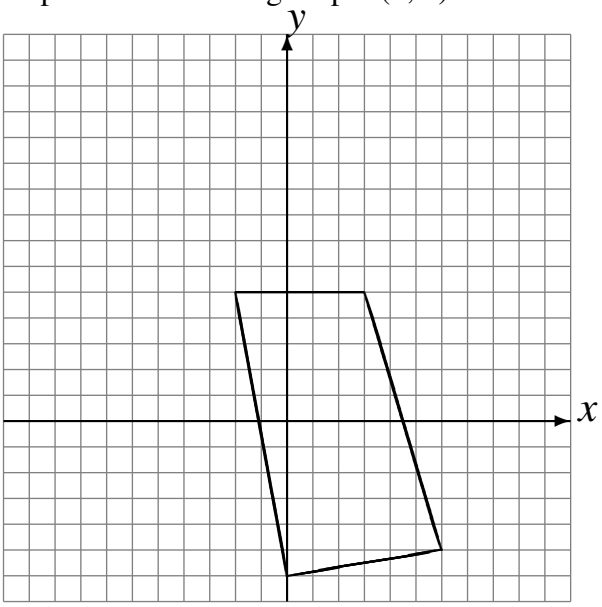

Déplacement de la figure par (-1, 3).
Déplacement de la figure par (6, -2).
Déplacement de la figure par (-4, 1).

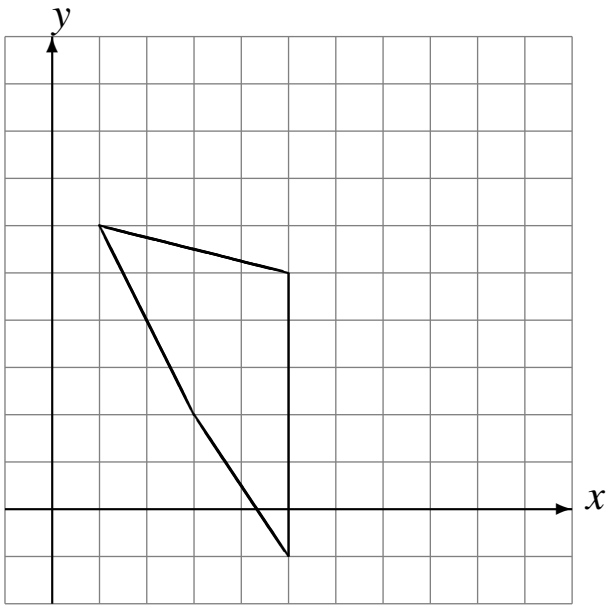

Déplacement de la figure par (0, -4).
Déplacement de la figure par (4, -1).
Déplacement de la figure par (-3, 3).

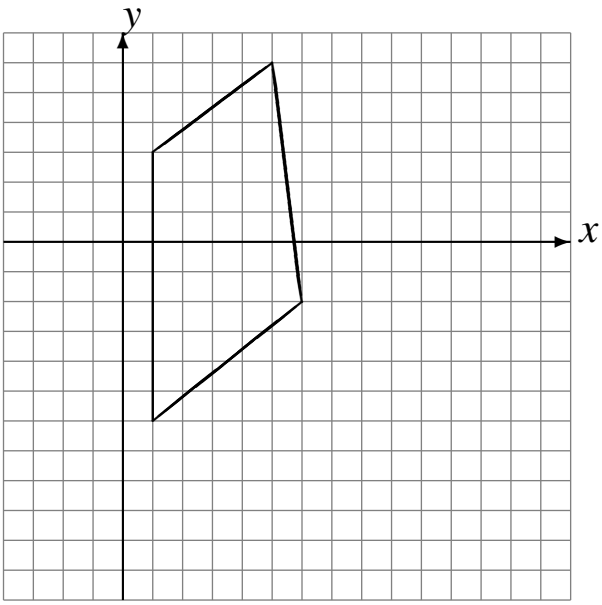

Translations (H) Solutions

Dessinez l'image finale et les étapes intermédiaires de la translation décrite.

Déplacement de la figure par (5, 6).
Déplacement de la figure par (0, -6).
Déplacement de la figure par (5, 1).

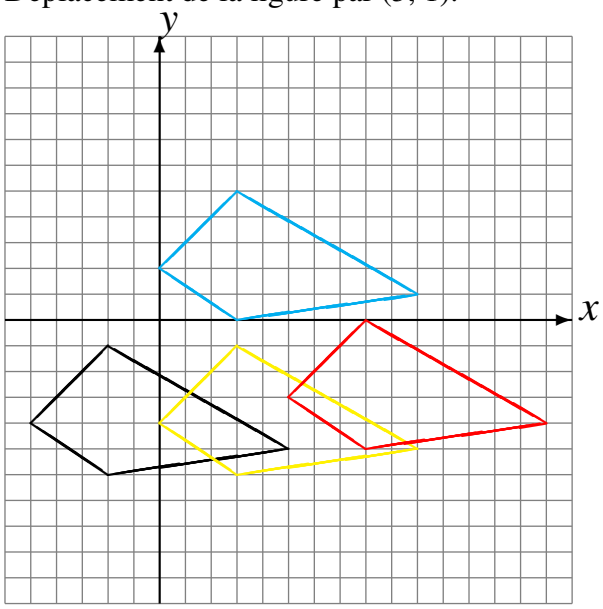

Déplacement de la figure par (-4, 0).
Déplacement de la figure par (2, 3).
Déplacement de la figure par (0, 6).

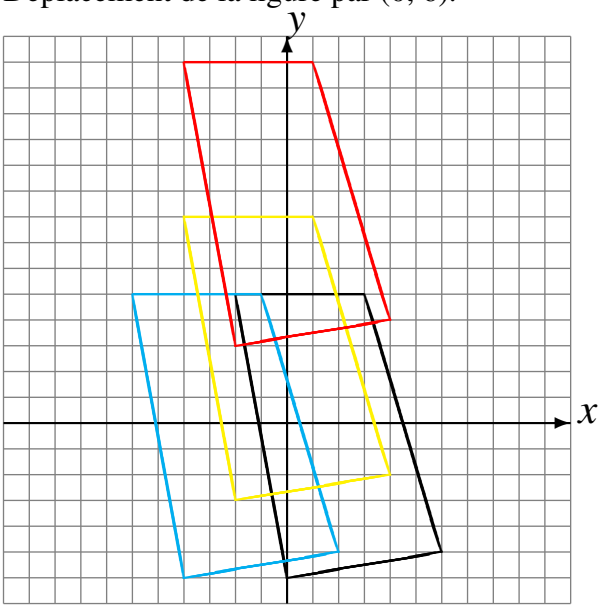

Déplacement de la figure par (-1, 3).
Déplacement de la figure par (6, -2).
Déplacement de la figure par (-4, 1).

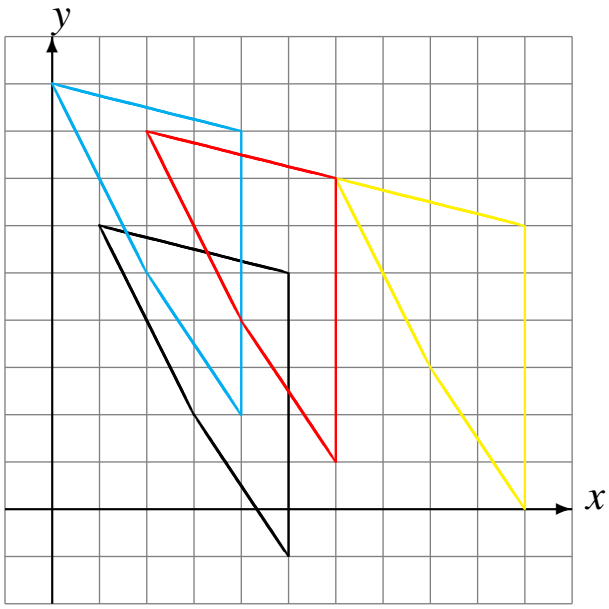

Déplacement de la figure par (0, -4).
Déplacement de la figure par (4, -1).
Déplacement de la figure par (-3, 3).

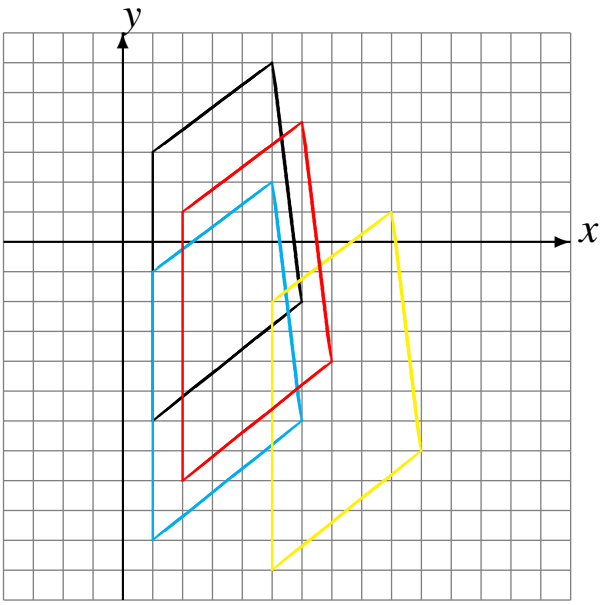

Translations (I)

Dessinez l'image finale et les étapes intermédiaires de la translation décrite.

Déplacement de la figure par (2, 4).
Déplacement de la figure par (-4, -3).
Déplacement de la figure par (-4, -3).

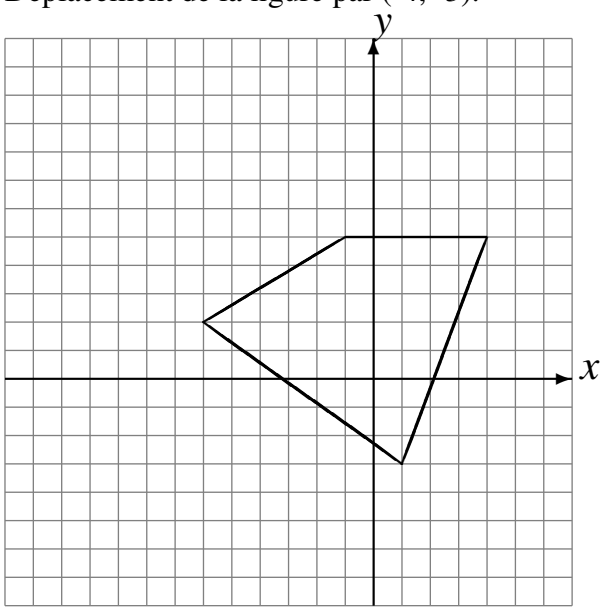

Déplacement de la figure par (-2, -6).
Déplacement de la figure par (0, 3).
Déplacement de la figure par (-2, 0).

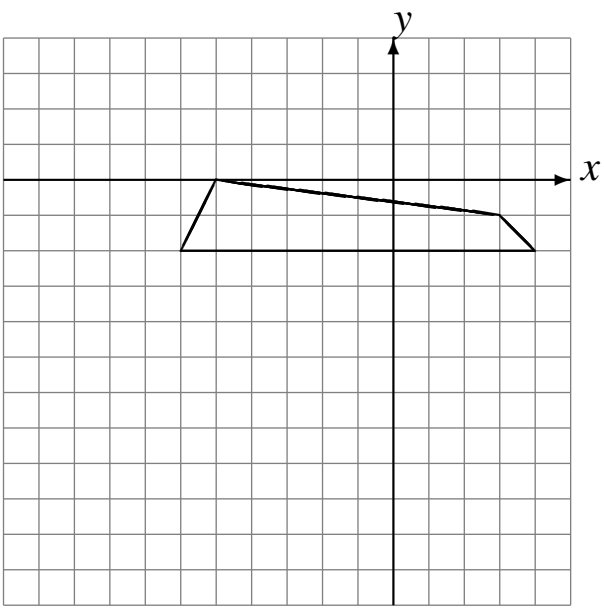

Déplacement de la figure par (-2, 6).
Déplacement de la figure par (-4, 0).
Déplacement de la figure par (6, -1).

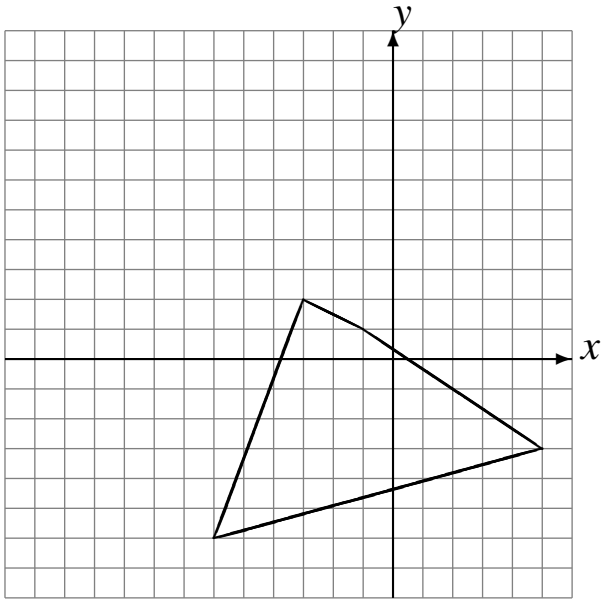

Déplacement de la figure par (-3, 0).
Déplacement de la figure par (5, 2).
Déplacement de la figure par (6, -1).

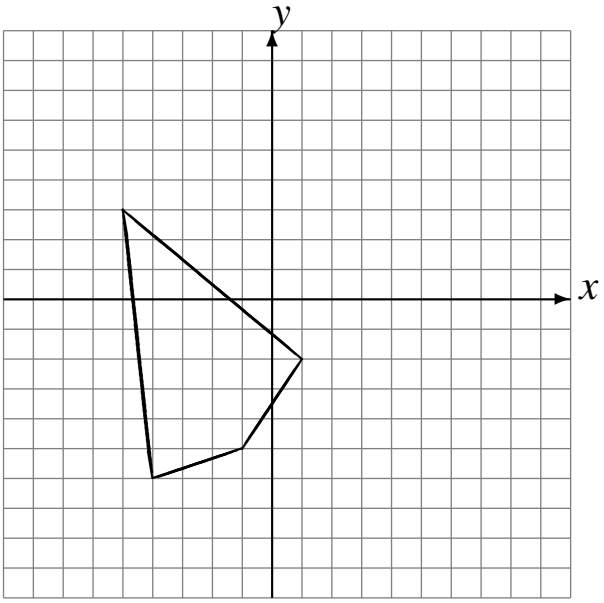

Translations (I) Solutions

Dessinez l'image finale et les étapes intermédiaires de la translation décrite.

Déplacement de la figure par (2, 4).
Déplacement de la figure par (-4, -3).
Déplacement de la figure par (-4, -3).

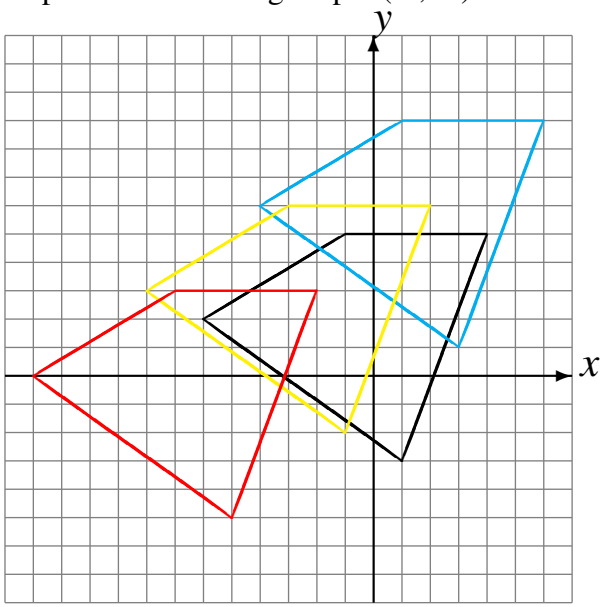

Déplacement de la figure par (-2, -6).
Déplacement de la figure par (0, 3).
Déplacement de la figure par (-2, 0).

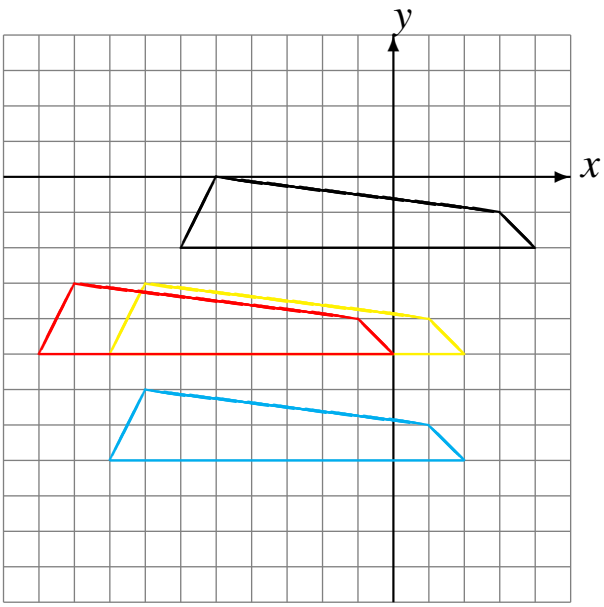

Déplacement de la figure par (-2, 6).
Déplacement de la figure par (-4, 0).
Déplacement de la figure par (6, -1).

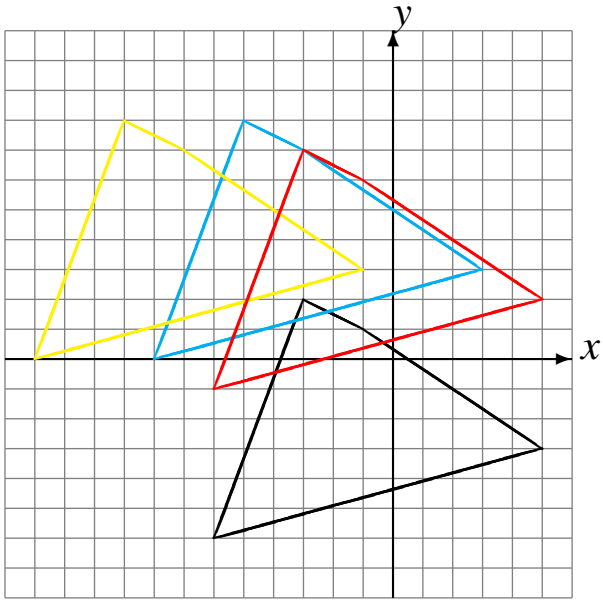

Déplacement de la figure par (-3, 0).
Déplacement de la figure par (5, 2).
Déplacement de la figure par (6, -1).

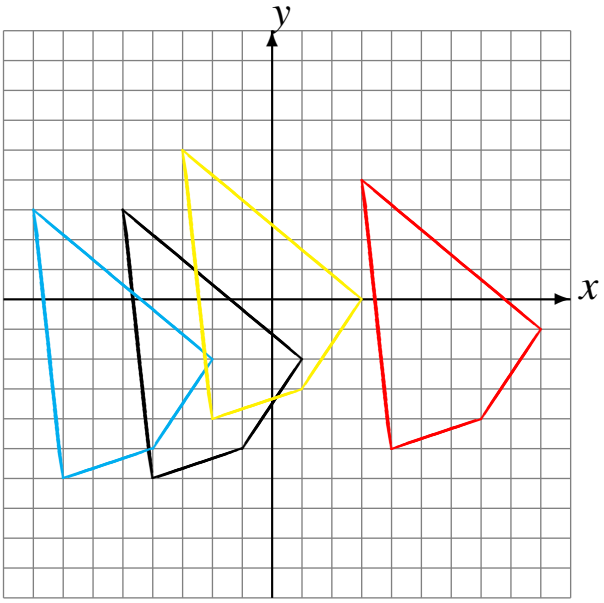

Translations (J)

Dessinez l'image finale et les étapes intermédiaires de la translation décrite.

Déplacement de la figure par (3, 6).
Déplacement de la figure par (4, 4).
Déplacement de la figure par (4, -2).

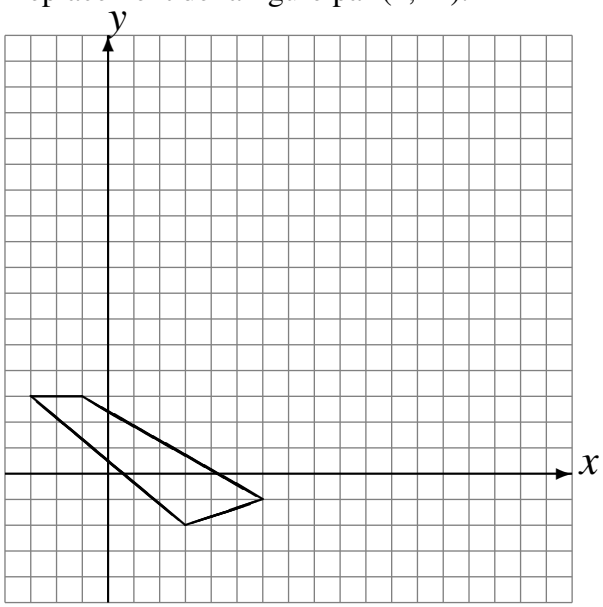

Déplacement de la figure par (0, -2).
Déplacement de la figure par (-3, -6).
Déplacement de la figure par (-2, 5).

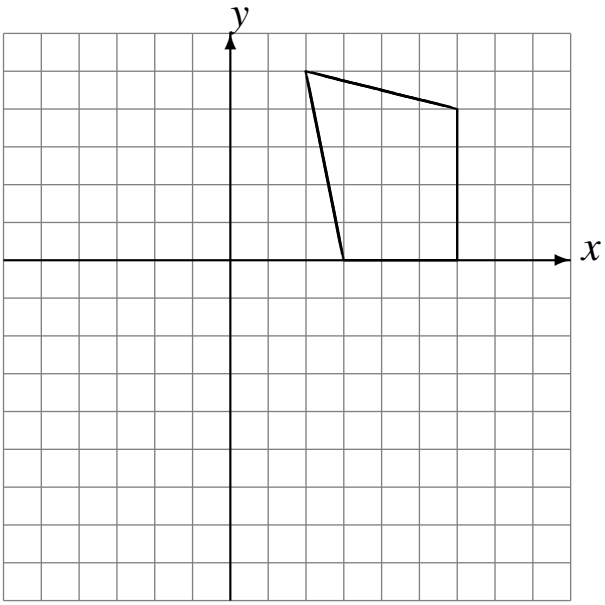

Déplacement de la figure par (-2, 5).
Déplacement de la figure par (2, -4).
Déplacement de la figure par (-1, -5).

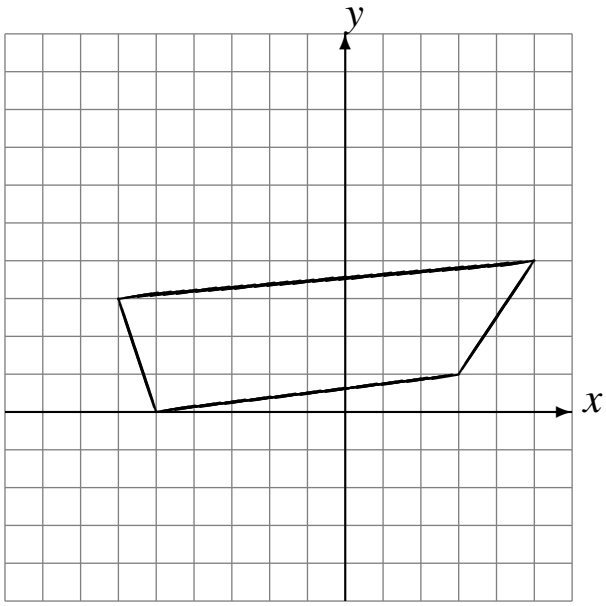

Déplacement de la figure par (5, 4).
Déplacement de la figure par (4, 2).
Déplacement de la figure par (-6, -4).

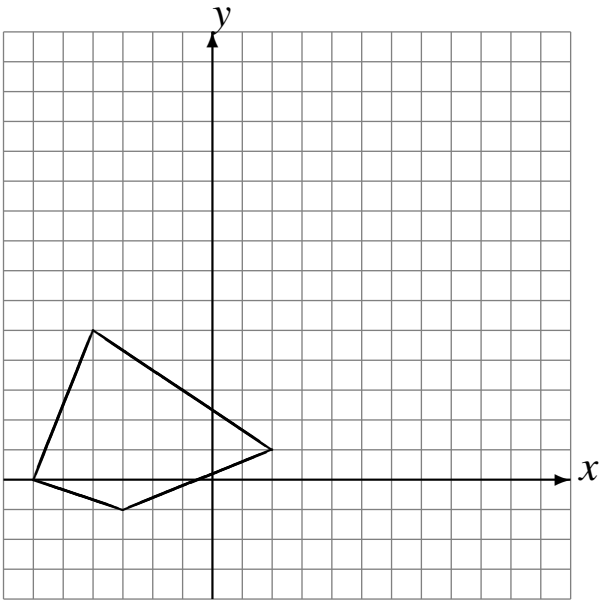

Translations (J) Solutions

Dessinez l'image finale et les étapes intermédiaires de la translation décrite.

Déplacement de la figure par (3, 6).
Déplacement de la figure par (4, 4).
Déplacement de la figure par (4, -2).

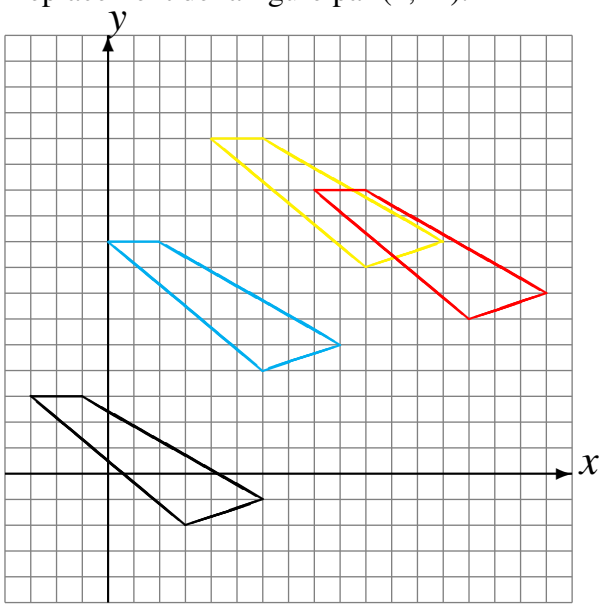

Déplacement de la figure par (0, -2).
Déplacement de la figure par (-3, -6).
Déplacement de la figure par (-2, 5).

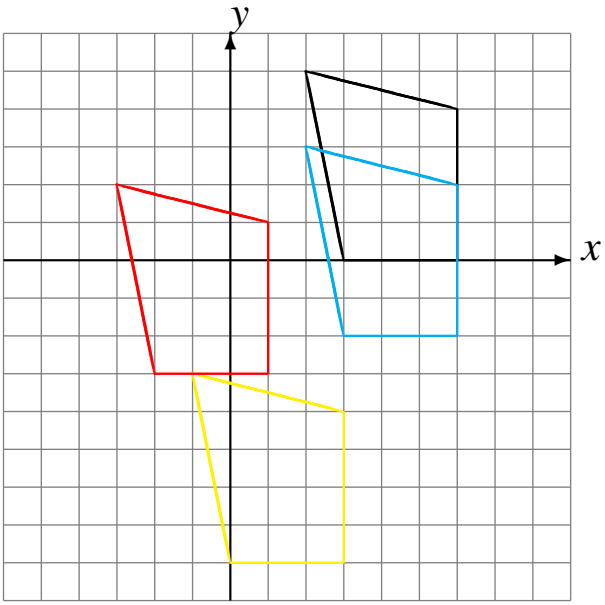

Déplacement de la figure par (-2, 5).
Déplacement de la figure par (2, -4).
Déplacement de la figure par (-1, -5).

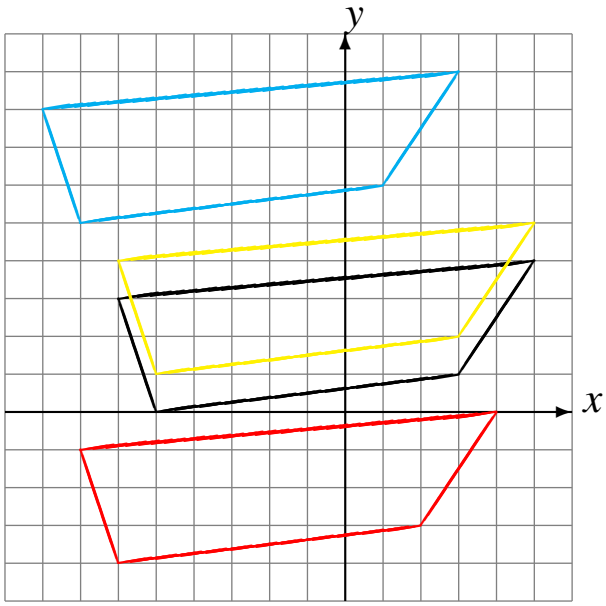
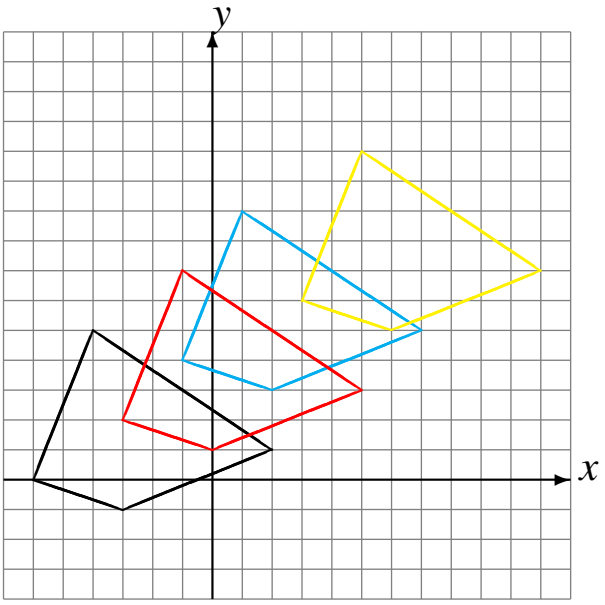
Déplacement de la figure par (5, 4).
Déplacement de la figure par (4, 2).
Déplacement de la figure par (-6, -4).