Translations (J)

Dessinez l'image finale et les étapes intermédiaires de la translation décrite.

Déplacement de la figure par (-3, -6).
Déplacement de la figure par (-4, 3).
Déplacement de la figure par (4, -6).

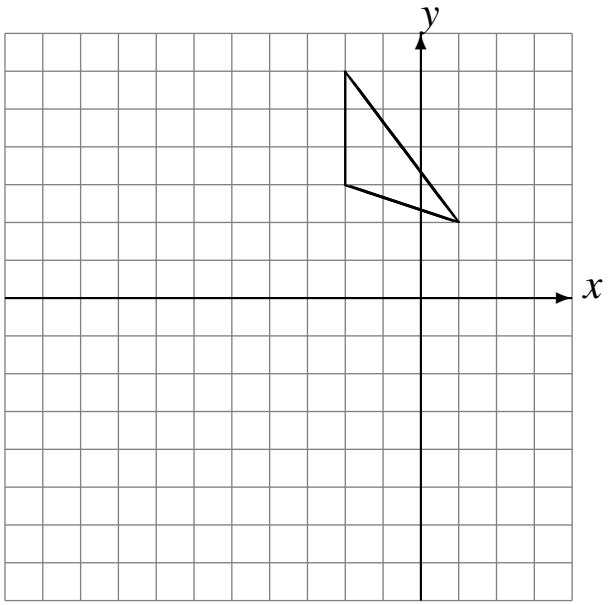

Déplacement de la figure par (6, -3).
Déplacement de la figure par (0, 3).
Déplacement de la figure par (4, 4).

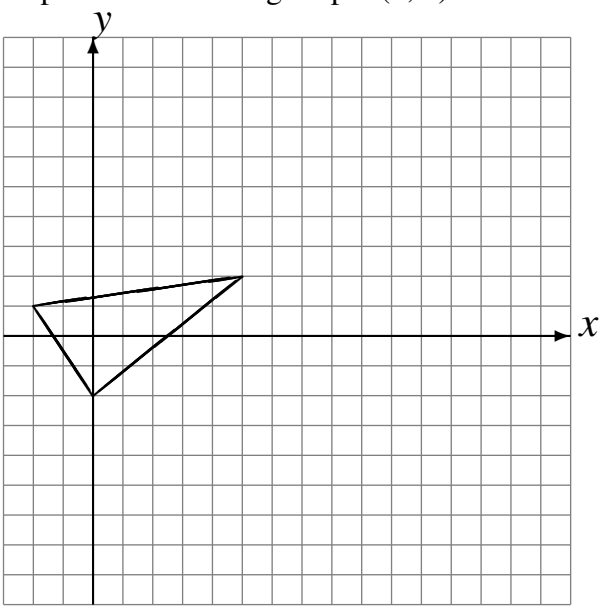

Déplacement de la figure par (6, 0).
Déplacement de la figure par (-5, -1).
Déplacement de la figure par (-6, -4).

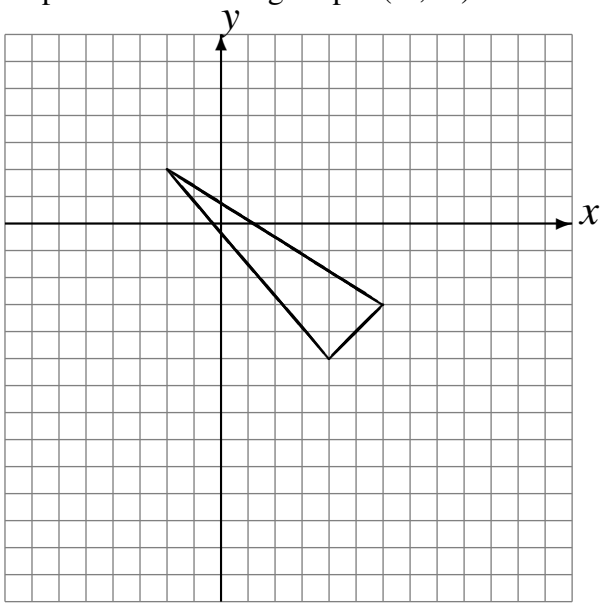
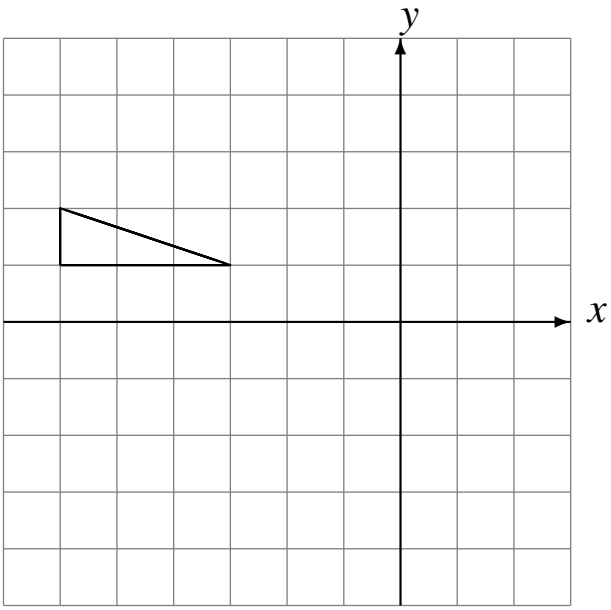
Déplacement de la figure par (5, -4).
Déplacement de la figure par (-2, 2).
Déplacement de la figure par (0, 3).