Translations (H)

Dessinez l'image finale et les étapes intermédiaires de la translation décrite.

Déplacement de la figure par (-5, -1).
Déplacement de la figure par (-6, -5).
Déplacement de la figure par (-5, 0).

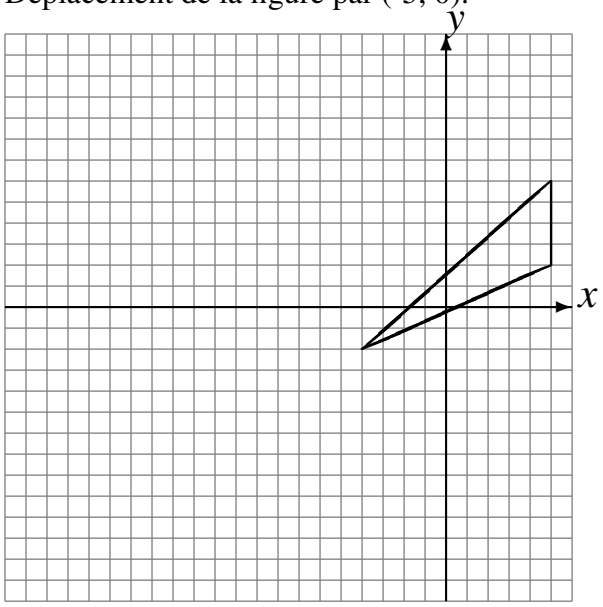

Déplacement de la figure par (-5, 2).
Déplacement de la figure par (-4, -4).
Déplacement de la figure par (-2, 2).

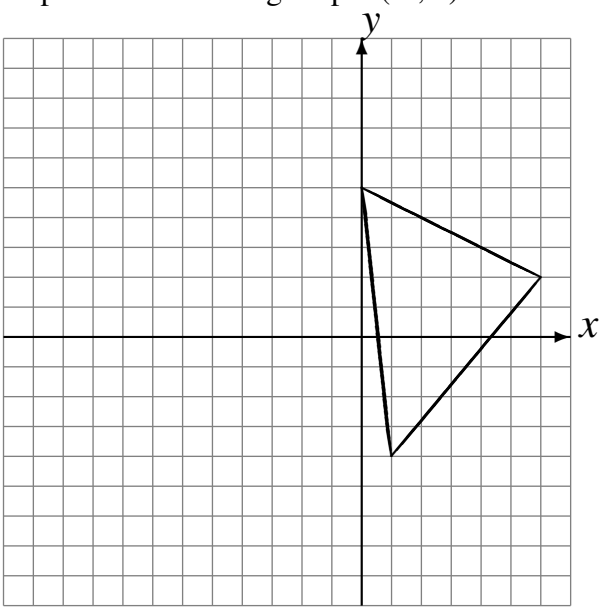

Déplacement de la figure par (-2, 5).
Déplacement de la figure par (4, 1).
Déplacement de la figure par (-1, 1).

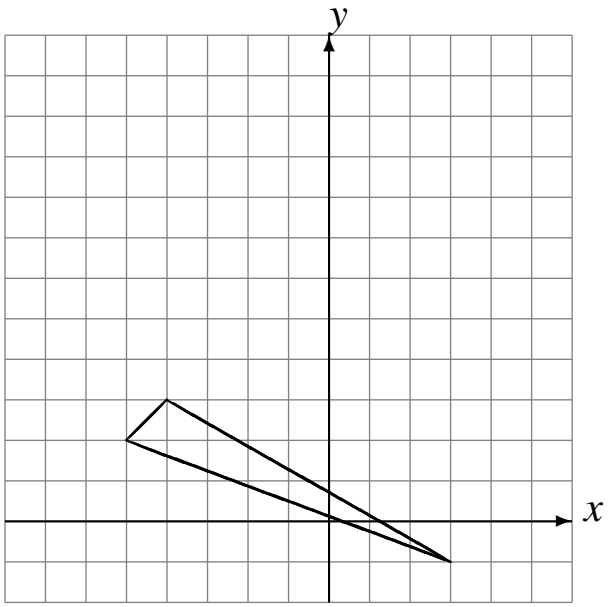
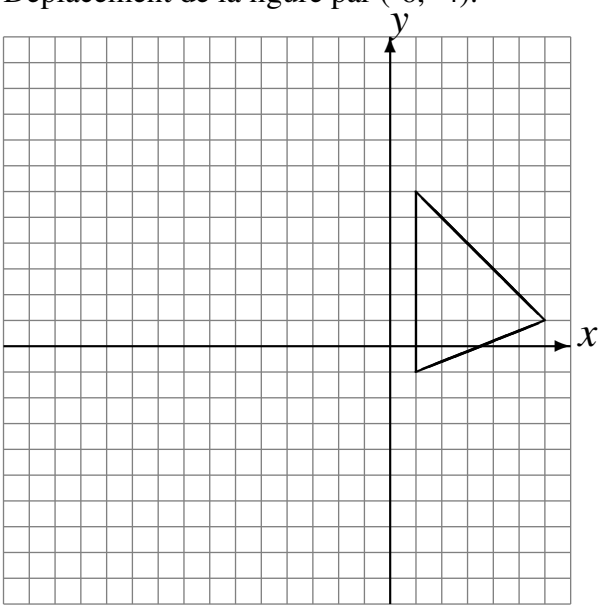
Déplacement de la figure par (-4, -3).
Déplacement de la figure par (-5, 3).
Déplacement de la figure par (-6, -4).