Translations (A)

Dessinez l'image finale et les étapes intermédiaires de la translation décrite.

Déplacement de la figure par (3, -5).
Déplacement de la figure par (5, -3).
Déplacement de la figure par (3, 3).

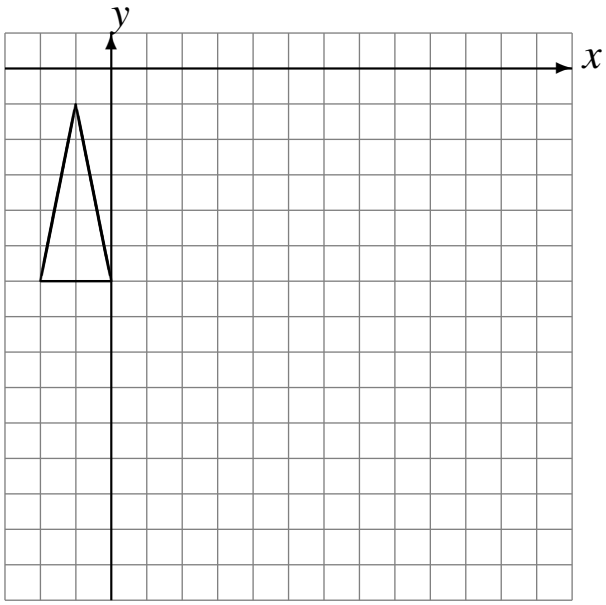

Déplacement de la figure par (5, 2).
Déplacement de la figure par (-2, -5).
Déplacement de la figure par (6, 0).

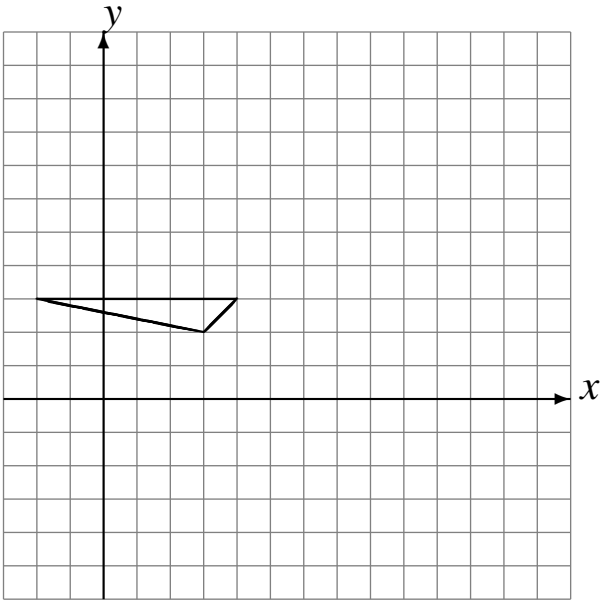

Déplacement de la figure par (-4, -3).
Déplacement de la figure par (5, -5).
Déplacement de la figure par (5, 4).

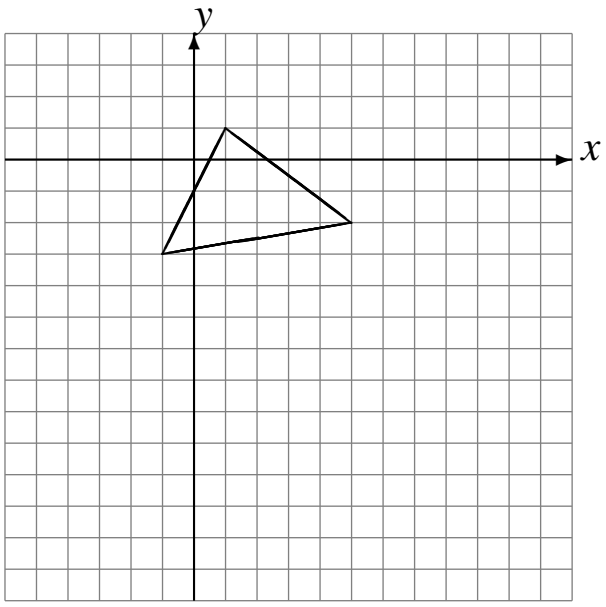
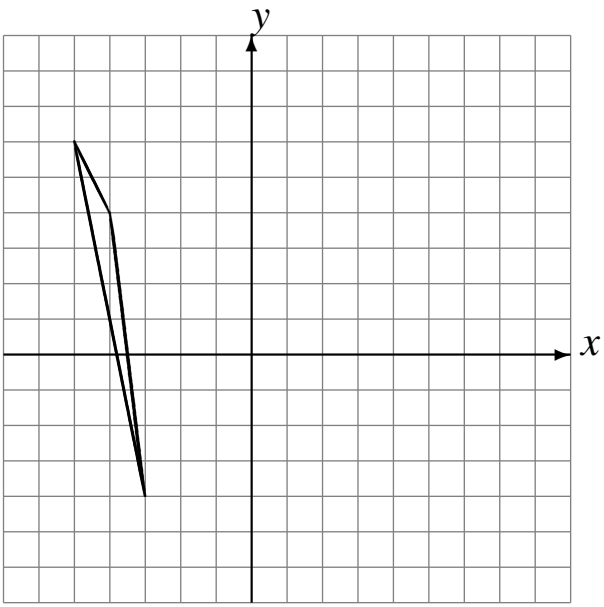
Déplacement de la figure par (2, 2).
Déplacement de la figure par (3, -4).
Déplacement de la figure par (4, 2).