Transformations Géométriques (D)

Dessinez l'image finale et les étapes intermédiaires des transformations décrites.

Déplacement de la figure par (-2, 2).
Déplacement de la figure par (1, 2).
Réflexion par rapport à l'axe y = 0.

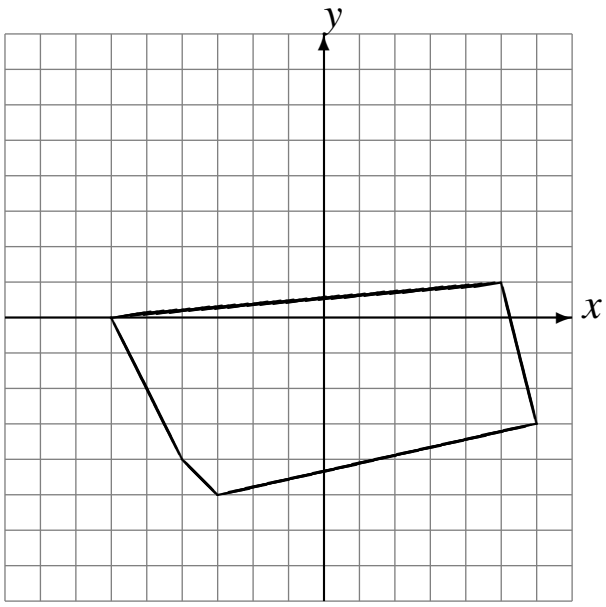

Déplacement de la figure par (-4, 3).
Déplacement de la figure par (2, 5).
Rotation dans le sens antihoraire de 90° autour du point (-3, -1).

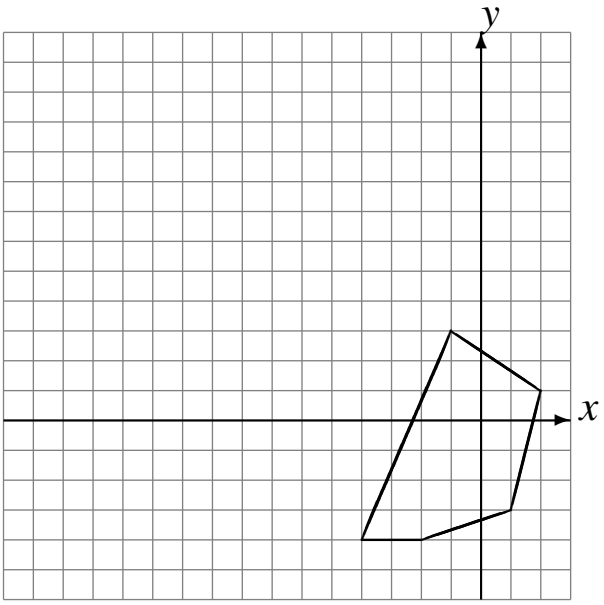

Réflexion par rapport à l'axe y = -1.
Réflexion par rapport à l'axe y = -1.
Déplacement de la figure par (-6, 0).

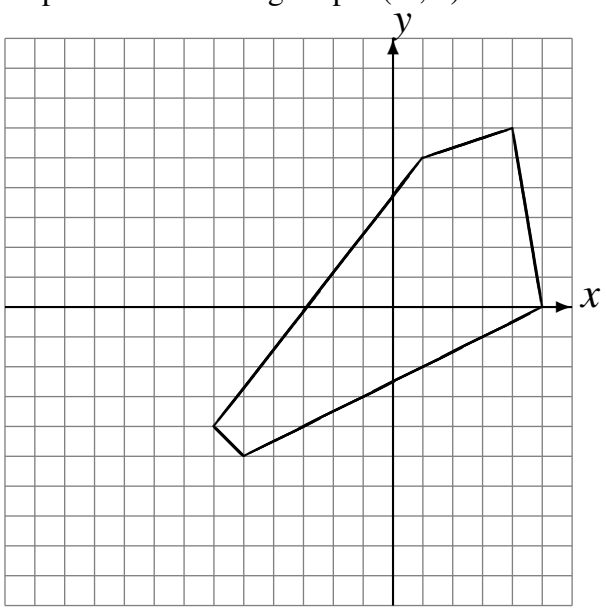

Déplacement de la figure par (2, -4).
Réflexion par rapport à l'axe y = 0.
Rotation dans le sens horaire de 90° autour du point (-2, 5).

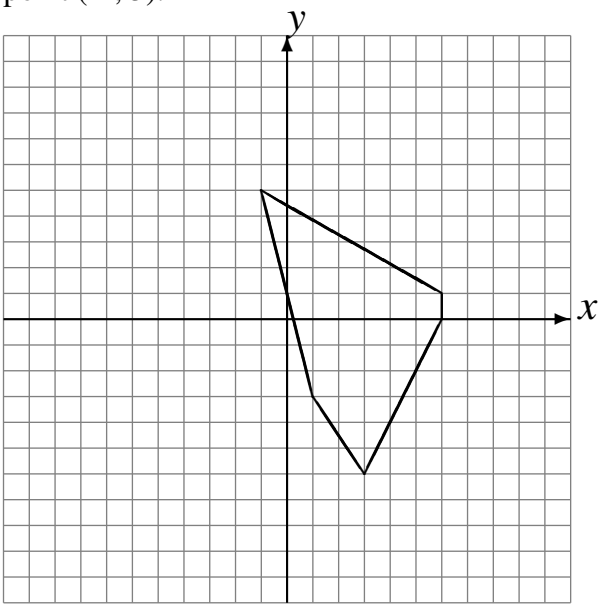

Transformations Géométriques (D) Solutions

Dessinez l'image finale et les étapes intermédiaires des transformations décrites.

Déplacement de la figure par (-2, 2).
Déplacement de la figure par (1, 2).
Réflexion par rapport à l'axe y = 0.

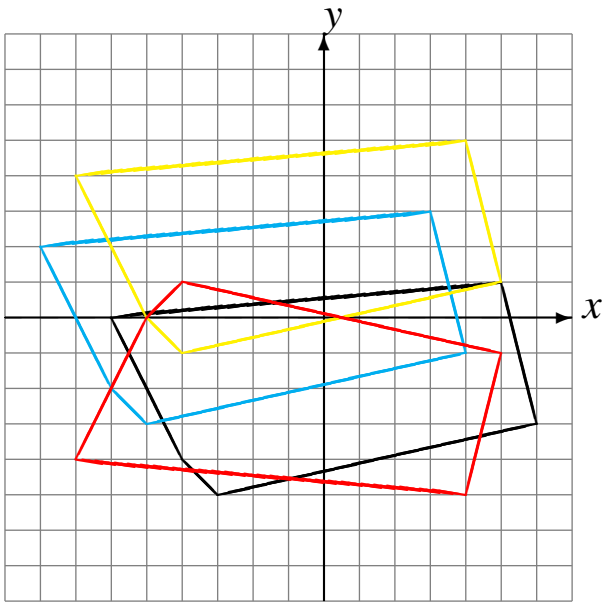

Déplacement de la figure par (-4, 3).
Déplacement de la figure par (2, 5).
Rotation dans le sens antihoraire de 90° autour du point (-3, -1).

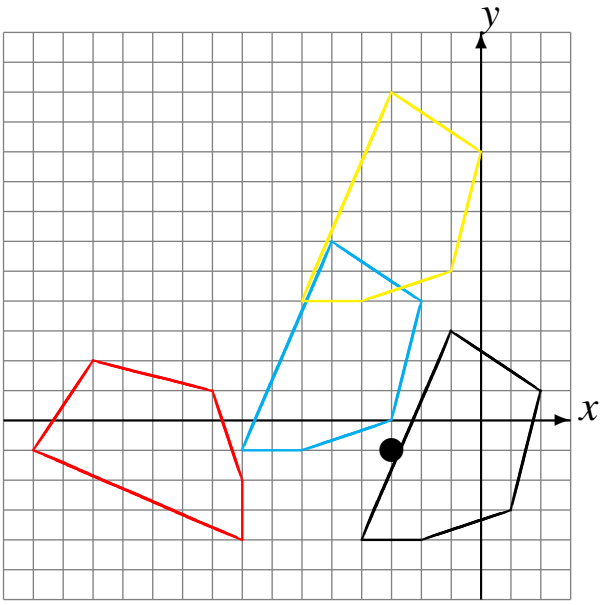

Réflexion par rapport à l'axe y = -1.
Réflexion par rapport à l'axe y = -1.
Déplacement de la figure par (-6, 0).

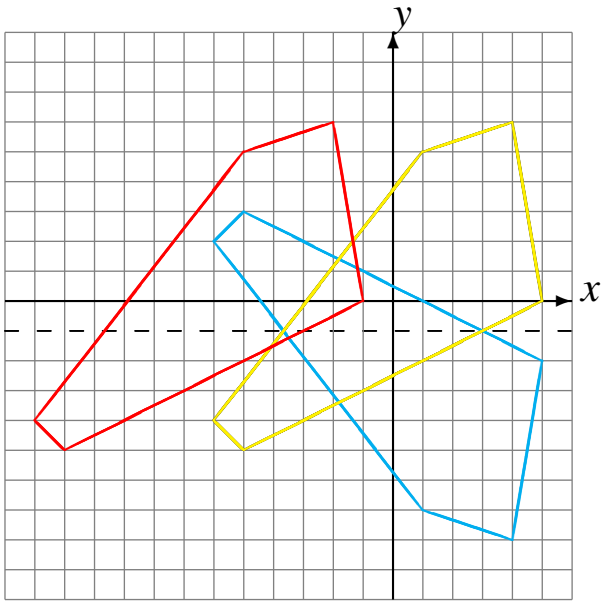
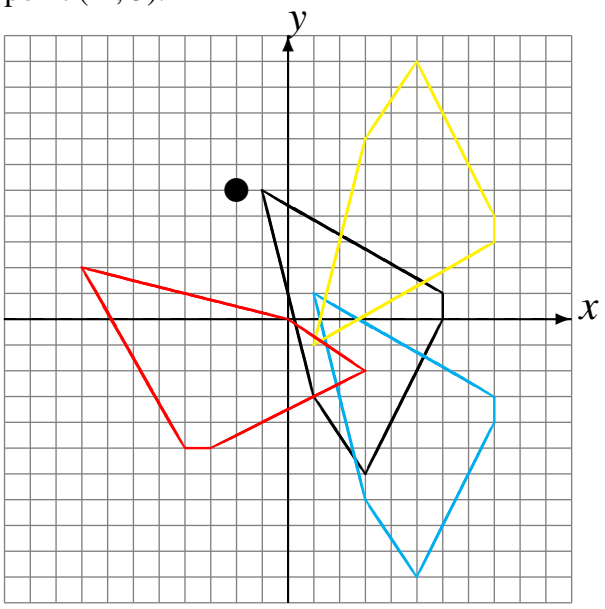
Déplacement de la figure par (2, -4).
Réflexion par rapport à l'axe y = 0.
Rotation dans le sens horaire de 90° autour du point (-2, 5).