Transformations Géométriques (D)

Dessinez l'image finale et les étapes intermédiaires des transformations décrites.

Réflexion par rapport à l'axe y = -1.
Homothétie de centre (-1, 0) et de rapport $\frac{1}{4}$.

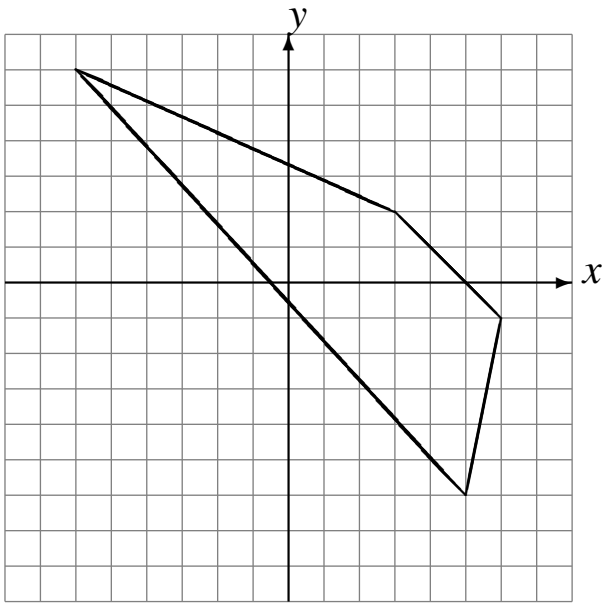

Homothétie de centre (3, -4) et de rapport $\frac{1}{2}$.
Homothétie de centre (-4, -1) et de rapport 4.

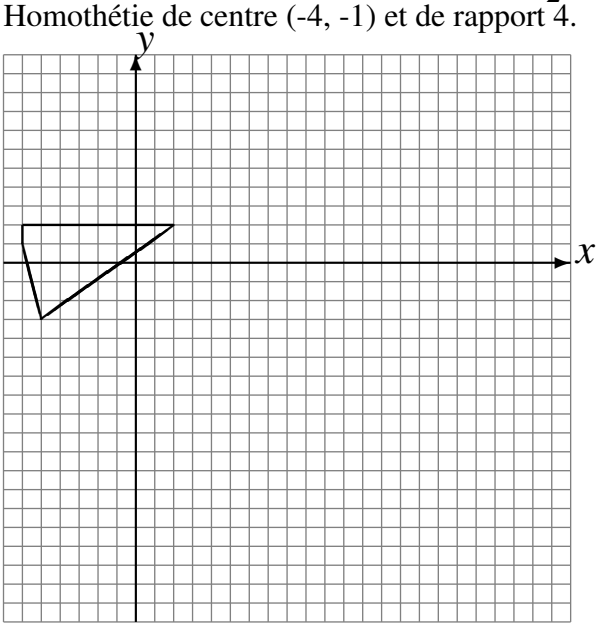

Déplacement de la figure par (0, 4).
Déplacement de la figure par (6, -4).

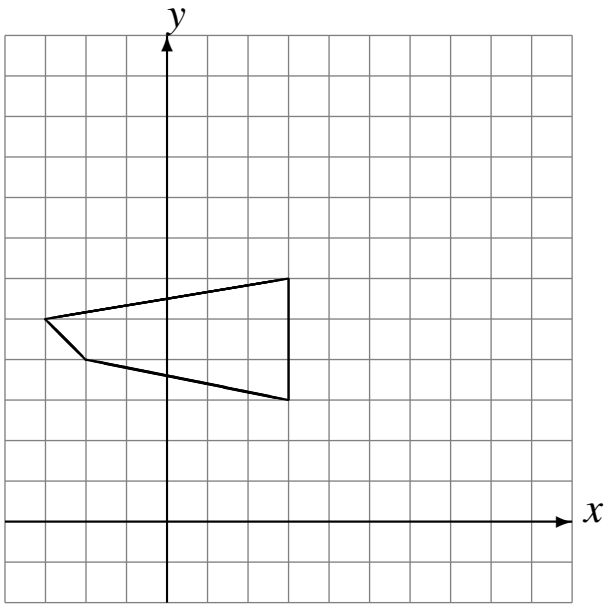
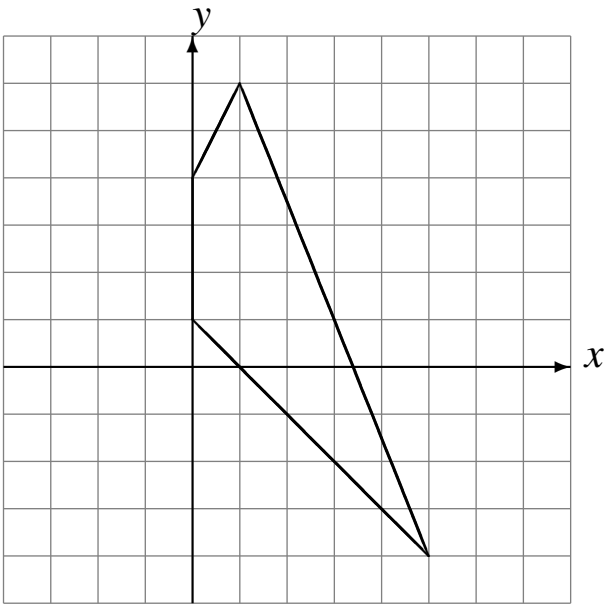
Homothétie de centre (-2, 5) et de rapport $\frac{1}{4}$.
Homothétie de centre (-2, 1) et de rapport $\frac{1}{3}$.