Transformations Géométriques (J)

Dessinez l'image finale et les étapes intermédiaires des transformations décrites.

Réflexion par rapport à l'axe x = 3.
Réflexion par rapport à l'axe x = 3.
Réflexion par rapport à l'axe y = 1.

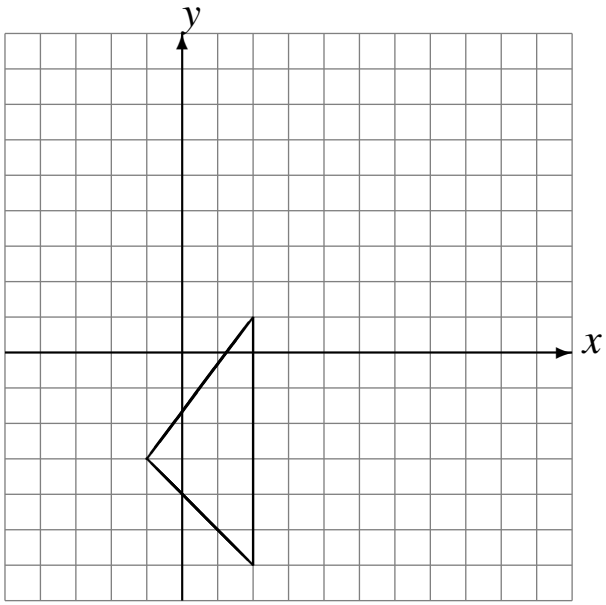

Déplacement de la figure par (-1, -6).
Déplacement de la figure par (6, -5).
Réflexion par rapport à l'axe x = 3.

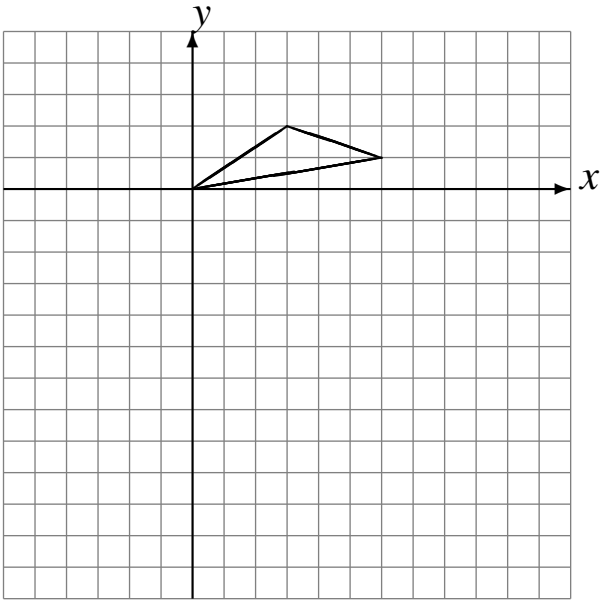

Réflexion par rapport à l'axe x = 4.
Rotation dans le sens horaire de 90° autour du point (3, 3).
Rotation dans le sens horaire de 90° autour du point (-3, -1).

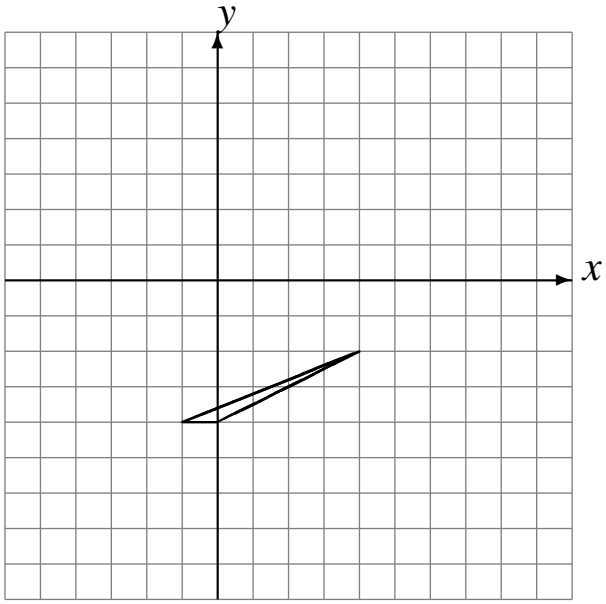
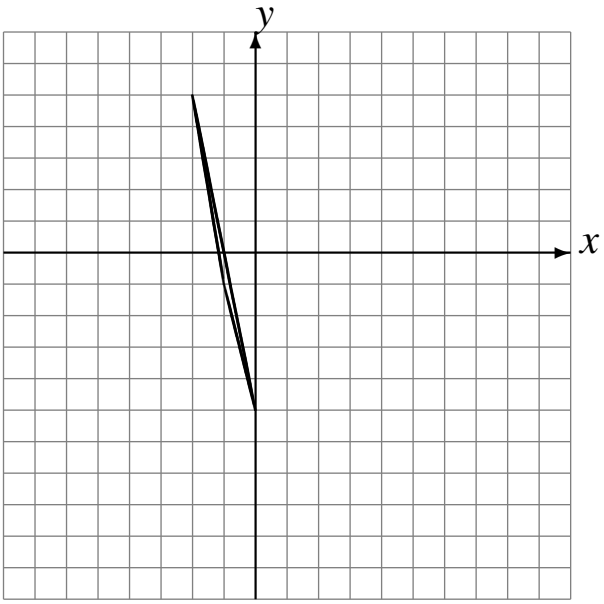
Déplacement de la figure par (4, 0).
Déplacement de la figure par (0, -5).
Rotation dans le sens antihoraire de 90° autour du point (-3, -1).