Transformations Géométriques (E)

Dessinez l'image finale et les étapes intermédiaires des transformations décrites.

Réflexion par rapport à l'axe x = -4.
Rotation de 180° autour du point (-4, -2).
Réflexion par rapport à l'axe x = 2.

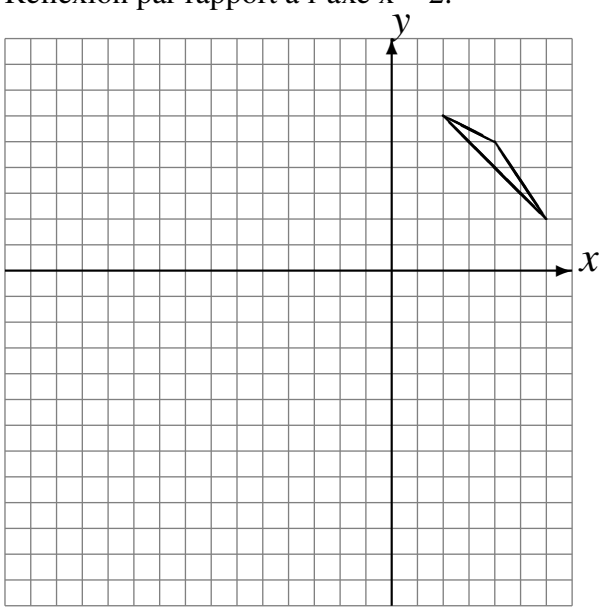

Rotation dans le sens antihoraire de 90° autour du point (-3, -2).
Rotation de 180° autour du point (-5, 1).
Rotation de 180° autour du point (3, 3).

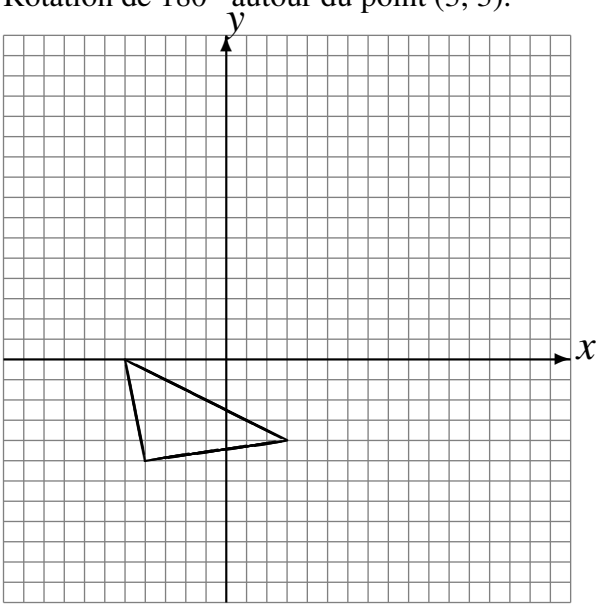

Rotation de 180° autour du point (-5, -1).
Déplacement de la figure par (3, -1).
Rotation de 180° autour du point (-5, -5).

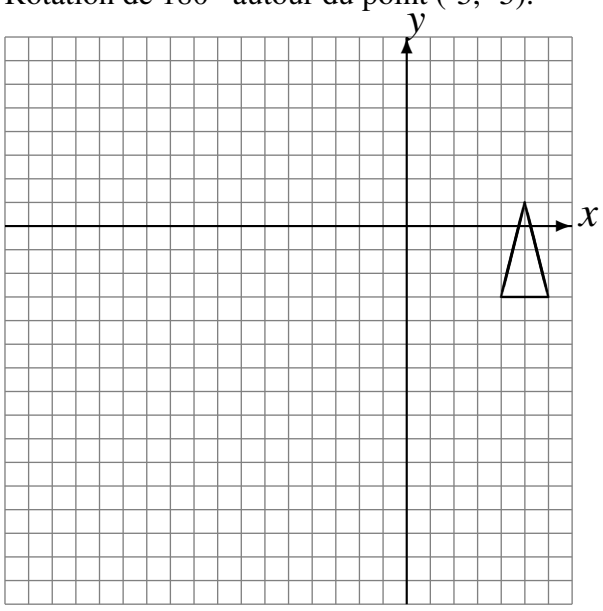
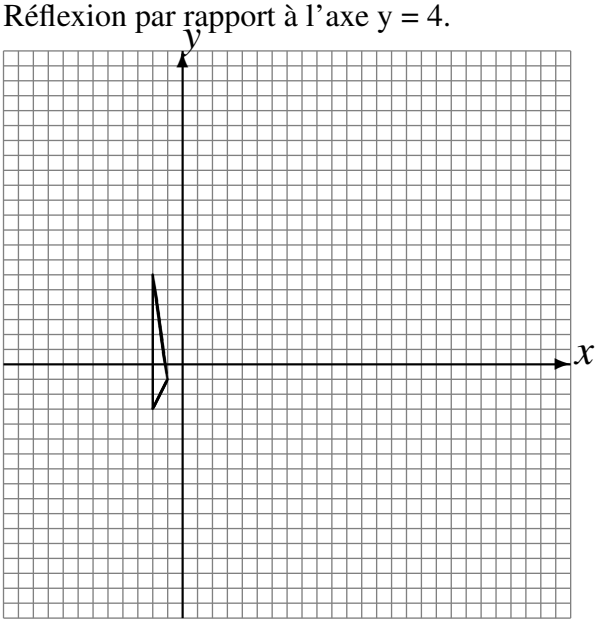
Rotation de 180° autour du point (-4, -5).
Rotation dans le sens antihoraire de 90° autour du point (5, 0).
Réflexion par rapport à l'axe y = 4.