Rotations (E)

Dessinez l'image finale et les étapes intermédiaires de la rotation décrite.

Rotation de 180° autour du point (-5, 3).
Rotation dans le sens antihoraire de 90° autour du point (-1, -1).

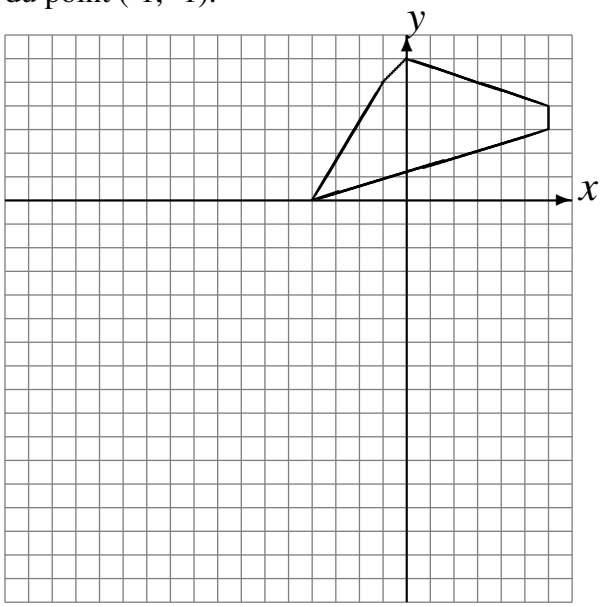

Rotation dans le sens antihoraire de 90° autour du point (-3, 4).
Rotation dans le sens antihoraire de 90° autour du point (-2, -1).

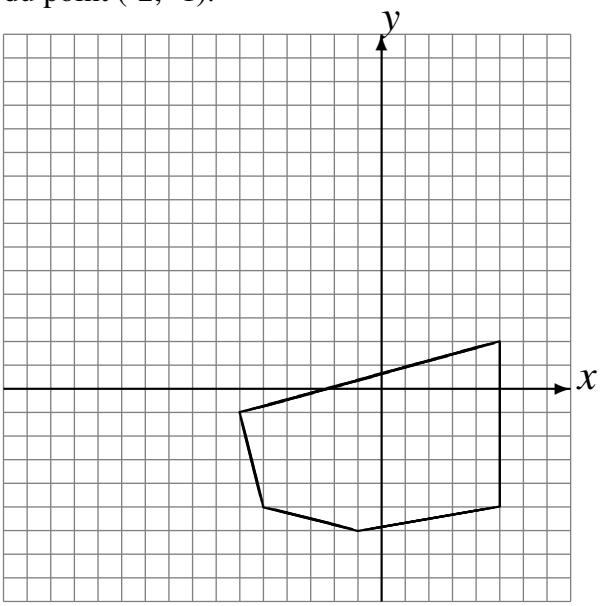

Rotation dans le sens antihoraire de 90° autour du point (1, -4).
Rotation dans le sens antihoraire de 90° autour du point (4, -5).

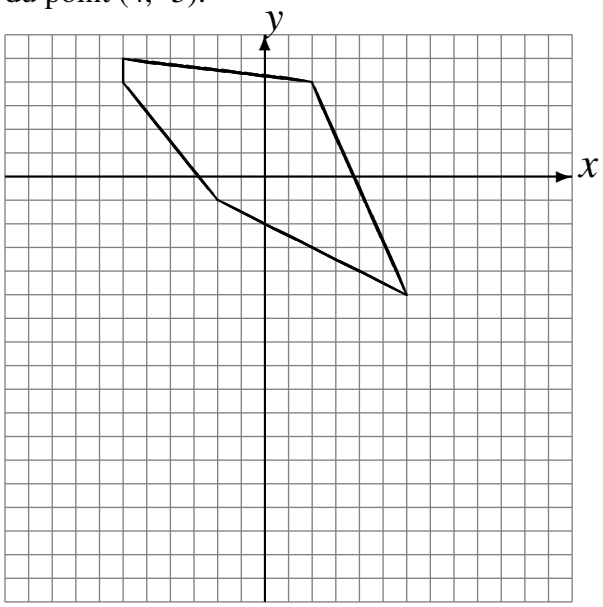
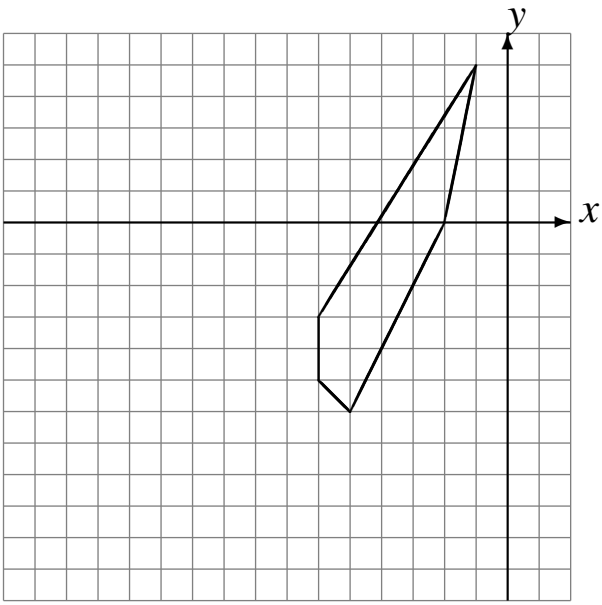
Rotation de 180° autour du point (-4, -3).
Rotation dans le sens horaire de 90° autour du point (-5, -1).