Rotations (B)

Dessinez l'image finale et les étapes intermédiaires de la rotation décrite.

Rotation de 180° autour du point (0, 4).
Rotation dans le sens antihoraire de 90° autour du point (4, 3).

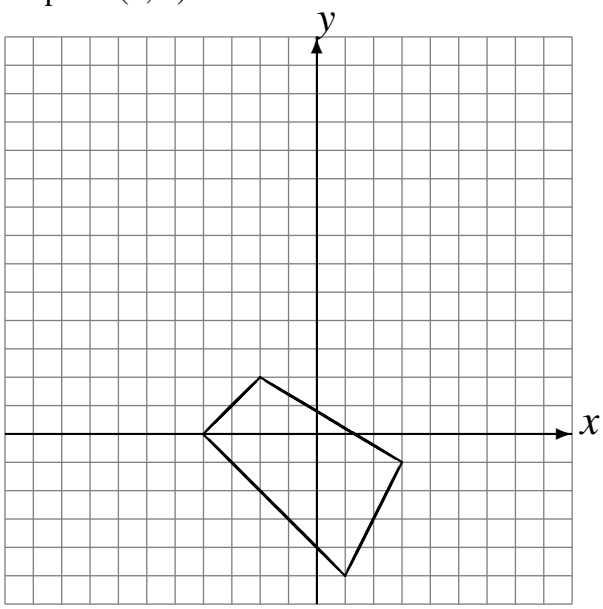

Rotation dans le sens horaire de 90° autour du point (-5, 5).
Rotation dans le sens horaire de 90° autour du point (1, -1).

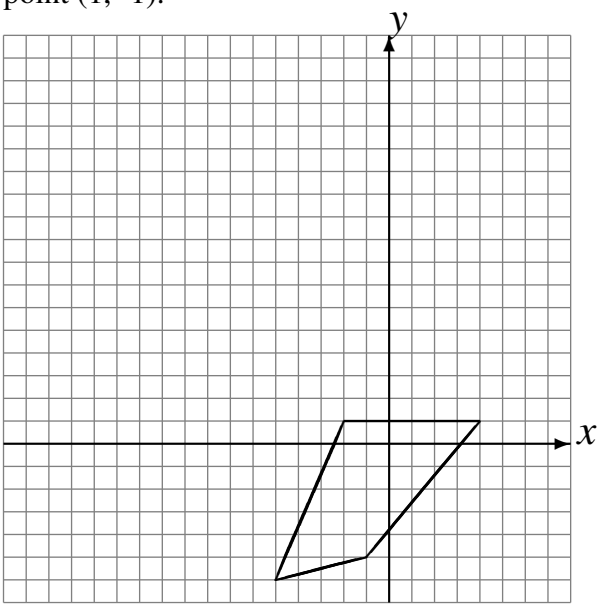

Rotation dans le sens antihoraire de 90° autour du point (-1, -5).
Rotation dans le sens antihoraire de 90° autour du point (-3, 5).

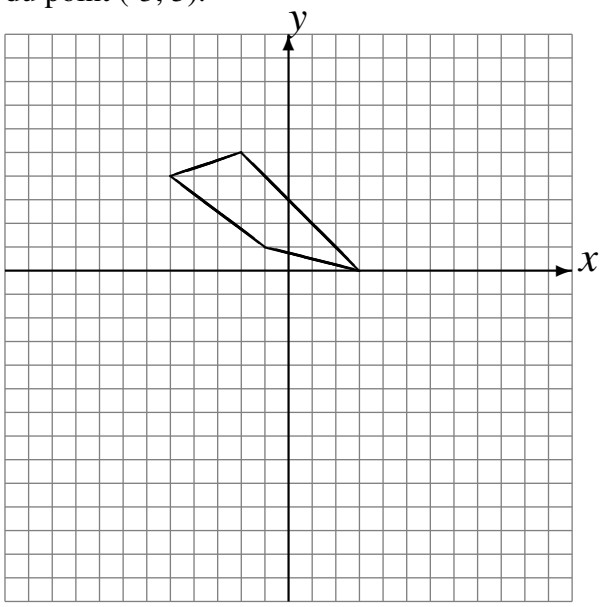
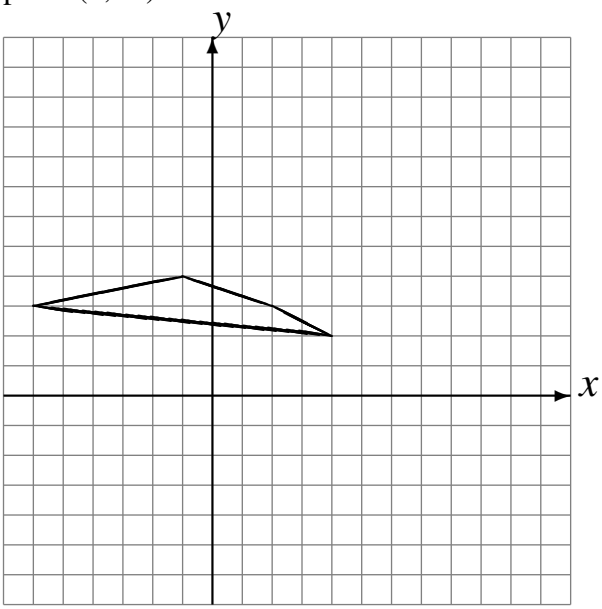
Rotation dans le sens antihoraire de 90° autour du point (0, 3).
Rotation dans le sens horaire de 90° autour du point (2, -2).