Rotations (A)

Dessinez l'image finale et les étapes intermédiaires de la rotation décrite.

Rotation de 180° autour du point (3, -2).
Rotation dans le sens horaire de 90° autour du point (-5, -5).
Rotation dans le sens antihoraire de 90° autour du point (-2, 4).

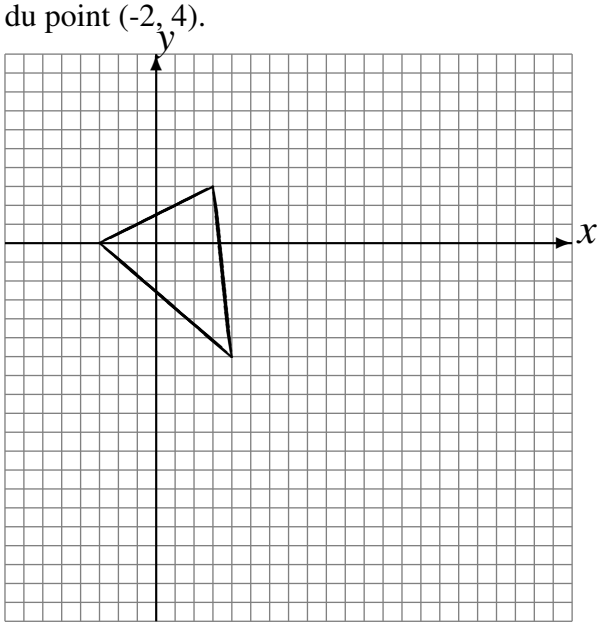

Rotation dans le sens horaire de 90° autour du point (4, 5).
Rotation dans le sens antihoraire de 90° autour du point (1, -4).
Rotation de 180° autour du point (2, 0).

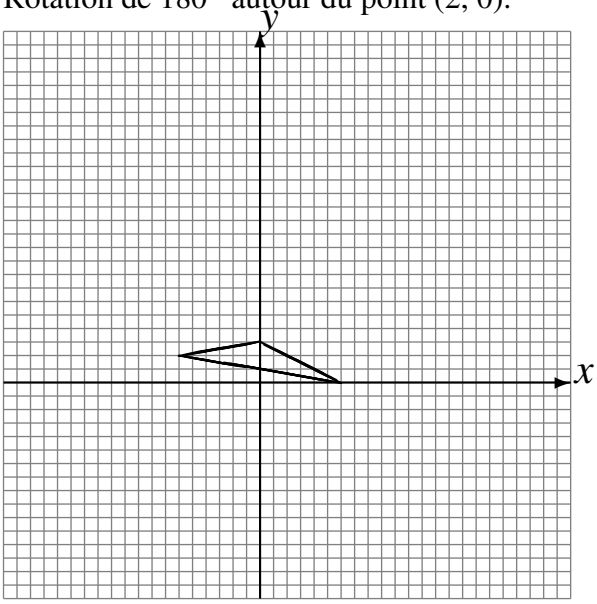

Rotation dans le sens horaire de 90° autour du point (5, -4).
Rotation de 180° autour du point (5, -2).
Rotation dans le sens antihoraire de 90° autour du point (-3, -3).

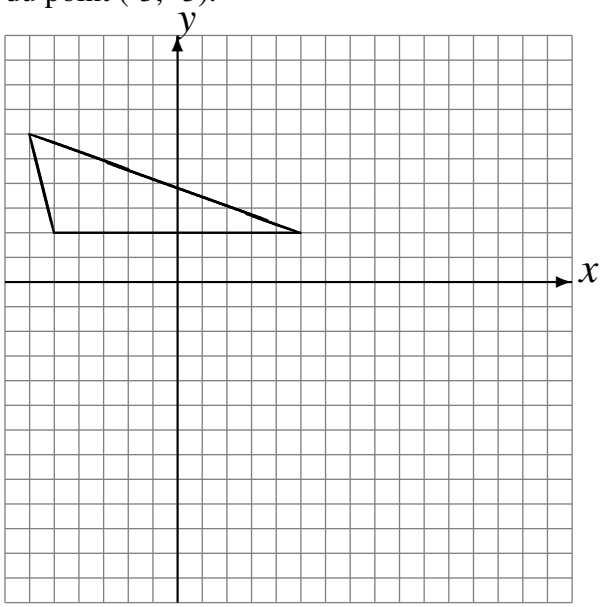
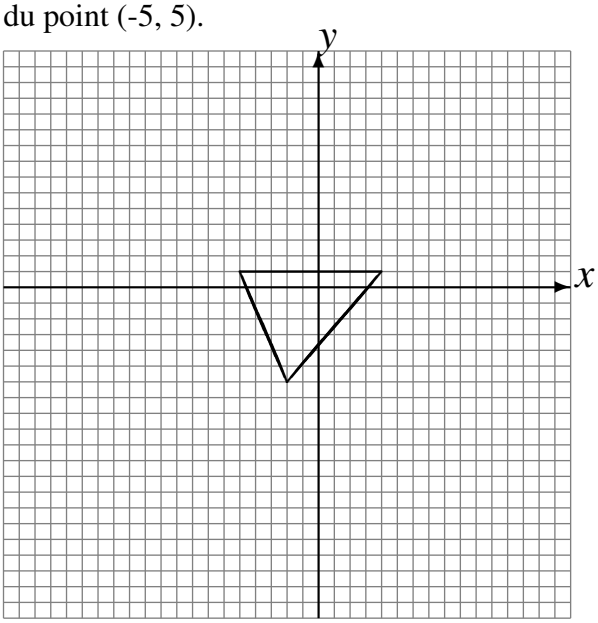
Rotation dans le sens antihoraire de 90° autour du point (5, 4).
Rotation de 180° autour du point (-2, -2).
Rotation dans le sens antihoraire de 90° autour du point (-5, 5).