Réflexions (I)

Dessinez l'image finale et les étapes intermédiaires de la réflexion décrite.

Réflexion par rapport à l'axe y = 3.
Réflexion par rapport à l'axe y = -3.
Réflexion par rapport à l'axe x = -4.

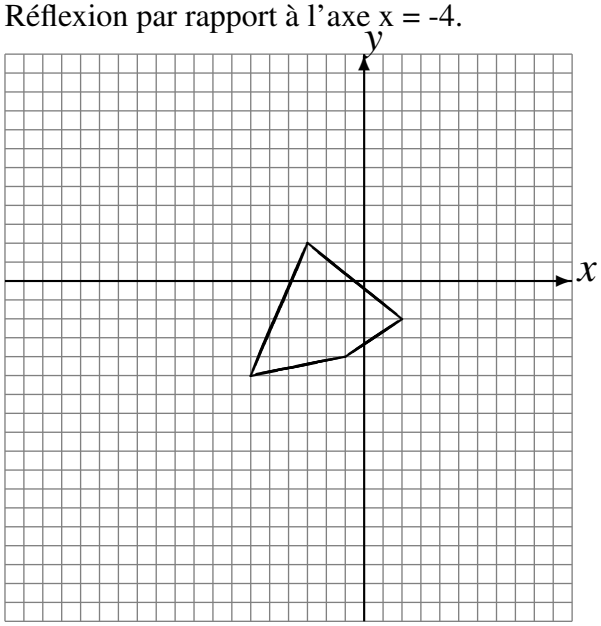

Réflexion par rapport à l'axe y = -2.
Réflexion par rapport à l'axe x = -1.
Réflexion par rapport à l'axe x = 4.

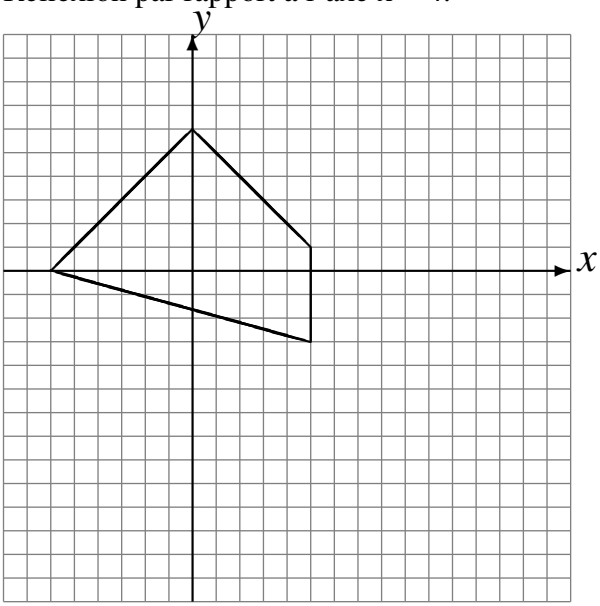

Réflexion par rapport à l'axe y = -2.
Réflexion par rapport à l'axe x = 0.
Réflexion par rapport à l'axe y = -1.

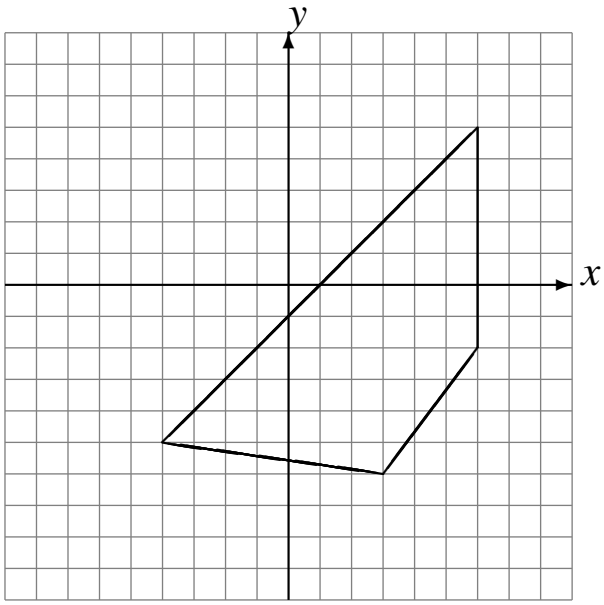
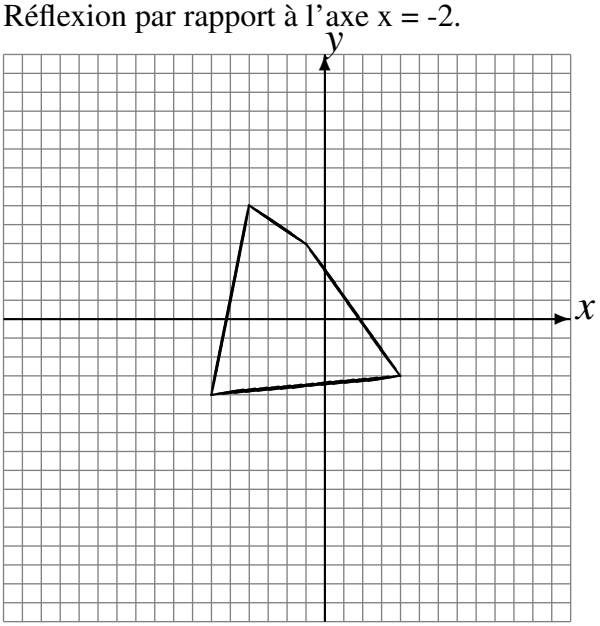
Réflexion par rapport à l'axe x = 3.
Réflexion par rapport à l'axe y = -1.
Réflexion par rapport à l'axe x = -2.