L'Homothétie (I)

Dessinez l'image finale et les étapes intermédiaires de l'homothétie décrite.

Homothétie de centre (4, -1) et de rapport 4.
Homothétie de centre (0, -4) et de rapport 2.

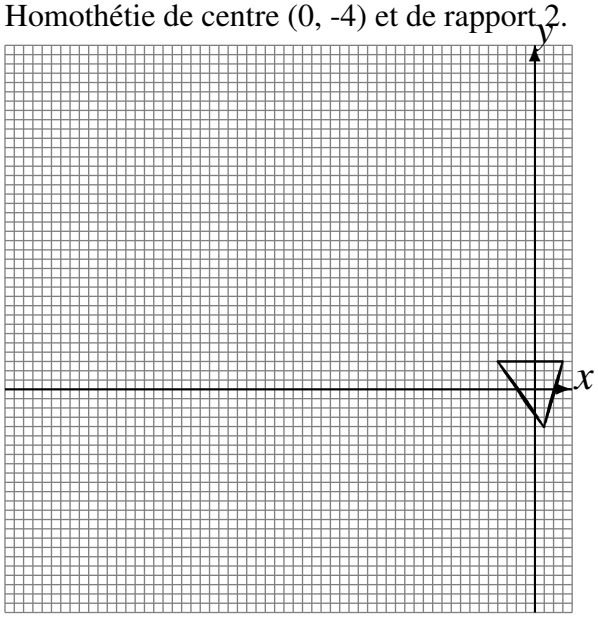

Homothétie de centre (-4, -5) et de rapport $\frac{1}{2}$.
Homothétie de centre (2, 4) et de rapport $\frac{1}{4}$.

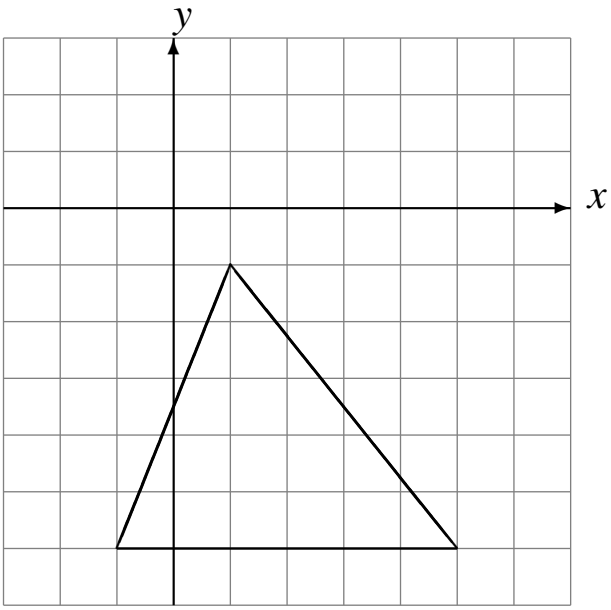

Homothétie de centre (-3, 1) et de rapport 2.
Homothétie de centre (-2, 5) et de rapport $\frac{1}{3}$.

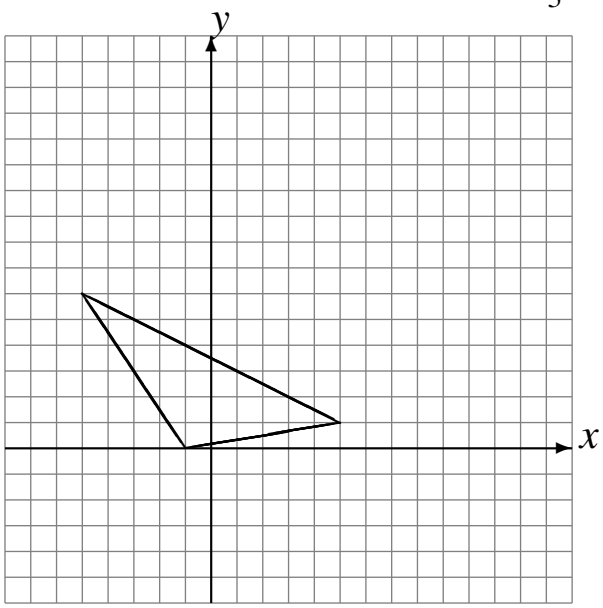
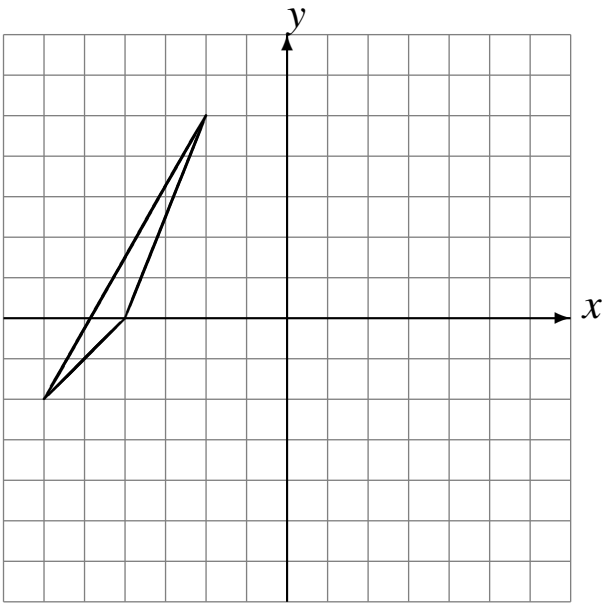
Homothétie de centre (3, -4) et de rapport $\frac{1}{4}$.
Homothétie de centre (-3, -2) et de rapport 2.