Regroupement en Blocs de Base Dix (A)

Nom: _____ Date: _____

Quel est le nombre indiqué dans chaque bloc de base dix?

1.

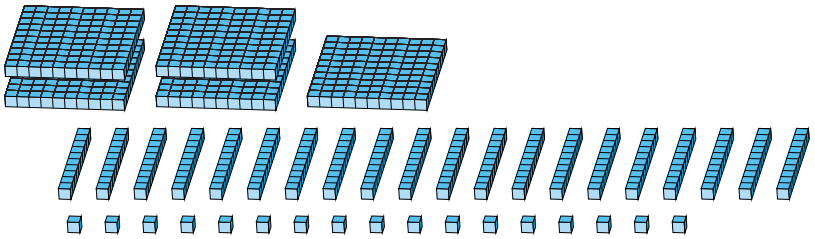

centaines	dizaines	unités	regrouper →			

2.

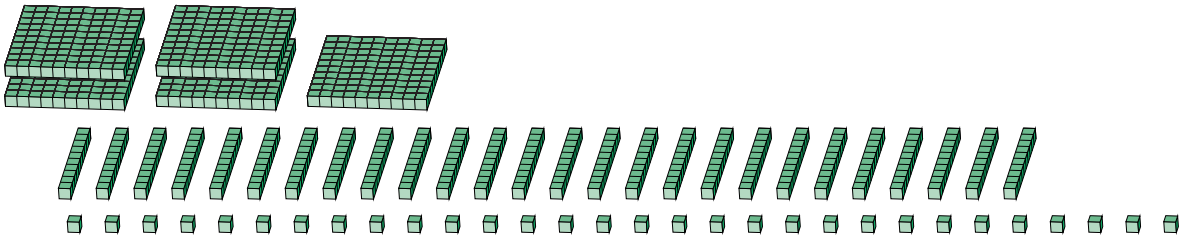

centaines	dizaines	unités	regrouper →			

Regroupement en Blocs de Base Dix (A) Réponses

Nom: _____ Date: _____

Quel est le nombre indiqué dans chaque bloc de base dix?

1.

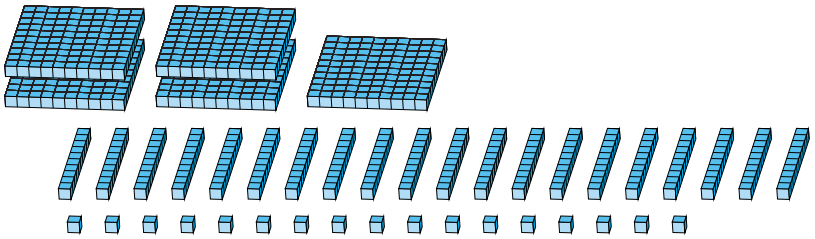

5	20	17	→ regrouper	7	1	7
centaines	dizaines	unités				

2.

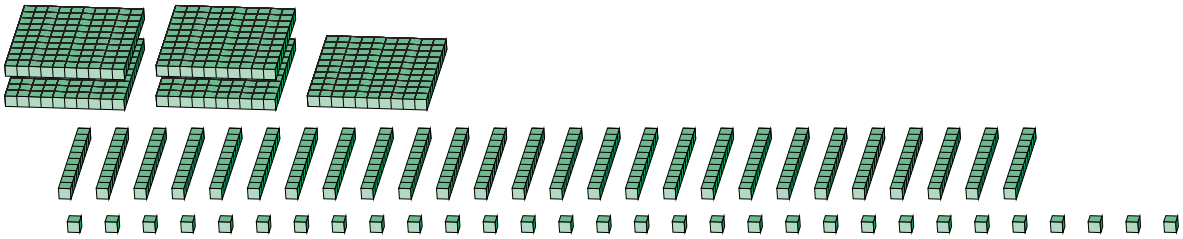

5	26	30	→ regrouper	7	9	0
centaines	dizaines	unités				

Regroupement en Blocs de Base Dix (B)

Nom: _____ Date: _____

Quel est le nombre indiqué dans chaque bloc de base dix?

1.

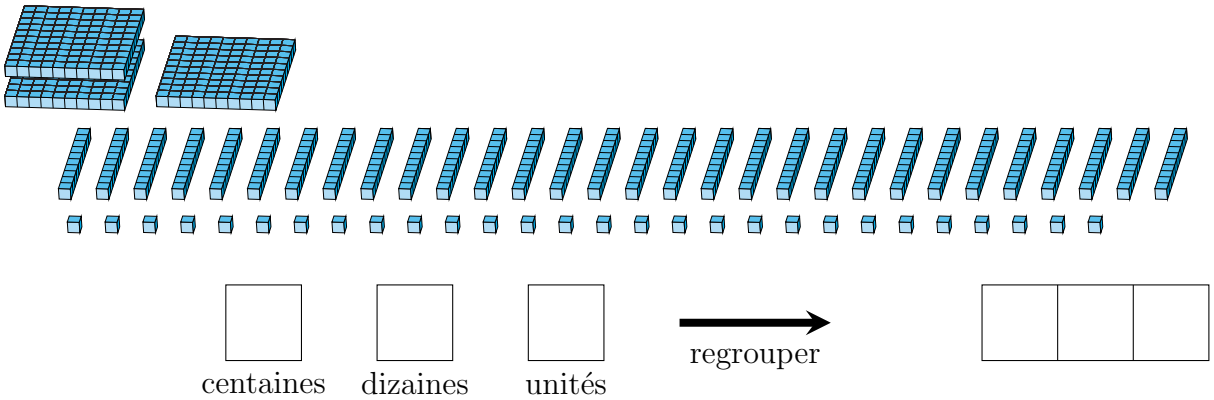

2.

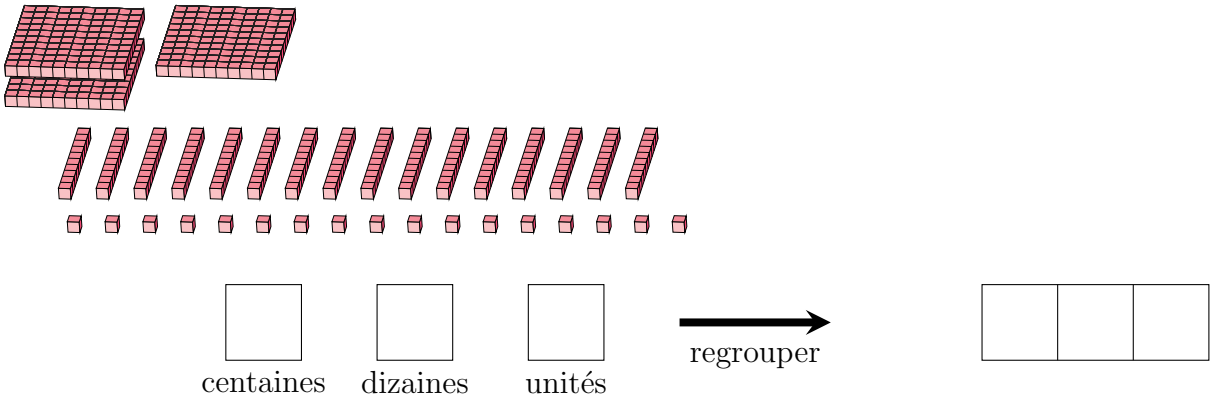

Regroupement en Blocs de Base Dix (B) Réponses

Nom: _____ Date: _____

Quel est le nombre indiqué dans chaque bloc de base dix?

1.

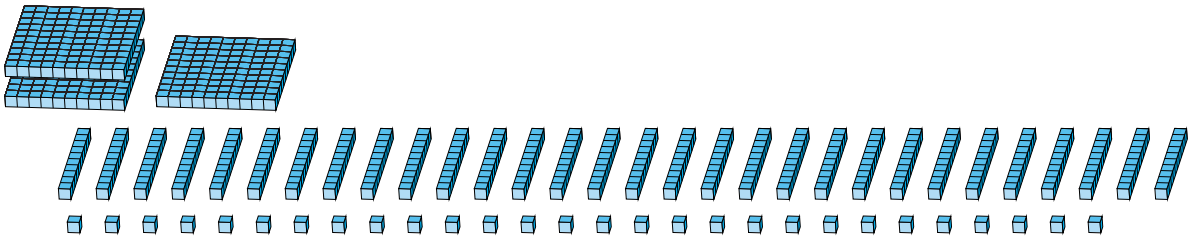

3	30	28	→ regrouper	6	2	8
centaines	dizaines	unités				

2.

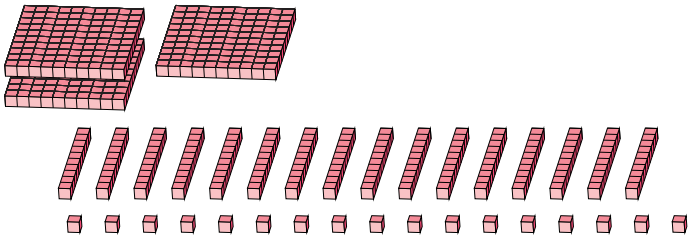

1	16	17	→ regrouper	2	7	7
centaines	dizaines	unités				

Regroupement en Blocs de Base Dix (C)

Nom: _____ Date: _____

Quel est le nombre indiqué dans chaque bloc de base dix?

1.

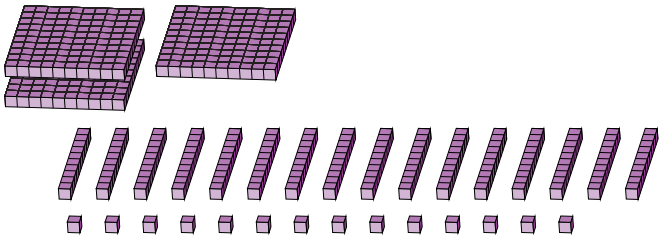

centaines	dizaines	unités	regrouper →			

2.

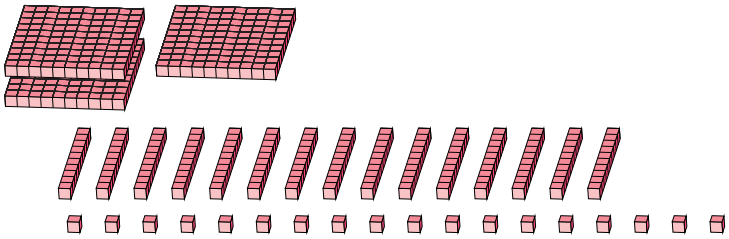

centaines	dizaines	unités	regrouper →			

Regroupement en Blocs de Base Dix (C) Réponses

Nom: _____ Date: _____

Quel est le nombre indiqué dans chaque bloc de base dix?

1.

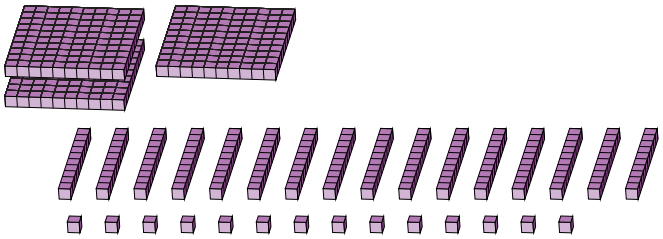

1	16	14	regrouper →	2	7	4
centaines	dizaines	unités				

2.

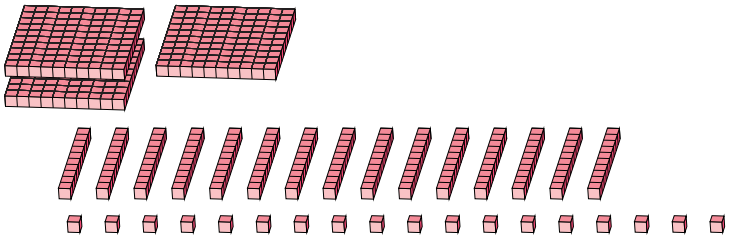

1	15	18	regrouper →	2	6	8
centaines	dizaines	unités				

Regroupement en Blocs de Base Dix (D)

Nom: _____ Date: _____

Quel est le nombre indiqué dans chaque bloc de base dix?

1.

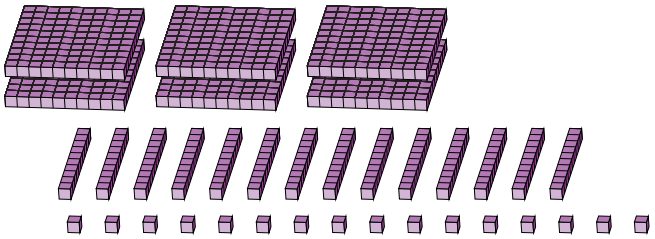

centaines	dizaines	unités	regrouper →			

2.

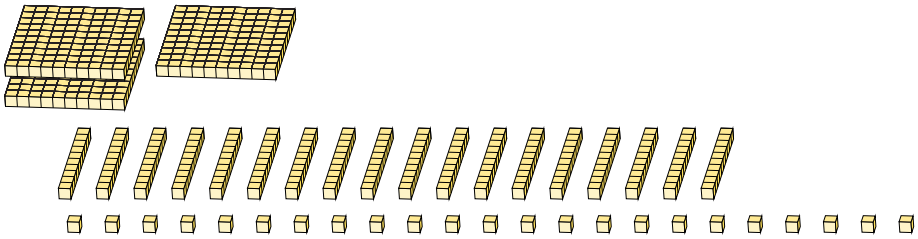

centaines	dizaines	unités	regrouper →			

Regroupement en Blocs de Base Dix (D) Réponses

Nom: _____ Date: _____

Quel est le nombre indiqué dans chaque bloc de base dix?

1.

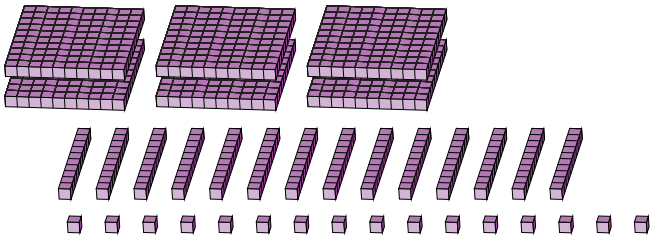

6	14	16	→ regrouper	7	5	6
centaines	dizaines	unités				

2.

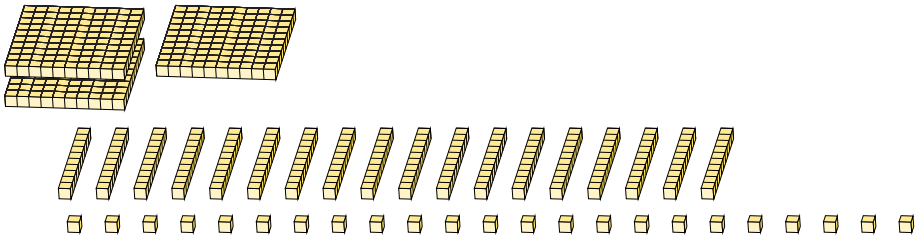

1	18	23	→ regrouper	3	0	3
centaines	dizaines	unités				

Regroupement en Blocs de Base Dix (E)

Nom: _____ Date: _____

Quel est le nombre indiqué dans chaque bloc de base dix?

1.

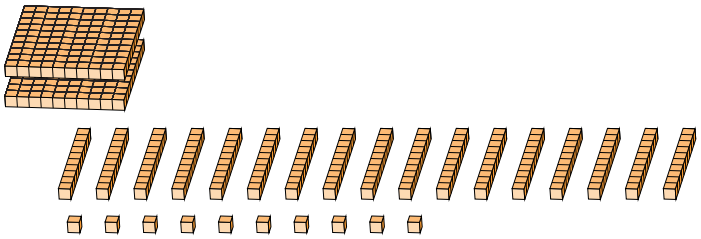

centaines	dizaines	unités	regrouper →			

2.

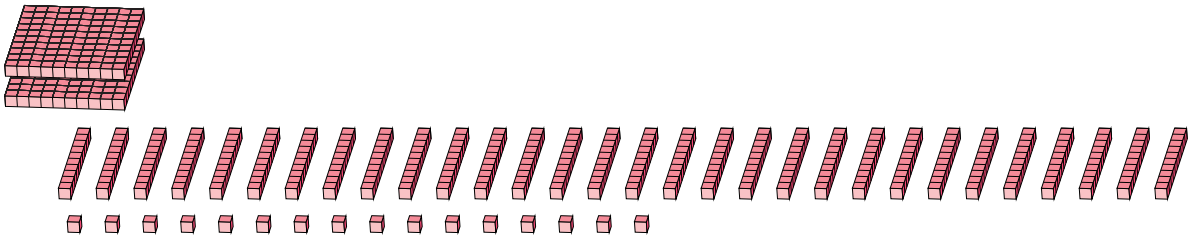

centaines	dizaines	unités	regrouper →			

Regroupement en Blocs de Base Dix (E) Réponses

Nom: _____ Date: _____

Quel est le nombre indiqué dans chaque bloc de base dix?

1.

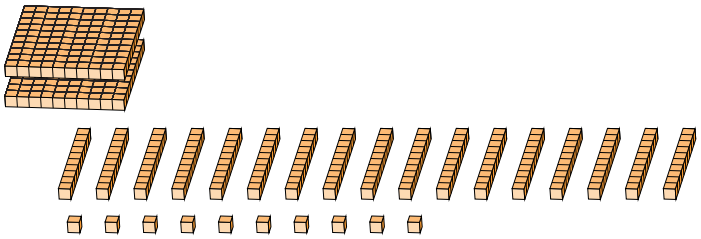

2	17	10	→ regrouper	3	8	0
centaines	dizaines	unités				

2.

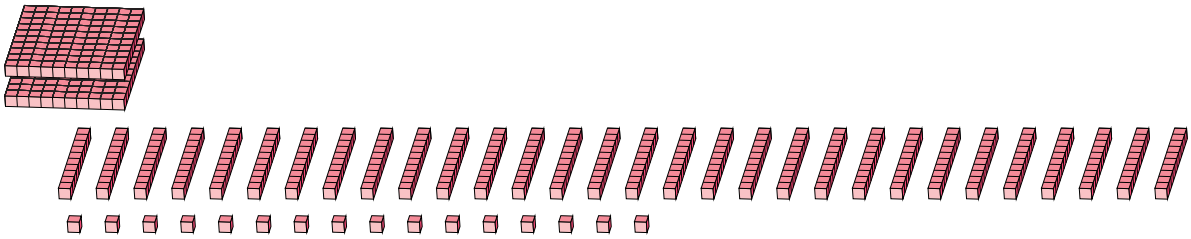

2	30	16	→ regrouper	5	1	6
centaines	dizaines	unités				

Regroupement en Blocs de Base Dix (F)

Nom: _____ Date: _____

Quel est le nombre indiqué dans chaque bloc de base dix?

1.

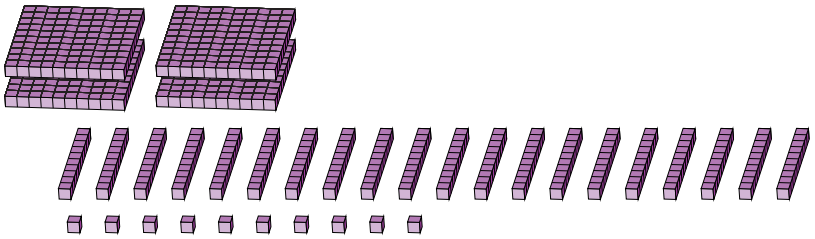

centaines	dizaines	unités	regrouper →			

2.

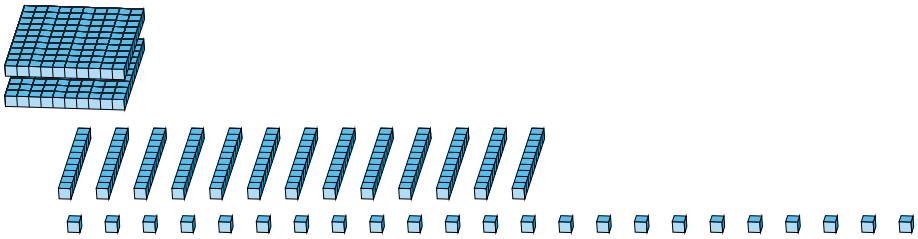

centaines	dizaines	unités	regrouper →			

Regroupement en Blocs de Base Dix (F) Réponses

Nom: _____ Date: _____

Quel est le nombre indiqué dans chaque bloc de base dix?

1.

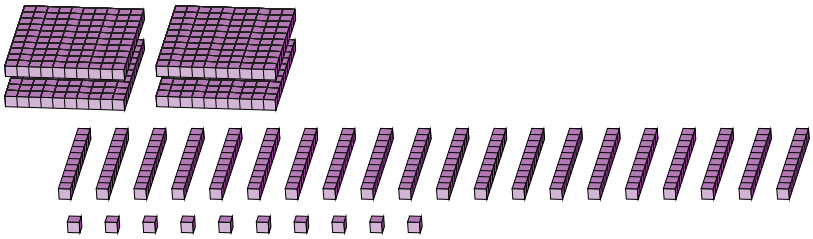

4	20	10	→ regrouper	6	1	0
centaines	dizaines	unités				

2.

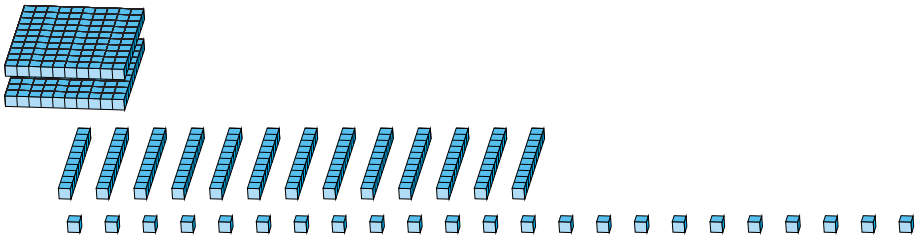

2	13	23	→ regrouper	3	5	3
centaines	dizaines	unités				

Regroupement en Blocs de Base Dix (G)

Nom: _____ Date: _____

Quel est le nombre indiqué dans chaque bloc de base dix?

1.

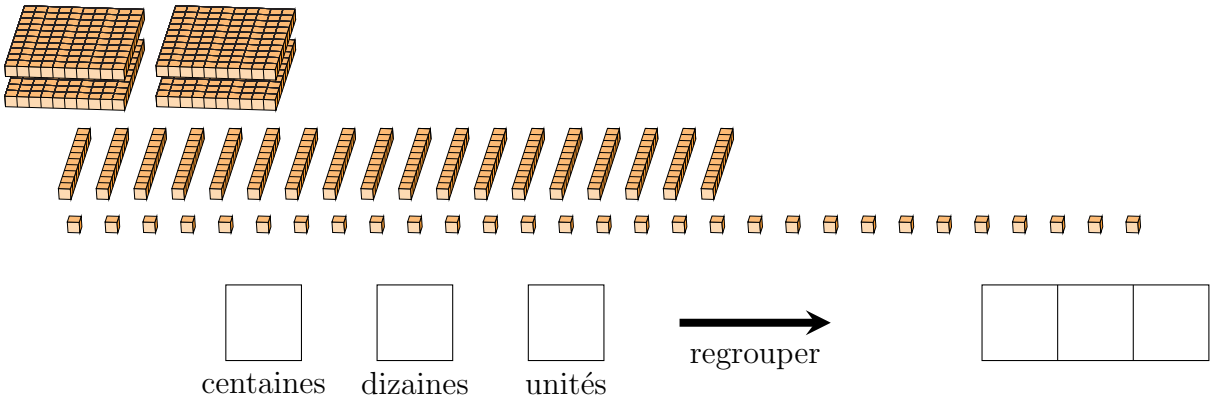

2.

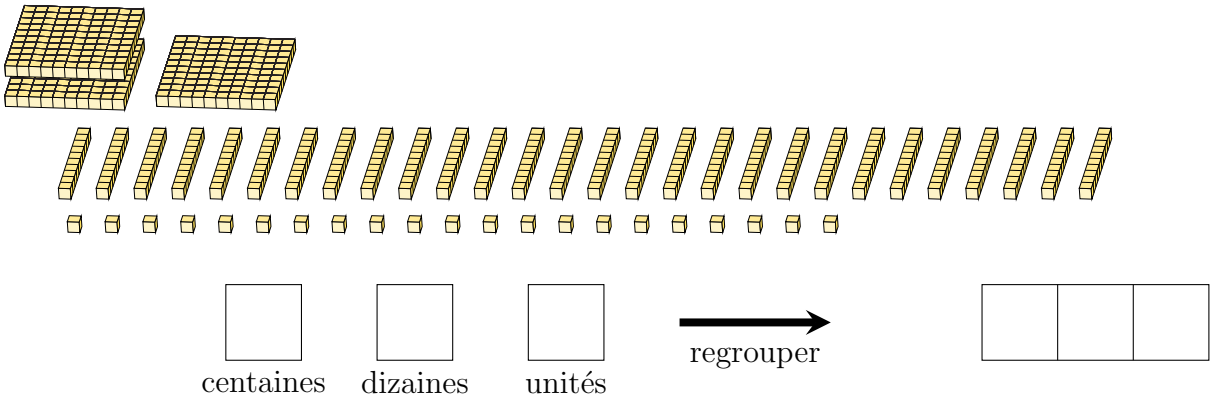

Regroupement en Blocs de Base Dix (G) Réponses

Nom: _____ Date: _____

Quel est le nombre indiqué dans chaque bloc de base dix?

1.

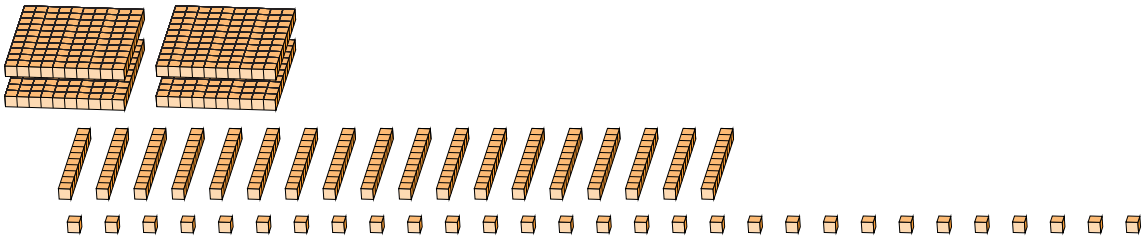

4	18	29	→ regrouper	6	0	9
centaines	dizaines	unités				

2.

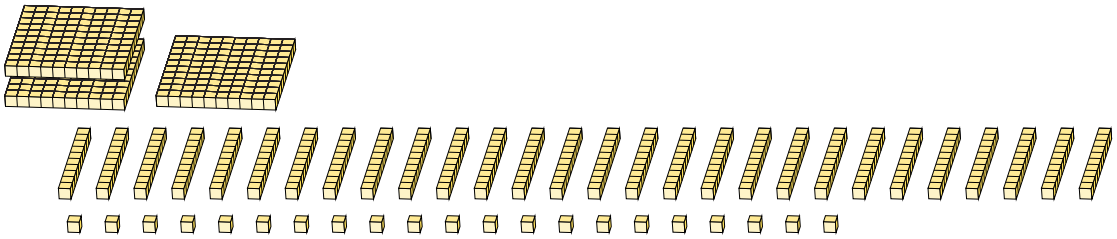

3	28	21	→ regrouper	6	0	1
centaines	dizaines	unités				

Regroupement en Blocs de Base Dix (H)

Nom: _____ Date: _____

Quel est le nombre indiqué dans chaque bloc de base dix?

1.

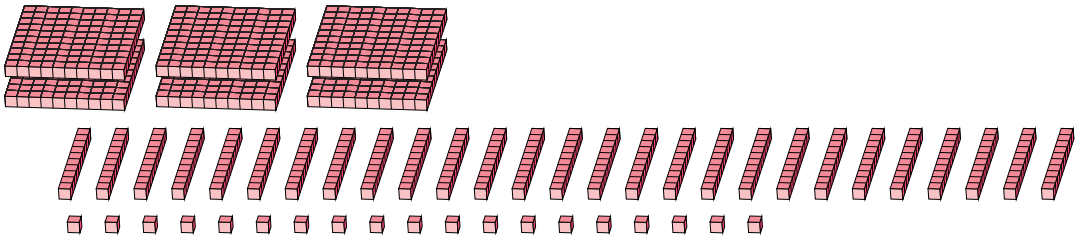

centaines	dizaines	unités	regrouper →			

2.

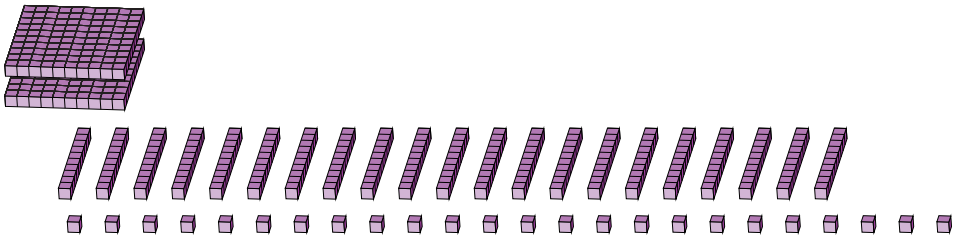

centaines	dizaines	unités	regrouper →			

Regroupement en Blocs de Base Dix (H) Réponses

Nom: _____ Date: _____

Quel est le nombre indiqué dans chaque bloc de base dix?

1.

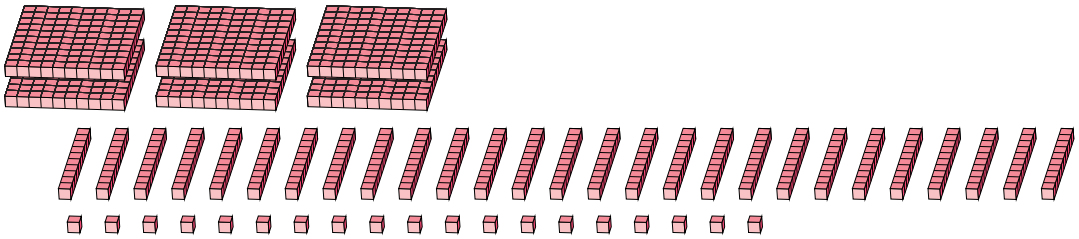

6	27	19	→ regrouper	8	8	9
centaines	dizaines	unités				

2.

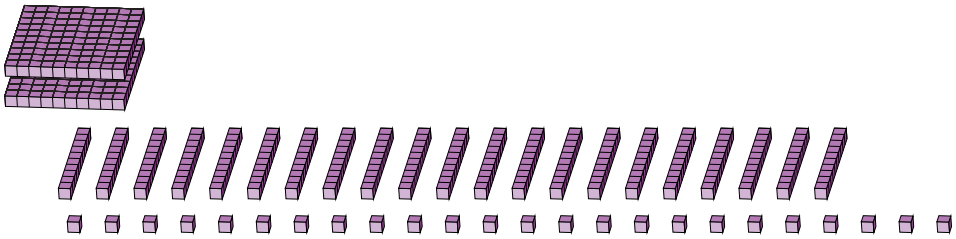

2	21	24	→ regrouper	4	3	4
centaines	dizaines	unités				

Regroupement en Blocs de Base Dix (I)

Nom: _____ Date: _____

Quel est le nombre indiqué dans chaque bloc de base dix?

1.

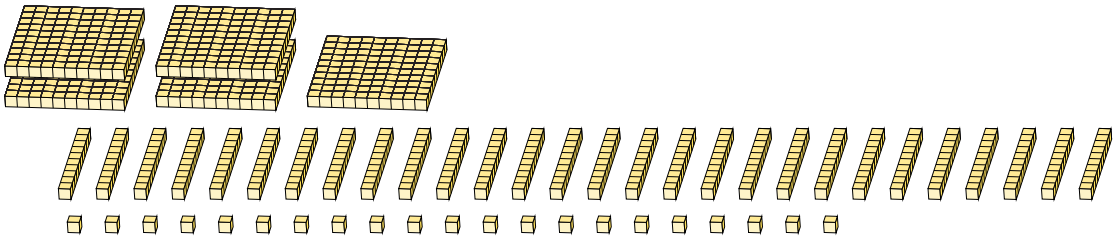

centaines	dizaines	unités	regrouper →			

2.

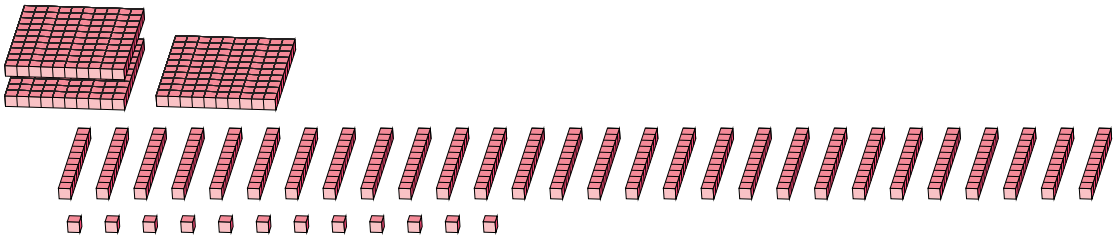

centaines	dizaines	unités	regrouper →			

Regroupement en Blocs de Base Dix (I) Réponses

Nom: _____ Date: _____

Quel est le nombre indiqué dans chaque bloc de base dix?

1.

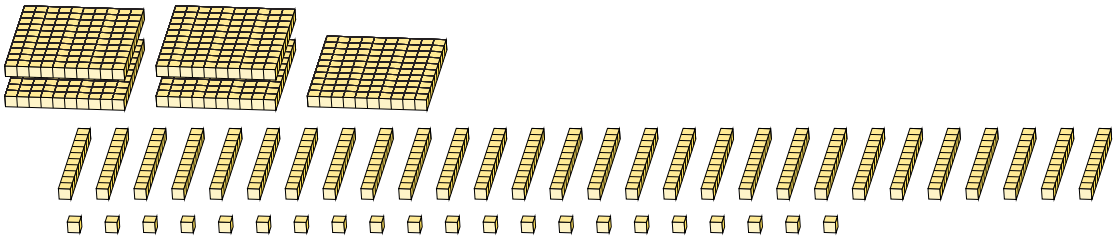

5	28	21	→ regrouper	8	0	1
centaines	dizaines	unités				

2.

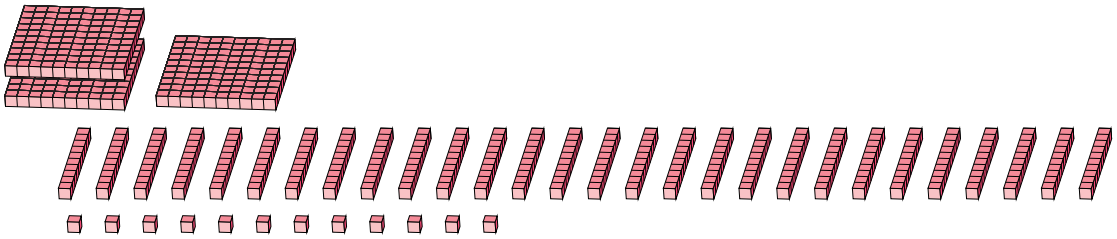

3	28	12	→ regrouper	5	9	2
centaines	dizaines	unités				

Regroupement en Blocs de Base Dix (J)

Nom: _____ Date: _____

Quel est le nombre indiqué dans chaque bloc de base dix?

1.

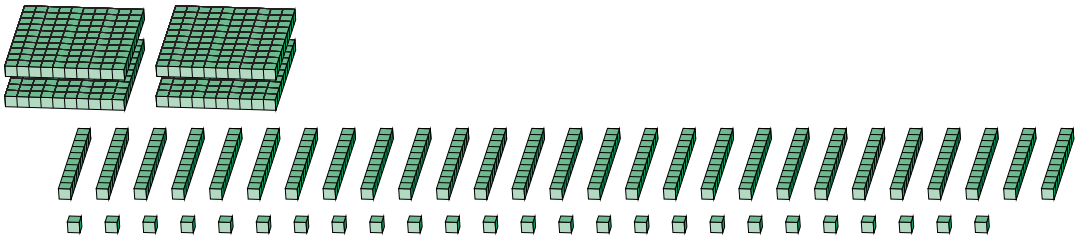

centaines	dizaines	unités	regrouper →			

2.

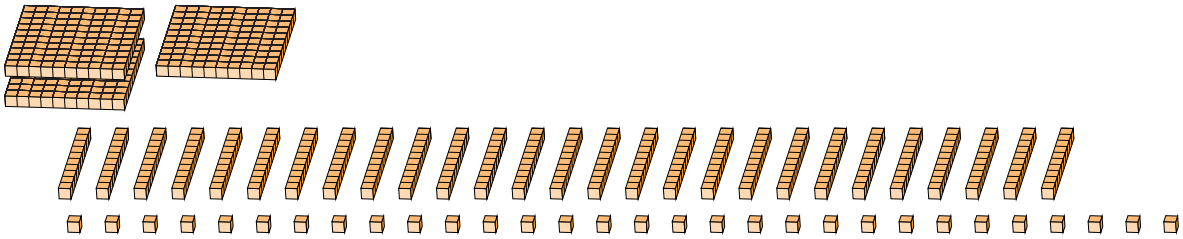

centaines	dizaines	unités	regrouper →			

Regroupement en Blocs de Base Dix (J) Réponses

Nom: _____ Date: _____

Quel est le nombre indiqué dans chaque bloc de base dix?

1.

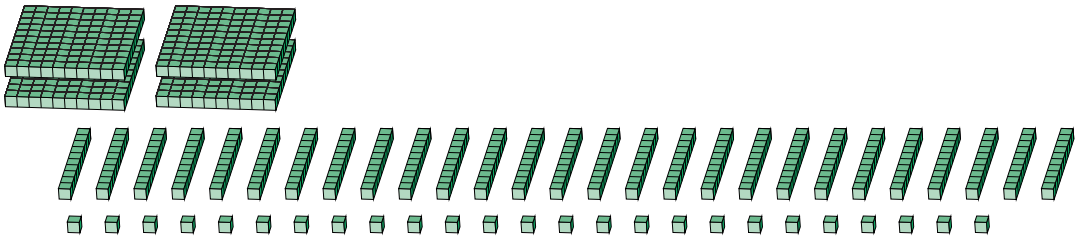

4	27	25	→ regrouper	6	9	5
centaines	dizaines	unités				

2.

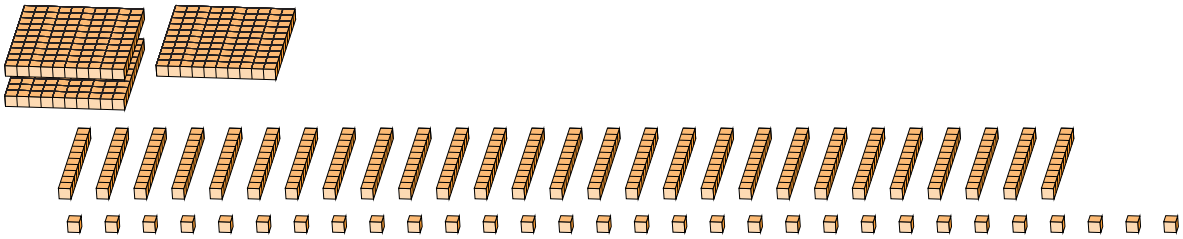

1	27	30	→ regrouper	4	0	0
centaines	dizaines	unités				