Regroupement en Blocs de Base Dix (B)

Nom: _____ Date: _____

Quel est le nombre indiqué dans chaque bloc de base dix?

1.

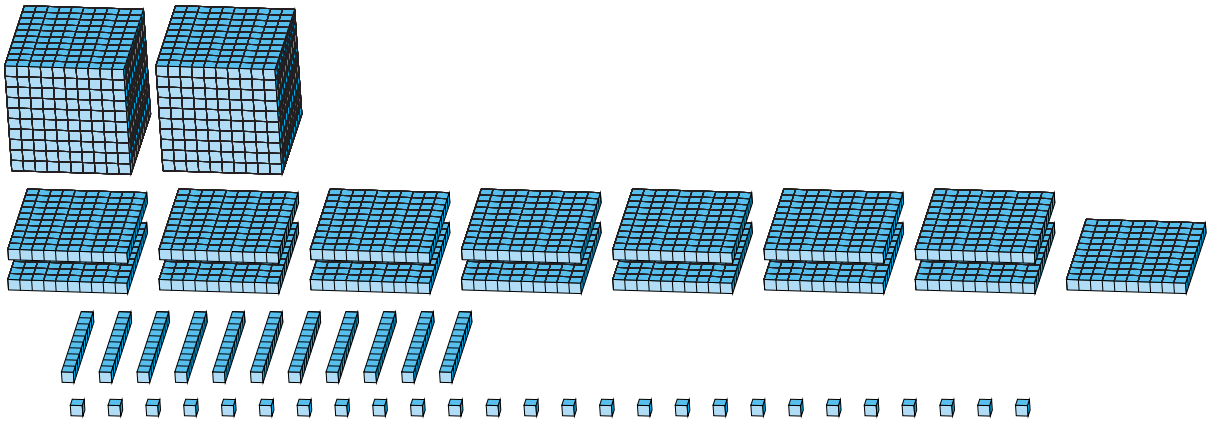

Forme Élargie

Forme Standard

2.

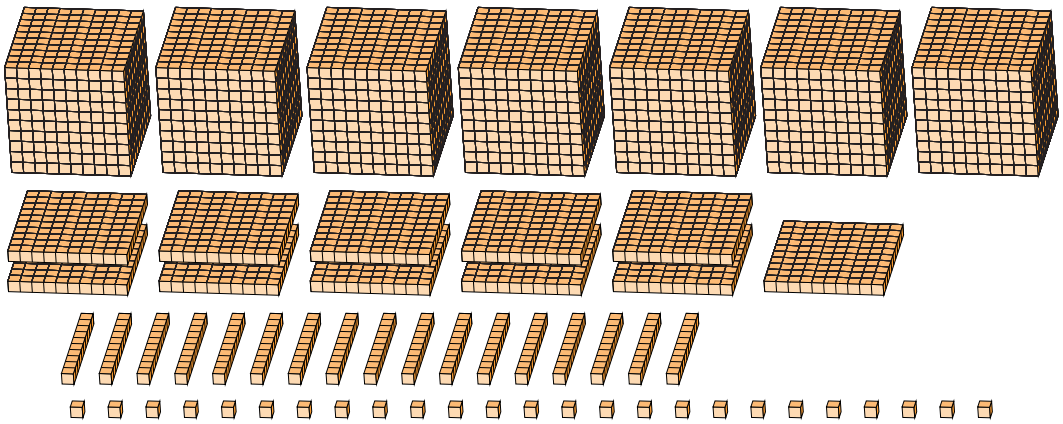

Forme Élargie

Forme Standard

Regroupement en Blocs de Base Dix (B) Réponses

Nom: _____ Date: _____

Quel est le nombre indiqué dans chaque bloc de base dix?

1.

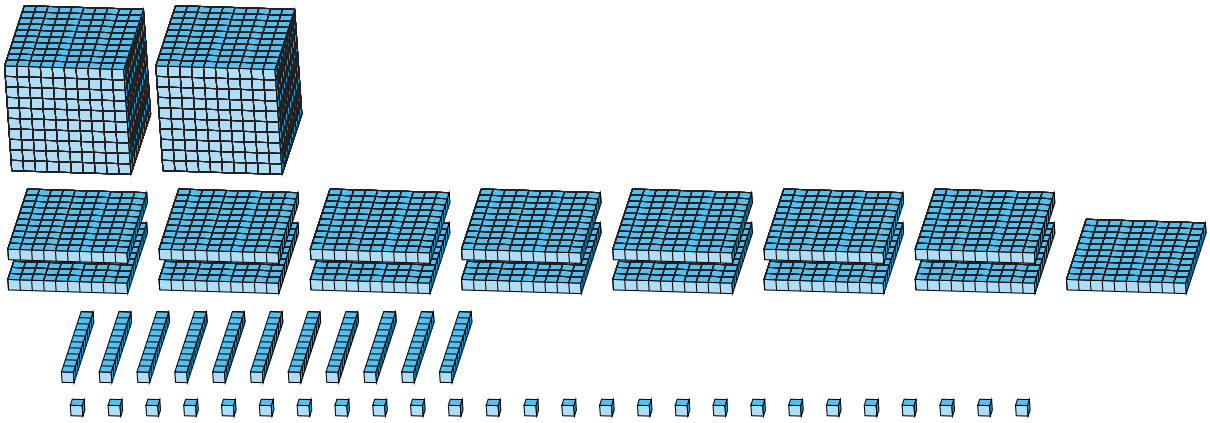

Forme Élargie

$(2 \times 1000) + (15 \times 100) + (11 \times 10) + (26 \times 1)$

$(3 \times 1000) + (6 \times 100) + (3 \times 10) + (6 \times 1)$

$3000 + 600 + 30 + 6$

Forme Standard

3636

2.

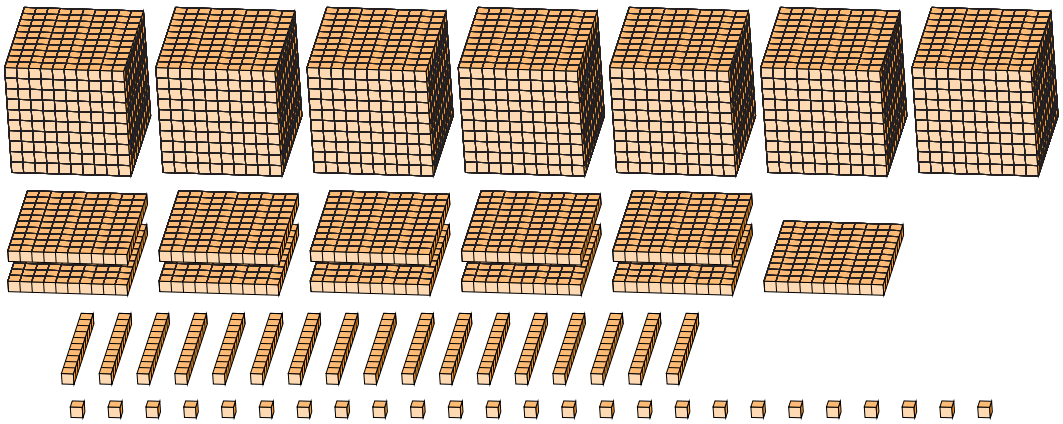

Forme Élargie

$(7 \times 1000) + (11 \times 100) + (17 \times 10) + (25 \times 1)$

$(8 \times 1000) + (2 \times 100) + (9 \times 10) + (5 \times 1)$

$8000 + 200 + 90 + 5$

Forme Standard

8295