Séquence de Nombres Linéaires (A)

Remplissez les nombres qui manquent de chaque nombre linéaire.

1. 989 914 839 389 314

Différence commune: _____

2. 780 790 850

Différence commune: _____

3. 978 578 378 278 178 78

Différence commune: _____

4. 8 83 158 233 458

Différence commune: _____

5. 735 740 745 760

Différence commune: _____

6. 830 755 680 455 305 230 155

Différence commune: _____

7. 131 156 206 256 356

Différence commune: _____

8. 439 489 539 589 789 839 889

Différence commune: _____

Séquence de Nombres Linéaires (A) Réponses

Remplissez les nombres qui manquent de chaque nombre linéaire.

1. 989 914 839 764 689 614 539 464 389 314

Différence commune: -75

2. 780 790 800 810 820 830 840 850 860 870

Différence commune: 10

3. 978 878 778 678 578 478 378 278 178 78

Différence commune: -100

4. 8 83 158 233 308 383 458 533 608 683

Différence commune: 75

5. 715 720 725 730 735 740 745 750 755 760

Différence commune: 5

6. 830 755 680 605 530 455 380 305 230 155

Différence commune: -75

7. 131 156 181 206 231 256 281 306 331 356

Différence commune: 25

8. 439 489 539 589 639 689 739 789 839 889

Différence commune: 50

Séquence de Nombres Linéaires (B)

Remplissez les nombres qui manquent de chaque nombre linéaire.

1. 198 273 348 573 798

Différence commune: _____

2. 913 813 713 613 513 313 213 113

Différence commune: _____

3. 821 521 371 296 221 146

Différence commune: _____

4. 700 625 400 100

Différence commune: _____

5. 998 898 798 398 298 98

Différence commune: _____

6. 404 454 479 554

Différence commune: _____

7. 136 236 336 386 536 586

Différence commune: _____

8. 817 417 117 17

Différence commune: _____

Séquence de Nombres Linéaires (B) Réponses

Remplissez les nombres qui manquent de chaque nombre linéaire.

1. 198 273 348 423 498 573 648 723 798 873

Différence commune: 75

2. 913 813 713 613 513 413 313 213 113 13

Différence commune: -100

3. 821 746 671 596 521 446 371 296 221 146

Différence commune: -75

4. 775 700 625 550 475 400 325 250 175 100

Différence commune: -75

5. 998 898 798 698 598 498 398 298 198 98

Différence commune: -100

6. 354 379 404 429 454 479 504 529 554 579

Différence commune: 25

7. 136 186 236 286 336 386 436 486 536 586

Différence commune: 50

8. 917 817 717 617 517 417 317 217 117 17

Différence commune: -100

Séquence de Nombres Linéaires (C)

Remplissez les nombres qui manquent de chaque nombre linéaire.

1. 993 793 693 493 293 193 93

Différence commune: _____

2. 14 114 164 214 314 364 414

Différence commune: _____

3. 834 814 809 804 799 789

Différence commune: _____

4. 851 751 351 151

Différence commune: _____

5. 974 874 574 174 74

Différence commune: _____

6. 582 532 482 432 382 332 132

Différence commune: _____

7. 216 516 591 741 891

Différence commune: _____

8. 468 478 483 498

Différence commune: _____

Séquence de Nombres Linéaires (C) Réponses

Remplissez les nombres qui manquent de chaque nombre linéaire.

1. 993 893 793 693 593 493 393 293 193 93

Différence commune: -100

2. 14 64 114 164 214 264 314 364 414 464

Différence commune: 50

3. 834 829 824 819 814 809 804 799 794 789

Différence commune: -5

4. 951 851 751 651 551 451 351 251 151 51

Différence commune: -100

5. 974 874 774 674 574 474 374 274 174 74

Différence commune: -100

6. 582 532 482 432 382 332 282 232 182 132

Différence commune: -50

7. 216 291 366 441 516 591 666 741 816 891

Différence commune: 75

8. 463 468 473 478 483 488 493 498 503 508

Différence commune: 5

Séquence de Nombres Linéaires (D)

Remplissez les nombres qui manquent de chaque nombre linéaire.

1. 868 793 718 568 493 343 268

Différence commune: _____

2. 261 281 301 311 321

Différence commune: _____

3. 474 499 524 574 624 674 699

Différence commune: _____

4. 594 694 794

Différence commune: _____

5. 240 340 440 490 540 590 640 690

Différence commune: _____

6. 979 879 679 579 179 79

Différence commune: _____

7. 364 414 464 814

Différence commune: _____

8. 833 808 783 758 733 708 683 658

Différence commune: _____

Séquence de Nombres Linéaires (D) Réponses

Remplissez les nombres qui manquent de chaque nombre linéaire.

1. 943 868 793 718 643 568 493 418 343 268

Différence commune: -75

2. 231 241 251 261 271 281 291 301 311 321

Différence commune: 10

3. 474 499 524 549 574 599 624 649 674 699

Différence commune: 25

4. 444 494 544 594 644 694 744 794 844 894

Différence commune: 50

5. 240 290 340 390 440 490 540 590 640 690

Différence commune: 50

6. 979 879 779 679 579 479 379 279 179 79

Différence commune: -100

7. 364 414 464 514 564 614 664 714 764 814

Différence commune: 50

8. 858 833 808 783 758 733 708 683 658 633

Différence commune: -25

Séquence de Nombres Linéaires (E)

Remplissez les nombres qui manquent de chaque nombre linéaire.

1.



Différence commune: _____

2.

Différence commune: _____

3.

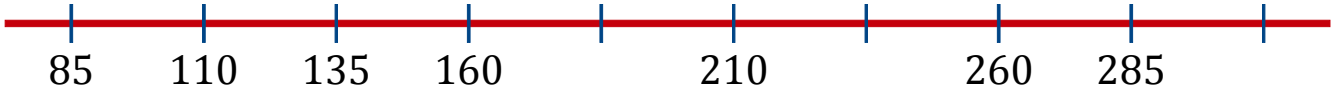

Différence commune: _____

4.



Différence commune: _____

5.

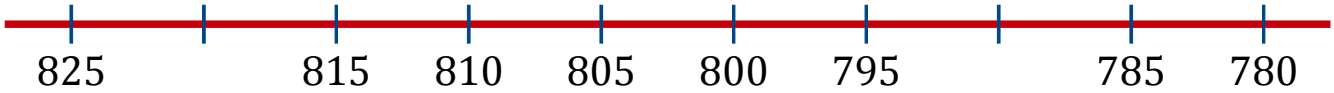

Différence commune: _____

6.

Différence commune: _____

7.

Différence commune: _____

8.

Différence commune: _____

Séquence de Nombres Linéaires (E) Réponses

Remplissez les nombres qui manquent de chaque nombre linéaire.

1. 772 777 782 787 792 797 802 807 812 817

Différence commune: 5

2. 381 431 481 531 581 631 681 731 781 831

Différence commune: 50

3. 85 110 135 160 185 210 235 260 285 310

Différence commune: 25

4. 938 863 788 713 638 563 488 413 338 263

Différence commune: -75

5. 825 820 815 810 805 800 795 790 785 780

Différence commune: -5

6. 664 689 714 739 764 789 814 839 864 889

Différence commune: 25

7. 40 140 240 340 440 540 640 740 840 940

Différence commune: 100

8. 666 676 686 696 706 716 726 736 746 756

Différence commune: 10

Séquence de Nombres Linéaires (F)

Remplissez les nombres qui manquent de chaque nombre linéaire.

1.



Différence commune: _____

2.

Différence commune: _____

3.

Différence commune: _____

4.



Différence commune: _____

5.

Différence commune: _____

6.

Différence commune: _____

7.

Différence commune: _____

8.

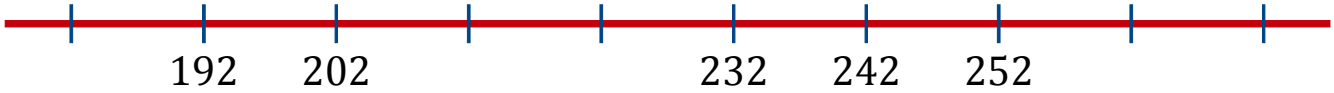

Différence commune: _____

Séquence de Nombres Linéaires (F) Réponses

Remplissez les nombres qui manquent de chaque nombre linéaire.

1. 963 863 763 663 563 463 363 263 163 63

Différence commune: -100

2. 84 109 134 159 184 209 234 259 284 309

Différence commune: 25

3. 461 451 441 431 421 411 401 391 381 371

Différence commune: -10

4. 930 830 730 630 530 430 330 230 130 30

Différence commune: -100

5. 882 892 902 912 922 932 942 952 962 972

Différence commune: 10

6. 155 150 145 140 135 130 125 120 115 110

Différence commune: -5

7. 948 848 748 648 548 448 348 248 148 48

Différence commune: -100

8. 182 192 202 212 222 232 242 252 262 272

Différence commune: 10

Séquence de Nombres Linéaires (G)

Remplissez les nombres qui manquent de chaque nombre linéaire.

1.

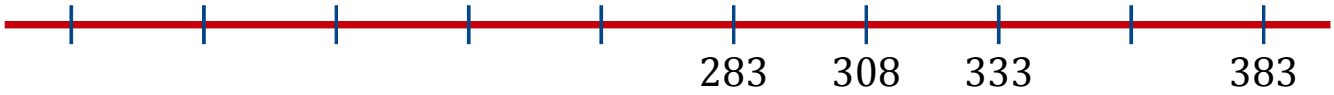

Différence commune: _____

2.

Différence commune: _____

3.

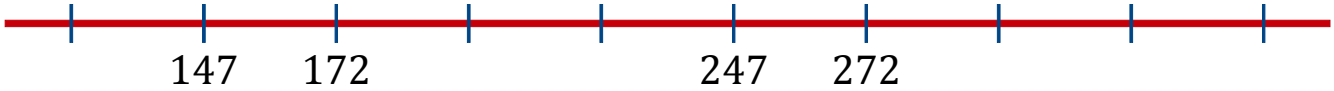

Différence commune: _____

4.

Différence commune: _____

5.

Différence commune: _____

6.



Différence commune: _____

7.

Différence commune: _____

8.

Différence commune: _____

Séquence de Nombres Linéaires (G) Réponses

Remplissez les nombres qui manquent de chaque nombre linéaire.

1. 158 183 208 233 258 283 308 333 358 383

Différence commune: 25

2. 178 168 158 148 138 128 118 108 98 88

Différence commune: -10

3. 122 147 172 197 222 247 272 297 322 347

Différence commune: 25

4. 526 516 506 496 486 476 466 456 446 436

Différence commune: -10

5. 925 850 775 700 625 550 475 400 325 250

Différence commune: -75

6. 395 445 495 545 595 645 695 745 795 845

Différence commune: 50

7. 954 854 754 654 554 454 354 254 154 54

Différence commune: -100

8. 118 108 98 88 78 68 58 48 38 28

Différence commune: -10

Séquence de Nombres Linéaires (H)

Remplissez les nombres qui manquent de chaque nombre linéaire.

1. 447 397 347

Différence commune: _____

2. 790 415 340 265 190 115

Différence commune: _____

3. 199 209 219 239 249 269 289

Différence commune: _____

4. 471 521 546 596

Différence commune: _____

5. 335 340 350 355 365

Différence commune: _____

6. 377 387 407 437

Différence commune: _____

7. 476 426 326 276 226 176 76

Différence commune: _____

8. 414 464 514 614 664 764 814 864

Différence commune: _____

Séquence de Nombres Linéaires (H) Réponses

Remplissez les nombres qui manquent de chaque nombre linéaire.

1. 497 447 397 347 297 247 197 147 97 47

Différence commune: -50

2. 790 715 640 565 490 415 340 265 190 115

Différence commune: -75

3. 199 209 219 229 239 249 259 269 279 289

Différence commune: 10

4. 396 421 446 471 496 521 546 571 596 621

Différence commune: 25

5. 330 335 340 345 350 355 360 365 370 375

Différence commune: 5

6. 347 357 367 377 387 397 407 417 427 437

Différence commune: 10

7. 476 426 376 326 276 226 176 126 76 26

Différence commune: -50

8. 414 464 514 564 614 664 714 764 814 864

Différence commune: 50

Séquence de Nombres Linéaires (I)

Remplissez les nombres qui manquent de chaque nombre linéaire.

1.

Différence commune: _____

2.

Différence commune: _____

3.

Différence commune: _____

4.

Différence commune: _____

5.

Différence commune: _____

6.

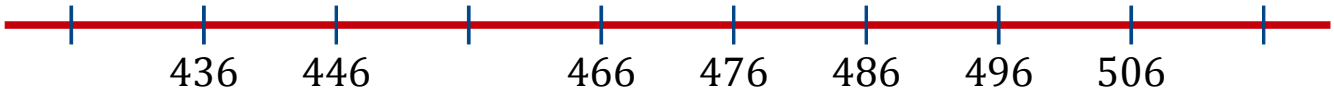

Différence commune: _____

7.

Différence commune: _____

8.

Différence commune: _____

Séquence de Nombres Linéaires (I) Réponses

Remplissez les nombres qui manquent de chaque nombre linéaire.

1. 313 363 413 463 513 563 613 663 713 763

Différence commune: 50

2. 685 695 705 715 725 735 745 755 765 775

Différence commune: 10

3. 661 636 611 586 561 536 511 486 461 436

Différence commune: -25

4. 57 132 207 282 357 432 507 582 657 732

Différence commune: 75

5. 917 817 717 617 517 417 317 217 117 17

Différence commune: -100

6. 426 436 446 456 466 476 486 496 506 516

Différence commune: 10

7. 537 487 437 387 337 287 237 187 137 87

Différence commune: -50

8. 687 612 537 462 387 312 237 162 87 12

Différence commune: -75

Séquence de Nombres Linéaires (J)

Remplissez les nombres qui manquent de chaque nombre linéaire.

1. 293 343 443 543

Différence commune: _____

2. 634 599 589

Différence commune: _____

3. 13 113 413 513 813

Différence commune: _____

4. 109 184 259 409 484 634 784

Différence commune: _____

5. 712 637 562 487 412 112 37

Différence commune: _____

6. 621 546 471 171

Différence commune: _____

7. 687 697 702 717 722 727

Différence commune: _____

8. 76 176 276 776

Différence commune: _____

Séquence de Nombres Linéaires (J) Réponses

Remplissez les nombres qui manquent de chaque nombre linéaire.

1. 93 143 193 243 293 343 393 443 493 543

Différence commune: 50

2. 634 629 624 619 614 609 604 599 594 589

Différence commune: -5

3. 13 113 213 313 413 513 613 713 813 913

Différence commune: 100

4. 109 184 259 334 409 484 559 634 709 784

Différence commune: 75

5. 712 637 562 487 412 337 262 187 112 37

Différence commune: -75

6. 771 696 621 546 471 396 321 246 171 96

Différence commune: -75

7. 687 692 697 702 707 712 717 722 727 732

Différence commune: 5

8. 76 176 276 376 476 576 676 776 876 976

Différence commune: 100