Séquence de Nombres Linéaires (F)

Remplissez les nombres qui manquent de chaque nombre linéaire.

1.



Différence commune: _____

2.

Différence commune: _____

3.

Différence commune: _____

4.



Différence commune: _____

5.

Différence commune: _____

6.

Différence commune: _____

7.

Différence commune: _____

8.

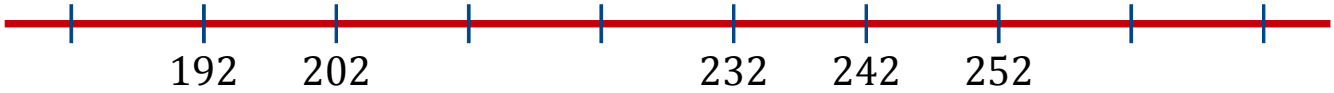

Différence commune: _____