Séquence de Nombres Linéaires (A)

Remplissez les nombres qui manquent de chaque nombre linéaire.

1. 125 120 105 100 90 85

Différence commune: _____

2. 865 715 640 565 415 340

Différence commune: _____

3. 451 426 351 326 276

Différence commune: _____

4. 564 539 514 489 439 389 364

Différence commune: _____

5. 305 255 230 205 155 130

Différence commune: _____

6. 632 582 532 482 432 282 232

Différence commune: _____

7. 843 743 543 443 343 243 143 43

Différence commune: _____

8. 902 802 702 602 502 202 102 2

Différence commune: _____

Séquence de Nombres Linéaires (A) Réponses

Remplissez les nombres qui manquent de chaque nombre linéaire.

1. 130 125 120 115 110 105 100 95 90 85

Différence commune: -5

2. 865 790 715 640 565 490 415 340 265 190

Différence commune: -75

3. 476 451 426 401 376 351 326 301 276 251

Différence commune: -25

4. 564 539 514 489 464 439 414 389 364 339

Différence commune: -25

5. 330 305 280 255 230 205 180 155 130 105

Différence commune: -25

6. 682 632 582 532 482 432 382 332 282 232

Différence commune: -50

7. 943 843 743 643 543 443 343 243 143 43

Différence commune: -100

8. 902 802 702 602 502 402 302 202 102 2

Différence commune: -100

Séquence de Nombres Linéaires (B)

Remplissez les nombres qui manquent de chaque nombre linéaire.

1. 528 453 378 228 78

Différence commune: _____

2. 883 833 783 733 633 583 533

Différence commune: _____

3. 993 943 893 843 793 643 593

Différence commune: _____

4. 734 684 659 634 609 534 509

Différence commune: _____

5. 472 397 372 347 322 297 272

Différence commune: _____

6. 592 552 542 532

Différence commune: _____

7. 893 843 693 543

Différence commune: _____

8. 380 355 330 280 255 230 180 155

Différence commune: _____

Séquence de Nombres Linéaires (B) Réponses

Remplissez les nombres qui manquent de chaque nombre linéaire.

1. 753 678 603 528 453 378 303 228 153 78

Différence commune: -75

2. 883 833 783 733 683 633 583 533 483 433

Différence commune: -50

3. 993 943 893 843 793 743 693 643 593 543

Différence commune: -50

4. 734 709 684 659 634 609 584 559 534 509

Différence commune: -25

5. 472 447 422 397 372 347 322 297 272 247

Différence commune: -25

6. 602 592 582 572 562 552 542 532 522 512

Différence commune: -10

7. 893 843 793 743 693 643 593 543 493 443

Différence commune: -50

8. 380 355 330 305 280 255 230 205 180 155

Différence commune: -25

Séquence de Nombres Linéaires (C)

Remplissez les nombres qui manquent de chaque nombre linéaire.

1. 374 324 274 224 124 74 24

Différence commune: _____

2. 965 865 765 565 465 365

Différence commune: _____

3. 515 485 455

Différence commune: _____

4. 981 881 781 581 481 381

Différence commune: _____

5. 944 569 494 419 344 269

Différence commune: _____

6. 838 738 438

Différence commune: _____

7. 526 476 426 326 176

Différence commune: _____

8. 890 815 590 515

Différence commune: _____

Séquence de Nombres Linéaires (C) Réponses

Remplissez les nombres qui manquent de chaque nombre linéaire.

1. 474 424 374 324 274 224 174 124 74 24

Différence commune: -50

2. 965 865 765 665 565 465 365 265 165 65

Différence commune: -100

3. 515 505 495 485 475 465 455 445 435 425

Différence commune: -10

4. 981 881 781 681 581 481 381 281 181 81

Différence commune: -100

5. 944 869 794 719 644 569 494 419 344 269

Différence commune: -75

6. 938 838 738 638 538 438 338 238 138 38

Différence commune: -100

7. 526 476 426 376 326 276 226 176 126 76

Différence commune: -50

8. 890 815 740 665 590 515 440 365 290 215

Différence commune: -75

Séquence de Nombres Linéaires (D)

Remplissez les nombres qui manquent de chaque nombre linéaire.

1. 520 505 480 475

Différence commune: _____

2. 710 685 610 585 560

Différence commune: _____

3. 361 286 261 236 211

Différence commune: _____

4. 840 640 540 340 40

Différence commune: _____

5. 569 419 269 219

Différence commune: _____

6. 967 767 567 367 267

Différence commune: _____

7. 800 775 725 700 575

Différence commune: _____

8. 382 352 342 312

Différence commune: _____

Séquence de Nombres Linéaires (D) Réponses

Remplissez les nombres qui manquent de chaque nombre linéaire.

1. 520 515 510 505 500 495 490 485 480 475

Différence commune: -5

2. 710 685 660 635 610 585 560 535 510 485

Différence commune: -25

3. 411 386 361 336 311 286 261 236 211 186

Différence commune: -25

4. 940 840 740 640 540 440 340 240 140 40

Différence commune: -100

5. 669 619 569 519 469 419 369 319 269 219

Différence commune: -50

6. 967 867 767 667 567 467 367 267 167 67

Différence commune: -100

7. 800 775 750 725 700 675 650 625 600 575

Différence commune: -25

8. 382 372 362 352 342 332 322 312 302 292

Différence commune: -10

Séquence de Nombres Linéaires (E)

Remplissez les nombres qui manquent de chaque nombre linéaire.

1. 891 841 791 741 641 491 441

Différence commune: _____

2. 722 647 572 422 272 197 122

Différence commune: _____

3. 534 514 454

Différence commune: _____

4. 636 261 186 111

Différence commune: _____

5. 653 503 403 253

Différence commune: _____

6. 757 532 457 157

Différence commune: _____

7. 490 475 465 455 445

Différence commune: _____

8. 880 580 505 355

Différence commune: _____

Séquence de Nombres Linéaires (E) Réponses

Remplissez les nombres qui manquent de chaque nombre linéaire.

1. 891 841 791 741 691 641 591 541 491 441

Différence commune: -50

2. 722 647 572 497 422 347 272 197 122 47

Différence commune: -75

3. 544 534 524 514 504 494 484 474 464 454

Différence commune: -10

4. 786 711 636 561 486 411 336 261 186 111

Différence commune: -75

5. 653 603 553 503 453 403 353 303 253 203

Différence commune: -50

6. 757 682 607 532 457 382 307 232 157 82

Différence commune: -75

7. 490 485 480 475 470 465 460 455 450 445

Différence commune: -5

8. 880 805 730 655 580 505 430 355 280 205

Différence commune: -75

Séquence de Nombres Linéaires (F)

Remplissez les nombres qui manquent de chaque nombre linéaire.

1.

Différence commune: _____

2.

Différence commune: _____

3.

Différence commune: _____

4.

Différence commune: _____

5.

Différence commune: _____

6.

Différence commune: _____

7.

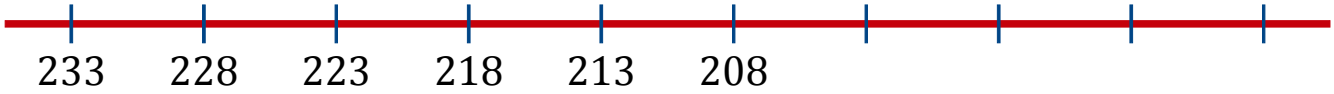

Différence commune: _____

8.

Différence commune: _____

Séquence de Nombres Linéaires (F) Réponses

Remplissez les nombres qui manquent de chaque nombre linéaire.

1. 759 684 609 534 459 384 309 234 159 84

Différence commune: -75

2. 201 196 191 186 181 176 171 166 161 156

Différence commune: -5

3. 961 936 911 886 861 836 811 786 761 736

Différence commune: -25

4. 917 817 717 617 517 417 317 217 117 17

Différence commune: -100

5. 797 722 647 572 497 422 347 272 197 122

Différence commune: -75

6. 952 852 752 652 552 452 352 252 152 52

Différence commune: -100

7. 233 228 223 218 213 208 203 198 193 188

Différence commune: -5

8. 603 553 503 453 403 353 303 253 203 153

Différence commune: -50

Séquence de Nombres Linéaires (G)

Remplissez les nombres qui manquent de chaque nombre linéaire.

1.

Différence commune: _____

2.

Différence commune: _____

3.

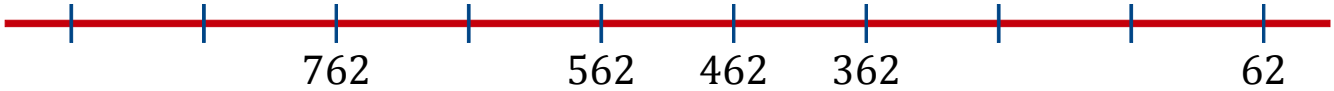

Différence commune: _____

4.

Différence commune: _____

5.

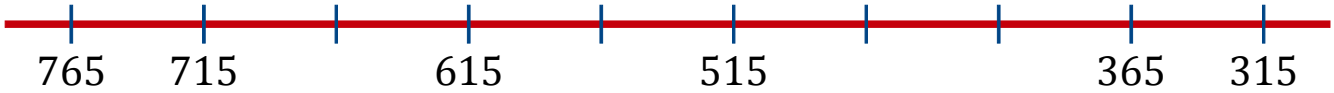

Différence commune: _____

6.

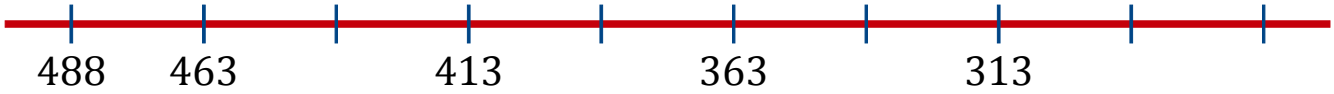

Différence commune: _____

7.

Différence commune: _____

8.

Différence commune: _____

Séquence de Nombres Linéaires (G) Réponses

Remplissez les nombres qui manquent de chaque nombre linéaire.

1. 800 725 650 575 500 425 350 275 200 125
Différence commune: -75

2. 891 886 881 876 871 866 861 856 851 846
Différence commune: -5

3. 962 862 762 662 562 462 362 262 162 62
Différence commune: -100

4. 905 900 895 890 885 880 875 870 865 860
Différence commune: -5

5. 765 715 665 615 565 515 465 415 365 315
Différence commune: -50

6. 488 463 438 413 388 363 338 313 288 263
Différence commune: -25

7. 985 885 785 685 585 485 385 285 185 85
Différence commune: -100

8. 737 687 637 587 537 487 437 387 337 287
Différence commune: -50

Séquence de Nombres Linéaires (H)

Remplissez les nombres qui manquent de chaque nombre linéaire.

1. 855 780 705 630 405 330 255

Différence commune: _____

2. 375 325 275

Différence commune: _____

3. 977 677 577 477 377

Différence commune: _____

4. 687 462 387

Différence commune: _____

5. 613

Différence commune: _____

6. 899 799 99

Différence commune: _____

7. 429 419 399 379 369 359 349

Différence commune: _____

8. 872 472 372 272 72

Différence commune: _____

Séquence de Nombres Linéaires (H) Réponses

Remplissez les nombres qui manquent de chaque nombre linéaire.

1. 930 855 780 705 630 555 480 405 330 255

Différence commune: -75

2. 375 350 325 300 275 250 225 200 175 150

Différence commune: -25

3. 977 877 777 677 577 477 377 277 177 77

Différence commune: -100

4. 687 612 537 462 387 312 237 162 87 12

Différence commune: -75

5. 863 813 763 713 663 613 563 513 463 413

Différence commune: -50

6. 999 899 799 699 599 499 399 299 199 99

Différence commune: -100

7. 429 419 409 399 389 379 369 359 349 339

Différence commune: -10

8. 972 872 772 672 572 472 372 272 172 72

Différence commune: -100

Séquence de Nombres Linéaires (I)

Remplissez les nombres qui manquent de chaque nombre linéaire.

1. 774 674 474 274 174 74

Différence commune: _____

2. 829 779 754 729 704

Différence commune: _____

3. 334 329 319 314 304 299 289

Différence commune: _____

4. 650 640 630 600 590 580

Différence commune: _____

5. 862 762 662

Différence commune: _____

6. 639 589 489 439 339 189

Différence commune: _____

7. 892 742 592 517 442

Différence commune: _____

8. 962 892

Différence commune: _____

Séquence de Nombres Linéaires (I) Réponses

Remplissez les nombres qui manquent de chaque nombre linéaire.

1. 974 874 774 674 574 474 374 274 174 74

Différence commune: -100

2. 829 804 779 754 729 704 679 654 629 604

Différence commune: -25

3. 334 329 324 319 314 309 304 299 294 289

Différence commune: -5

4. 650 640 630 620 610 600 590 580 570 560

Différence commune: -10

5. 862 837 812 787 762 737 712 687 662 637

Différence commune: -25

6. 639 589 539 489 439 389 339 289 239 189

Différence commune: -50

7. 967 892 817 742 667 592 517 442 367 292

Différence commune: -75

8. 962 952 942 932 922 912 902 892 882 872

Différence commune: -10

Séquence de Nombres Linéaires (J)

Remplissez les nombres qui manquent de chaque nombre linéaire.

1.

449 444 439 424 414 409

Différence commune: _____

2.

749 739 729 719 709 699

Différence commune: _____

3.

377 367 357 317 297

Différence commune: _____

4.

559 459 309

Différence commune: _____

5.

910 810 710 610 510 310 210 110

Différence commune: _____

6.

109 99 94 89 84 79 69

Différence commune: _____

7.

876 776 676 476

Différence commune: _____

8.

873 863 853 848 838 833

Différence commune: _____

Séquence de Nombres Linéaires (J) Réponses

Remplissez les nombres qui manquent de chaque nombre linéaire.

1. 449 444 439 434 429 424 419 414 409 404

Différence commune: -5

2. 789 779 769 759 749 739 729 719 709 699

Différence commune: -10

3. 377 367 357 347 337 327 317 307 297 287

Différence commune: -10

4. 559 509 459 409 359 309 259 209 159 109

Différence commune: -50

5. 910 810 710 610 510 410 310 210 110 10

Différence commune: -100

6. 109 104 99 94 89 84 79 74 69 64

Différence commune: -5

7. 976 876 776 676 576 476 376 276 176 76

Différence commune: -100

8. 873 868 863 858 853 848 843 838 833 828

Différence commune: -5