Droites Numériques (C)

Complétez cette droite numérique par les nombres manquants.

1.

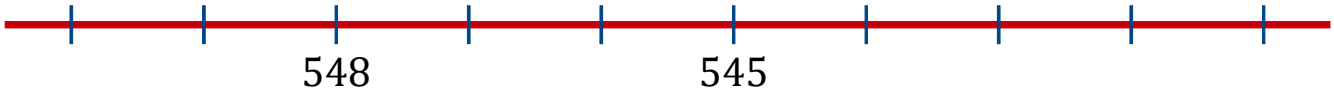

Différence commune: _____

2.

Différence commune: _____

3.

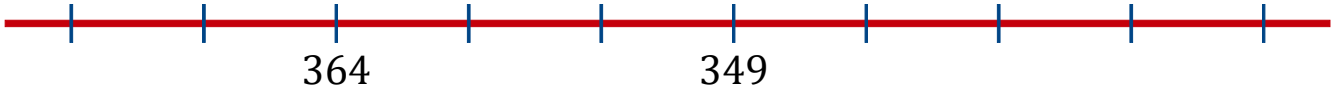

Différence commune: _____

4.

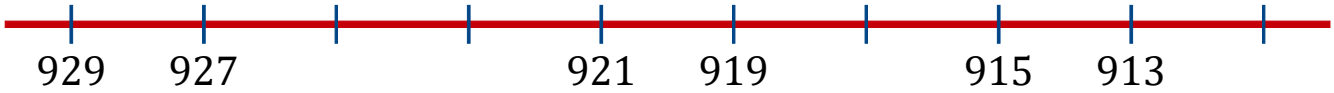

Différence commune: _____

5.

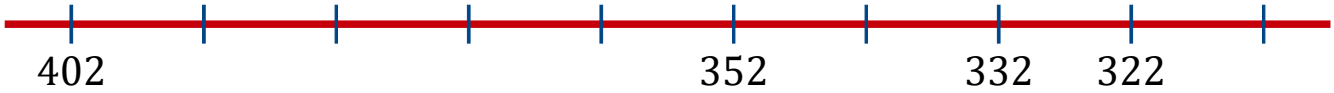

Différence commune: _____

6.



Différence commune: _____

7.

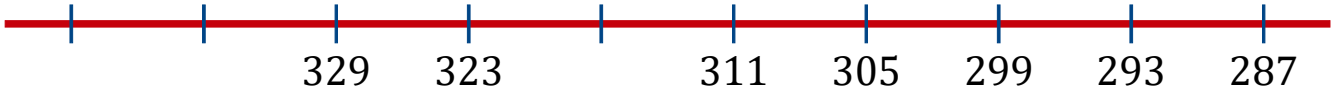

Différence commune: _____

8.

Différence commune: _____

Droites Numériques (C) Réponses

Complétez cette droite numérique par les nombres manquants.

1. 550 549 548 547 546 545 544 543 542 541

Différence commune: -1

2. 153 150 147 144 141 138 135 132 129 126

Différence commune: -3

3. 374 369 364 359 354 349 344 339 334 329

Différence commune: -5

4. 929 927 925 923 921 919 917 915 913 911

Différence commune: -2

5. 402 392 382 372 362 352 342 332 322 312

Différence commune: -10

6. 678 673 668 663 658 653 648 643 638 633

Différence commune: -5

7. 341 335 329 323 317 311 305 299 293 287

Différence commune: -6

8. 980 971 962 953 944 935 926 917 908 899

Différence commune: -9