Séquence de Nombres Linéaires (A)

Remplissez les nombres qui manquent de chaque nombre linéaire.

1.

Différence commune: _____

2.

Différence commune: _____

3.

Différence commune: _____

4.

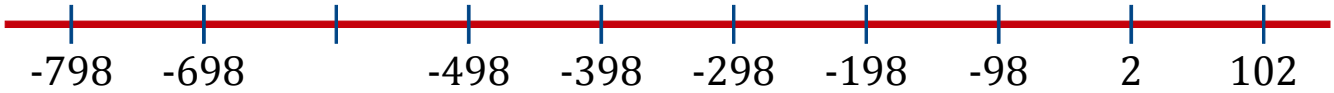

Différence commune: _____

5.

Différence commune: _____

6.

Différence commune: _____

7.

Différence commune: _____

8.

Différence commune: _____

Séquence de Nombres Linéaires (A) Réponses

Remplissez les nombres qui manquent de chaque nombre linéaire.

1. -361 -286 -211 -136 -61 14 89 164 239 314

Différence commune: 75

2. -88 -63 -38 -13 12 37 62 87 112 137

Différence commune: 25

3. 6 16 26 36 46 56 66 76 86 96

Différence commune: 10

4. -798 -698 -598 -498 -398 -298 -198 -98 2 102

Différence commune: 100

5. -76 -26 24 74 124 174 224 274 324 374

Différence commune: 50

6. -13 87 187 287 387 487 587 687 787 887

Différence commune: 100

7. -108 -83 -58 -33 -8 17 42 67 92 117

Différence commune: 25

8. -615 -515 -415 -315 -215 -115 -15 85 185 285

Différence commune: 100

Séquence de Nombres Linéaires (B)

Remplissez les nombres qui manquent de chaque nombre linéaire.

1.

Différence commune: _____

2.

Différence commune: _____

3.

Différence commune: _____

4.

Différence commune: _____

5. 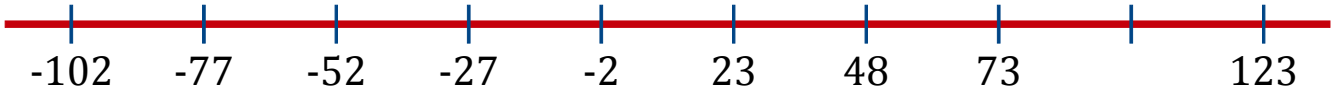

Différence commune: _____

6.

Différence commune: _____

7.

Différence commune: _____

8.

Différence commune: _____

Séquence de Nombres Linéaires (B) Réponses

Remplissez les nombres qui manquent de chaque nombre linéaire.

1. 9 19 29 39 49 59 69 79 89 99

Différence commune: 10

2. 3 13 23 33 43 53 63 73 83 93

Différence commune: 10

3. -35 -10 15 40 65 90 115 140 165 190

Différence commune: 25

4. -250 -200 -150 -100 -50 0 50 100 150 200

Différence commune: 50

5. -102 -77 -52 -27 -2 23 48 73 98 123

Différence commune: 25

6. -510 -435 -360 -285 -210 -135 -60 15 90 165

Différence commune: 75

7. -116 -91 -66 -41 -16 9 34 59 84 109

Différence commune: 25

8. -204 -154 -104 -54 -4 46 96 146 196 246

Différence commune: 50

Séquence de Nombres Linéaires (C)

Remplissez les nombres qui manquent de chaque nombre linéaire.

1.

Différence commune: _____

2.

Différence commune: _____

3.

Différence commune: _____

4.

Différence commune: _____

5.

Différence commune: _____

6.

Différence commune: _____

7.

Différence commune: _____

8.

Différence commune: _____

Séquence de Nombres Linéaires (C) Réponses

Remplissez les nombres qui manquent de chaque nombre linéaire.

1. -269 -169 -69 31 131 231 331 431 531 631

Différence commune: 100

2. 25 30 35 40 45 50 55 60 65 70

Différence commune: 5

3. 4 14 24 34 44 54 64 74 84 94

Différence commune: 10

4. 37 42 47 52 57 62 67 72 77 82

Différence commune: 5

5. -169 -119 -69 -19 31 81 131 181 231 281

Différence commune: 50

6. 6 11 16 21 26 31 36 41 46 51

Différence commune: 5

7. 5 15 25 35 45 55 65 75 85 95

Différence commune: 10

8. -341 -266 -191 -116 -41 34 109 184 259 334

Différence commune: 75

Séquence de Nombres Linéaires (D)

Remplissez les nombres qui manquent de chaque nombre linéaire.

1.

Différence commune: _____

2.

Différence commune: _____

3.

Différence commune: _____

4.

Différence commune: _____

5.

Différence commune: _____

6.

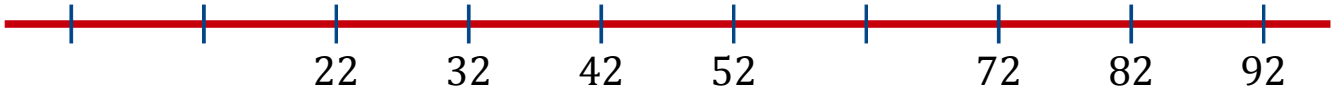

Différence commune: _____

7.

Différence commune: _____

8.

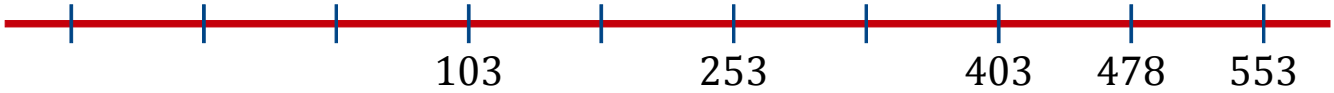

Différence commune: _____

Séquence de Nombres Linéaires (D) Réponses

Remplissez les nombres qui manquent de chaque nombre linéaire.

1. -5 20 45 70 95 120 145 170 195 220

Différence commune: 25

2. 5 15 25 35 45 55 65 75 85 95

Différence commune: 10

3. 1 6 11 16 21 26 31 36 41 46

Différence commune: 5

4. -308 -233 -158 -83 -8 67 142 217 292 367

Différence commune: 75

5. -329 -229 -129 -29 71 171 271 371 471 571

Différence commune: 100

6. 2 12 22 32 42 52 62 72 82 92

Différence commune: 10

7. 27 32 37 42 47 52 57 62 67 72

Différence commune: 5

8. -122 -47 28 103 178 253 328 403 478 553

Différence commune: 75

Séquence de Nombres Linéaires (E)

Remplissez les nombres qui manquent de chaque nombre linéaire.

1.

Différence commune: _____

2.

Différence commune: _____

3.

Différence commune: _____

4.

Différence commune: _____

5.

Différence commune: _____

6.

Différence commune: _____

7.

Différence commune: _____

8.

Différence commune: _____

Séquence de Nombres Linéaires (E) Réponses

Remplissez les nombres qui manquent de chaque nombre linéaire.

1. -104 -79 -54 -29 -4 21 46 71 96 121

Différence commune: 25

2. -56 -6 44 94 144 194 244 294 344 394

Différence commune: 50

3. 18 23 28 33 38 43 48 53 58 63

Différence commune: 5

4. 54 59 64 69 74 79 84 89 94 99

Différence commune: 5

5. -282 -207 -132 -57 18 93 168 243 318 393

Différence commune: 75

6. -119 -94 -69 -44 -19 6 31 56 81 106

Différence commune: 25

7. -11 39 89 139 189 239 289 339 389 439

Différence commune: 50

8. -451 -376 -301 -226 -151 -76 -1 74 149 224

Différence commune: 75

Séquence de Nombres Linéaires (F)

Remplissez les nombres qui manquent de chaque nombre linéaire.

1.

Différence commune: _____

2.

Différence commune: _____

3.

Différence commune: _____

4.

Différence commune: _____

5.

Différence commune: _____

6.

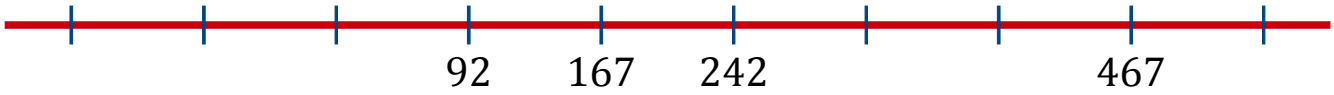

Différence commune: _____

7.

Différence commune: _____

8.

Différence commune: _____

Séquence de Nombres Linéaires (F) Réponses

Remplissez les nombres qui manquent de chaque nombre linéaire.

1. 26 31 36 41 46 51 56 61 66 71

Différence commune: 5

2. 5 15 25 35 45 55 65 75 85 95

Différence commune: 10

3. -545 -470 -395 -320 -245 -170 -95 -20 55 130

Différence commune: 75

4. 39 44 49 54 59 64 69 74 79 84

Différence commune: 5

5. 3 13 23 33 43 53 63 73 83 93

Différence commune: 10

6. -133 -58 17 92 167 242 317 392 467 542

Différence commune: 75

7. -335 -235 -135 -35 65 165 265 365 465 565

Différence commune: 100

8. -97 -47 3 53 103 153 203 253 303 353

Différence commune: 50

Séquence de Nombres Linéaires (G)

Remplissez les nombres qui manquent de chaque nombre linéaire.

1. 50 60 65 75 80 85 90

Différence commune: _____

2. -93 -68 -18 7 82

Différence commune: _____

3. 2 42 72 82 92

Différence commune: _____

4. -255 -105 45 120 345 420

Différence commune: _____

5. -12 38 63 113 188 213

Différence commune: _____

6. 10 30 40 50 90 100

Différence commune: _____

7. 0 100 400 700 800 900

Différence commune: _____

8. 6 26 36 46 56 66

Différence commune: _____

Séquence de Nombres Linéaires (G) Réponses

Remplissez les nombres qui manquent de chaque nombre linéaire.

1. 50 55 60 65 70 75 80 85 90 95

Différence commune: 5

2. -93 -68 -43 -18 7 32 57 82 107 132

Différence commune: 25

3. 2 12 22 32 42 52 62 72 82 92

Différence commune: 10

4. -255 -180 -105 -30 45 120 195 270 345 420

Différence commune: 75

5. -12 13 38 63 88 113 138 163 188 213

Différence commune: 25

6. 10 20 30 40 50 60 70 80 90 100

Différence commune: 10

7. 0 100 200 300 400 500 600 700 800 900

Différence commune: 100

8. 6 16 26 36 46 56 66 76 86 96

Différence commune: 10

Séquence de Nombres Linéaires (H)

Remplissez les nombres qui manquent de chaque nombre linéaire.

1.

Différence commune: _____

2.

Différence commune: _____

3.

Différence commune: _____

4.

Différence commune: _____

5.

Différence commune: _____

6.

Différence commune: _____

7.

Différence commune: _____

8.

Différence commune: _____

Séquence de Nombres Linéaires (H) Réponses

Remplissez les nombres qui manquent de chaque nombre linéaire.

1. 9 19 29 39 49 59 69 79 89 99

Différence commune: 10

2. -81 19 119 219 319 419 519 619 719 819

Différence commune: 100

3. 28 33 38 43 48 53 58 63 68 73

Différence commune: 5

4. 3 8 13 18 23 28 33 38 43 48

Différence commune: 5

5. 2 12 22 32 42 52 62 72 82 92

Différence commune: 10

6. -680 -580 -480 -380 -280 -180 -80 20 120 220

Différence commune: 100

7. -1 74 149 224 299 374 449 524 599 674

Différence commune: 75

8. -52 48 148 248 348 448 548 648 748 848

Différence commune: 100

Séquence de Nombres Linéaires (I)

Remplissez les nombres qui manquent de chaque nombre linéaire.

1.

Différence commune: _____

2.

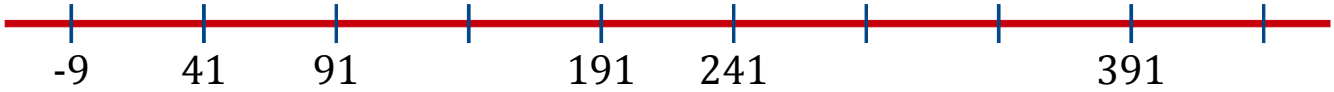

Différence commune: _____

3.

Différence commune: _____

4.

Différence commune: _____

5.

Différence commune: _____

6.

Différence commune: _____

7.

Différence commune: _____

8.

Différence commune: _____

Séquence de Nombres Linéaires (I) Réponses

Remplissez les nombres qui manquent de chaque nombre linéaire.

1. -59 -9 41 91 141 191 241 291 341 391

Différence commune: 50

2. -9 41 91 141 191 241 291 341 391 441

Différence commune: 50

3. 6 16 26 36 46 56 66 76 86 96

Différence commune: 10

4. -135 -60 15 90 165 240 315 390 465 540

Différence commune: 75

5. 47 52 57 62 67 72 77 82 87 92

Différence commune: 5

6. -245 -195 -145 -95 -45 5 55 105 155 205

Différence commune: 50

7. -249 -199 -149 -99 -49 1 51 101 151 201

Différence commune: 50

8. -51 -26 -1 24 49 74 99 124 149 174

Différence commune: 25

Séquence de Nombres Linéaires (J)

Remplissez les nombres qui manquent de chaque nombre linéaire.

1.

Différence commune: _____

2.

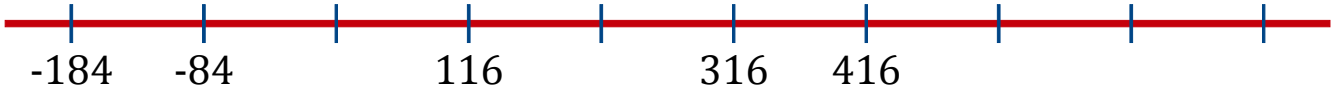

Différence commune: _____

3.

Différence commune: _____

4.

Différence commune: _____

5.

Différence commune: _____

6.

Différence commune: _____

7.

Différence commune: _____

8.

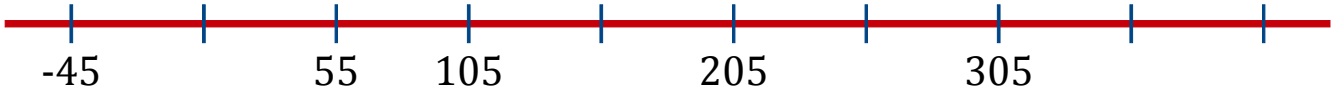

Différence commune: _____

Séquence de Nombres Linéaires (J) Réponses

Remplissez les nombres qui manquent de chaque nombre linéaire.

1. 7 17 27 37 47 57 67 77 87 97

Différence commune: 10

2. -184 -84 16 116 216 316 416 516 616 716

Différence commune: 100

3. -91 -16 59 134 209 284 359 434 509 584

Différence commune: 75

4. -218 -143 -68 7 82 157 232 307 382 457

Différence commune: 75

5. -660 -560 -460 -360 -260 -160 -60 40 140 240

Différence commune: 100

6. -99 -74 -49 -24 1 26 51 76 101 126

Différence commune: 25

7. -31 -6 19 44 69 94 119 144 169 194

Différence commune: 25

8. -45 5 55 105 155 205 255 305 355 405

Différence commune: 50