Droites Numériques (F)

Complétez cette droite numérique par les nombres manquants.

1.

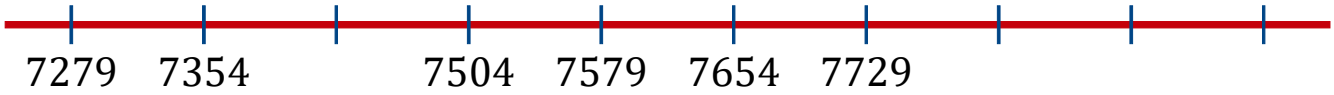

Différence commune: _____

2.

Différence commune: _____

3.

Différence commune: _____

4.

Différence commune: _____

5.

Différence commune: _____

6.

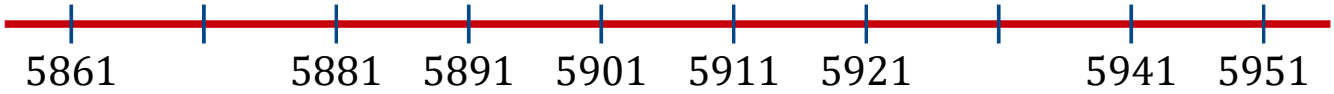

Différence commune: _____

7.

Différence commune: _____

8.

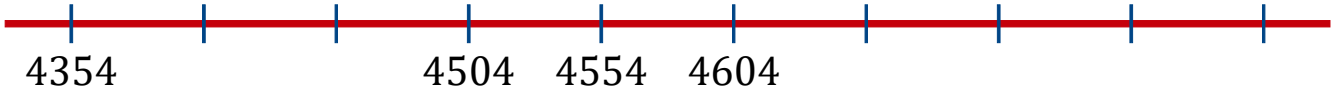

Différence commune: _____

Droites Numériques (F) Réponses

Complétez cette droite numérique par les nombres manquants.

1. 7279 7354 7429 7504 7579 7654 7729 7804 7879 7954

Différence commune: 75

2. 7786 7836 7886 7936 7986 8036 8086 8136 8186 8236

Différence commune: 50

3. 2753 2778 2803 2828 2853 2878 2903 2928 2953 2978

Différence commune: 25

4. 7911 7961 8011 8061 8111 8161 8211 8261 8311 8361

Différence commune: 50

5. 7538 7548 7558 7568 7578 7588 7598 7608 7618 7628

Différence commune: 10

6. 5861 5871 5881 5891 5901 5911 5921 5931 5941 5951

Différence commune: 10

7. 2788 2863 2938 3013 3088 3163 3238 3313 3388 3463

Différence commune: 75

8. 4354 4404 4454 4504 4554 4604 4654 4704 4754 4804

Différence commune: 50