Séquence de Nombres Linéaires (G)

Remplissez les nombres qui manquent de chaque nombre linéaire.

1.

Différence commune: _____

2.

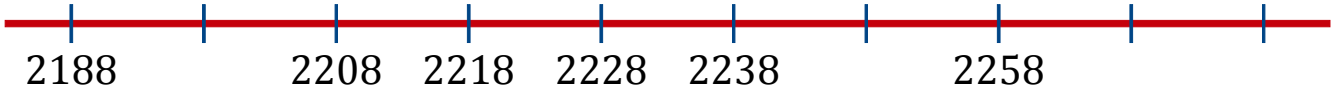

Différence commune: _____

3.

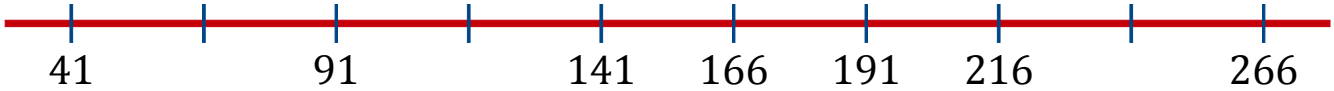

Différence commune: _____

4.

Différence commune: _____

5.

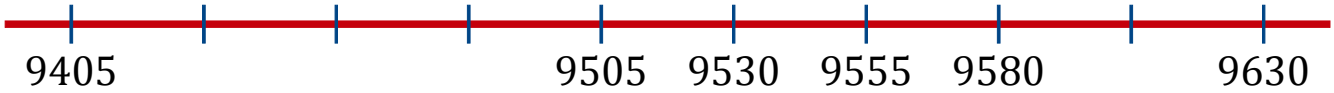

Différence commune: _____

6.

Différence commune: _____

7.

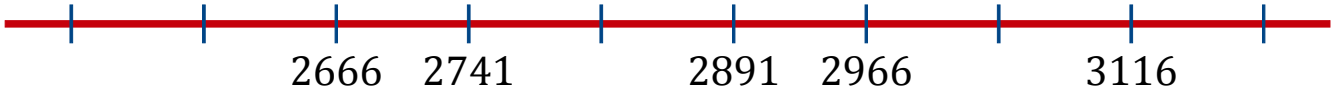

Différence commune: _____

8.

Différence commune: _____