Séquence de Nombres Linéaires (G)

Remplissez les nombres qui manquent de chaque nombre linéaire.

1.

Différence commune: _____

2.

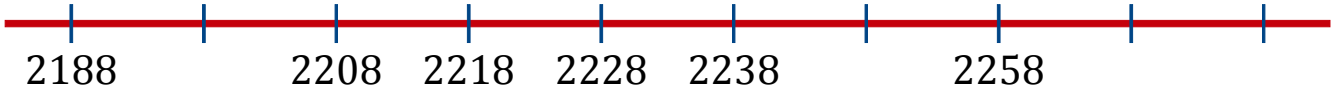

Différence commune: _____

3.

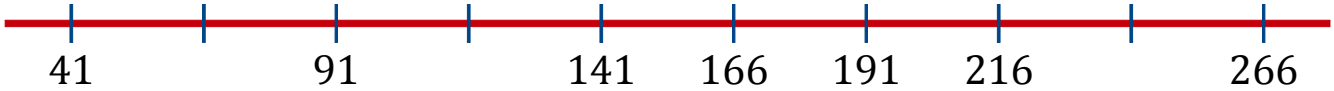

Différence commune: _____

4.

Différence commune: _____

5.

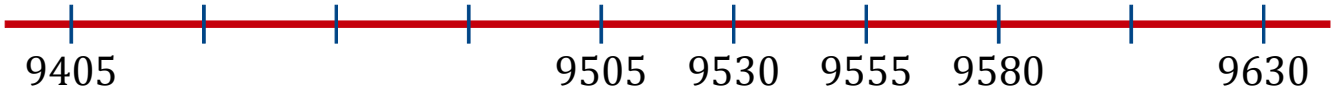

Différence commune: _____

6.

Différence commune: _____

7.

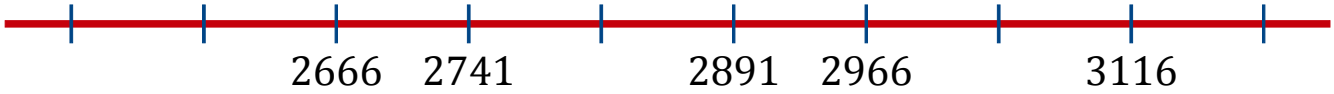

Différence commune: _____

8.

Différence commune: _____

Séquence de Nombres Linéaires (G) Réponses

Remplissez les nombres qui manquent de chaque nombre linéaire.

1. 3643 3743 3843 3943 4043 4143 4243 4343 4443 4543

Différence commune: 100

2. 2188 2198 2208 2218 2228 2238 2248 2258 2268 2278

Différence commune: 10

3. 41 66 91 116 141 166 191 216 241 266

Différence commune: 25

4. 4654 4729 4804 4879 4954 5029 5104 5179 5254 5329

Différence commune: 75

5. 9405 9430 9455 9480 9505 9530 9555 9580 9605 9630

Différence commune: 25

6. 7960 8060 8160 8260 8360 8460 8560 8660 8760 8860

Différence commune: 100

7. 2516 2591 2666 2741 2816 2891 2966 3041 3116 3191

Différence commune: 75

8. 2888 2988 3088 3188 3288 3388 3488 3588 3688 3788

Différence commune: 100