Facteurs Premiers (E)

Utilisez un diagramme à branches pour trouver les facteurs premiers des nombres suivants.

63

81

15

65

95

76

46

21

27

Facteurs Premiers (E) Solutions

Utilisez un diagramme à branches pour trouver les facteurs premiers des nombres suivants.

63

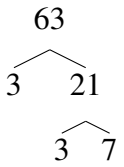

$63 = 3^2 \times 7$

81

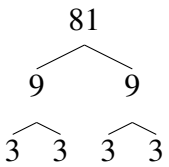

$81 = 3^4$

15

$15 = 3 \times 5$

65

$65 = 5 \times 13$

95

$95 = 5 \times 19$

76

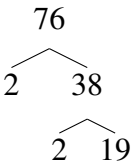

$76 = 2^2 \times 19$

46

$46 = 2 \times 23$

21

$21 = 3 \times 7$

27

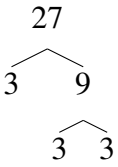

$27 = 3^3$