COMPTAGE DES ŒUX DE PÂQUES (H)

Combien d'œux de Pâques y a-t-il dans chaque groupe?

1. Il y a _____ œux de Pâques dans le groupe ci-dessous.

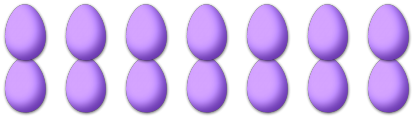

2. Il y a _____ œux de Pâques dans le groupe ci-dessous.



3. Il y a _____ œux de Pâques dans le groupe ci-dessous.

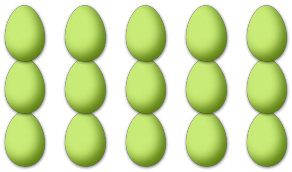

4. Il y a _____ œux de Pâques dans le groupe ci-dessous.

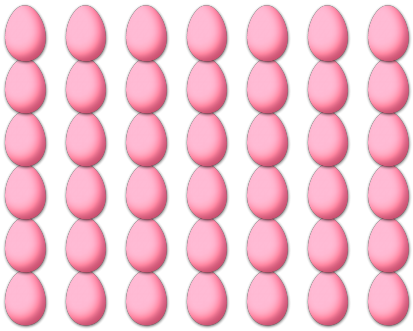

5. Il y a _____ œux de Pâques dans le groupe ci-dessous.

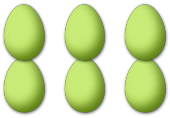

6. Il y a _____ œux de Pâques dans le groupe ci-dessous.



Comptage des œux de Pâques (H) Réponses

Combien d'œux de Pâques y a-t-il dans chaque groupe?

1. Il y a __14__ œux de Pâques dans le groupe ci-dessous.

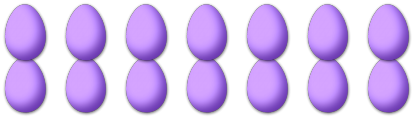

2. Il y a __12__ œux de Pâques dans le groupe ci-dessous.



3. Il y a __15__ œux de Pâques dans le groupe ci-dessous.

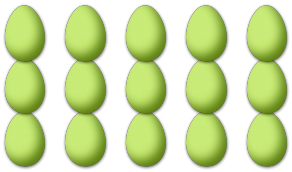

4. Il y a __42__ œux de Pâques dans le groupe ci-dessous.

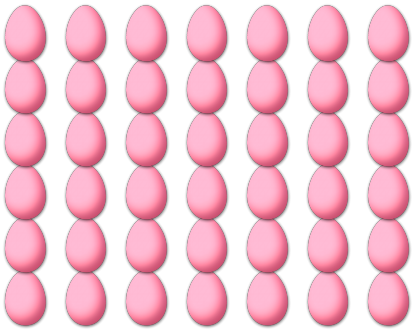

5. Il y a __6__ œux de Pâques dans le groupe ci-dessous.

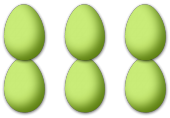

6. Il y a __35__ œux de Pâques dans le groupe ci-dessous.