Comptage des œux de Pâques (G)

Combien d'œux de Pâques y a-t-il dans chaque groupe?

1. Il y a _____ œux de Pâques dans le groupe ci-dessous.

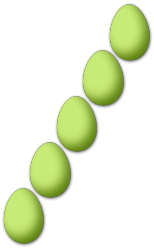

2. Il y a _____ œux de Pâques dans le groupe ci-dessous.



3. Il y a _____ œux de Pâques dans le groupe ci-dessous.

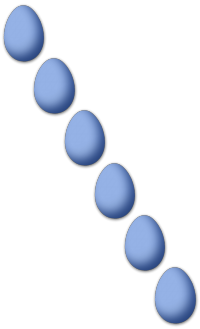

4. Il y a _____ œux de Pâques dans le groupe ci-dessous.

5. Il y a _____ œux de Pâques dans le groupe ci-dessous.



6. Il y a _____ œux de Pâques dans le groupe ci-dessous.