Comptage des œux de Pâques (1)

Combien d'œux de Pâques y a-t-il dans chaque groupe?

1. Il y a _____ œux de Pâques dans le groupe ci-dessous.

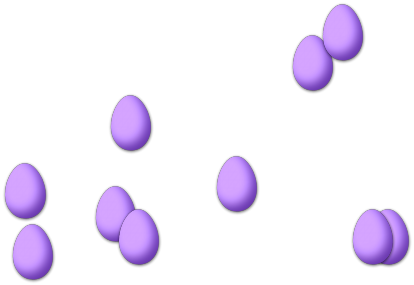

2. Il y a _____ œux de Pâques dans le groupe ci-dessous.

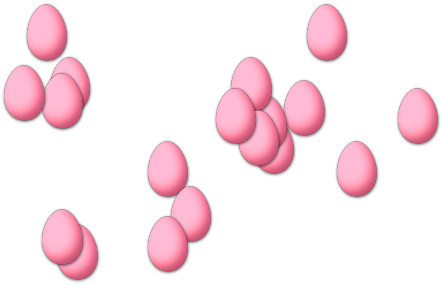

3. Il y a _____ œux de Pâques dans le groupe ci-dessous.



4. Il y a _____ œux de Pâques dans le groupe ci-dessous.



5. Il y a _____ œux de Pâques dans le groupe ci-dessous.

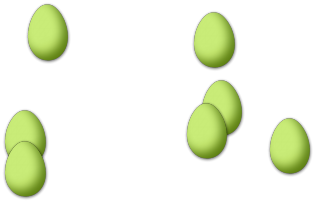

6. Il y a _____ œux de Pâques dans le groupe ci-dessous.

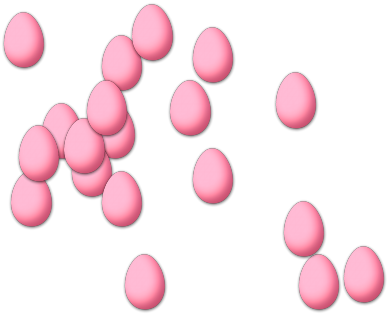

Comptage des œux de Pâques (1) Réponses

Combien d'œux de Pâques y a-t-il dans chaque groupe?

1. Il y a __10__ œux de Pâques dans le groupe ci-dessous.

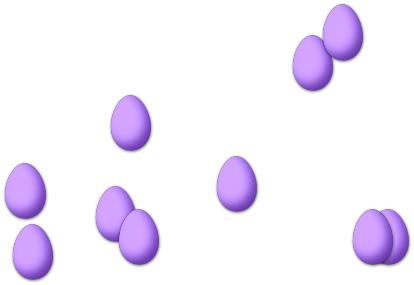

2. Il y a __18__ œux de Pâques dans le groupe ci-dessous.

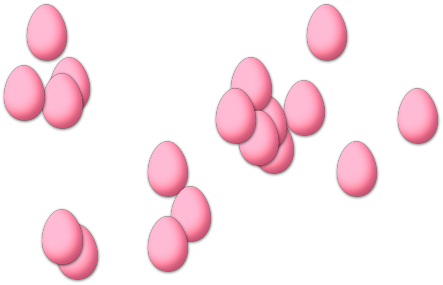

3. Il y a __9__ œux de Pâques dans le groupe ci-dessous.



4. Il y a __16__ œux de Pâques dans le groupe ci-dessous.



5. Il y a __7__ œux de Pâques dans le groupe ci-dessous.

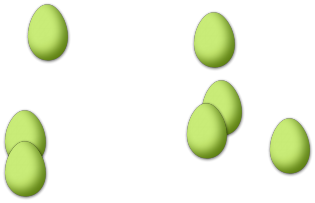

6. Il y a __19__ œux de Pâques dans le groupe ci-dessous.

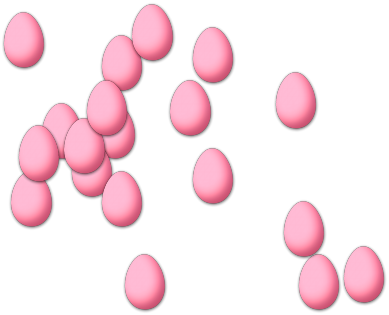

MathsLibres.com vous souhaite une heureuse Pâques!