COMPTAGE DES ŒUX DE PÂQUES (B)

Combien d'œux de Pâques y a-t-il dans chaque groupe?

1. Il y a _____ œux de Pâques dans le groupe ci-dessous.



2. Il y a _____ œux de Pâques dans le groupe ci-dessous.



3. Il y a _____ œux de Pâques dans le groupe ci-dessous.

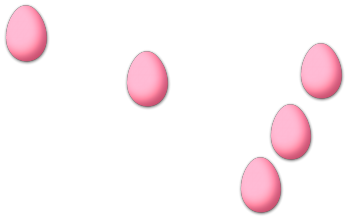

4. Il y a _____ œux de Pâques dans le groupe ci-dessous.



5. Il y a _____ œux de Pâques dans le groupe ci-dessous.

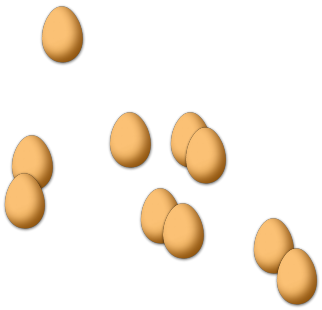

6. Il y a _____ œux de Pâques dans le groupe ci-dessous.

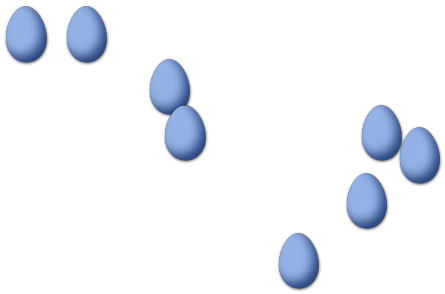

Comptage des œux de Pâques (B) Réponses

Combien d'œux de Pâques y a-t-il dans chaque groupe?

1. Il y a __5__ œux de Pâques dans le groupe ci-dessous.



2. Il y a __4__ œux de Pâques dans le groupe ci-dessous.



3. Il y a __5__ œux de Pâques dans le groupe ci-dessous.

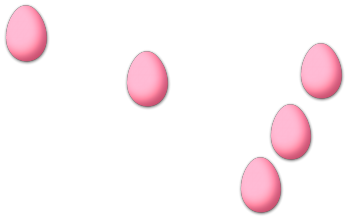

4. Il y a __7__ œux de Pâques dans le groupe ci-dessous.



5. Il y a __10__ œux de Pâques dans le groupe ci-dessous.

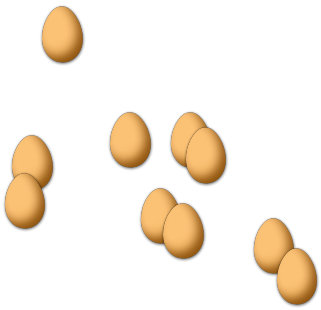
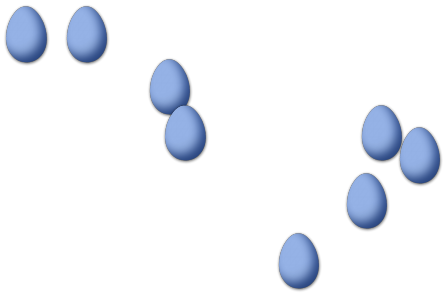
6. Il y a __8__ œux de Pâques dans le groupe ci-dessous.