Comptage de Monnaie des États-Unis. (A)

Faites le total de chaque collection de pièces de monnaie ci-dessous.

1.





_____

2.

_____

3.

_____

Images de pièces de monnaie provenantes de la Monnaie des États-Unis.

Comptage de Monnaie des États-Unis. (A) Solutions

Faites le total de chaque collection de pièces de monnaie ci-dessous.

1.

4,80 $

2.



4,48 $

3.



5,00 $

Images de pièces de monnaie provenantes de la Monnaie des États-Unis.