Probabilité – Bonbons Halloween (A)

Le rapport de quantités de friandises qui seront distribuées dans le quartier cette Halloween est représenté ci-dessous.

Quelle est la probabilité de recevoir du Bonbon Maïs?

Quelle est la probabilité de recevoir des Oursons en Gélatine?

Quelle est la probabilité de recevoir un Rouleau Miam!?

Quelle est la probabilité de recevoir une Barre Choco?

Combien de Bonbons Maïs estimez-vous avoir reçu après 49 maisons?

Combien d'Oursons en Gélatine estimez-vous avoir reçu après 14 maisons?

Combien de Rouleau Miam! estimez-vous avoir reçu après 56 maisons?

Combien de Barres Choco estimez-vous avoir reçu après 49 maisons?

Probabilité – Bonbons Halloween (A) Solutions

Le rapport de quantités de friandises qui seront distribuées dans le quartier cette Halloween est représenté ci-dessous.

Quelle est la probabilité de recevoir du Bonbon Maïs?

1/7

Quelle est la probabilité de recevoir des Oursons en Gélatine?

2/7

Quelle est la probabilité de recevoir un Rouleau Miam!?

3/7

Quelle est la probabilité de recevoir une Barre Choco?

1/7

Combien de Bonbons Maïs estimez-vous avoir reçu après 49 maisons?

7

Combien d'Oursons en Gélatine estimez-vous avoir reçu après 14 maisons?

4

Combien de Rouleau Miam! estimez-vous avoir reçu après 56 maisons?

24

Combien de Barres Choco estimez-vous avoir reçu après 49 maisons?

7

Probabilité – Bonbons Halloween (B)

Le rapport de quantités de friandises qui seront distribuées dans le quartier cette Halloween est représenté ci-dessous.

Quelle est la probabilité de recevoir du Bonbon Maïs?

Quelle est la probabilité de recevoir des Oursons en Gélatine?

Quelle est la probabilité de recevoir un Rouleau Miam!?

Quelle est la probabilité de recevoir une Barre Choco?

Combien de Bonbons Maïs estimez-vous avoir reçu après 32 maisons?

Combien d'Oursons en Gélatine estimez-vous avoir reçu après 32 maisons?

Combien de Rouleau Miam! estimez-vous avoir reçu après 16 maisons?

Combien de Barres Choco estimez-vous avoir reçu après 48 maisons?

Probabilité – Bonbons Halloween (B) Solutions

Le rapport de quantités de friandises qui seront distribuées dans le quartier cette Halloween est représenté ci-dessous.

Quelle est la probabilité de recevoir du Bonbon Maïs?

1/4

Quelle est la probabilité de recevoir des Oursons en Gélatine?

1/4

Quelle est la probabilité de recevoir un Rouleau Miam!?

1/4

Quelle est la probabilité de recevoir une Barre Choco?

1/4

Combien de Bonbons Maïs estimez-vous avoir reçu après 32 maisons?

8

Combien d'Oursons en Gélatine estimez-vous avoir reçu après 32 maisons?

8

Combien de Rouleau Miam! estimez-vous avoir reçu après 16 maisons?

4

Combien de Barres Choco estimez-vous avoir reçu après 48 maisons?

12

Probabilité – Bonbons Halloween (C)

Le rapport de quantités de friandises qui seront distribuées dans le quartier cette Halloween est représenté ci-dessous.

Quelle est la probabilité de recevoir du Bonbon Maïs?

Quelle est la probabilité de recevoir des Oursons en Gélatine?

Quelle est la probabilité de recevoir un Rouleau Miam!?

Quelle est la probabilité de recevoir une Barre Choco?

Combien de Bonbons Maïs estimez-vous avoir reçu après 24 maisons?

Combien d'Oursons en Gélatine estimez-vous avoir reçu après 40 maisons?

Combien de Rouleau Miam! estimez-vous avoir reçu après 24 maisons?

Combien de Barres Choco estimez-vous avoir reçu après 64 maisons?

Probabilité – Bonbons Halloween (C) Solutions

Le rapport de quantités de friandises qui seront distribuées dans le quartier cette Halloween est représenté ci-dessous.

Quelle est la probabilité de recevoir du Bonbon Maïs?

1/4

Quelle est la probabilité de recevoir des Oursons en Gélatine?

1/8

Quelle est la probabilité de recevoir un Rouleau Miam!?

1/2

Quelle est la probabilité de recevoir une Barre Choco?

1/8

Combien de Bonbons Maïs estimez-vous avoir reçu après 24 maisons?

6

Combien d'Oursons en Gélatine estimez-vous avoir reçu après 40 maisons?

5

Combien de Rouleau Miam! estimez-vous avoir reçu après 24 maisons?

12

Combien de Barres Choco estimez-vous avoir reçu après 64 maisons?

8

Probabilité – Bonbons Halloween (D)

Le rapport de quantités de friandises qui seront distribuées dans le quartier cette Halloween est représenté ci-dessous.

Quelle est la probabilité de recevoir du Bonbon Maïs?

Quelle est la probabilité de recevoir des Oursons en Gélatine?

Quelle est la probabilité de recevoir un Rouleau Miam!?

Quelle est la probabilité de recevoir une Barre Choco?

Combien de Bonbons Maïs estimez-vous avoir reçu après 90 maisons?

Combien d'Oursons en Gélatine estimez-vous avoir reçu après 60 maisons?

Combien de Rouleau Miam! estimez-vous avoir reçu après 30 maisons?

Combien de Barres Choco estimez-vous avoir reçu après 30 maisons?

Probabilité – Bonbons Halloween (D) Solutions

Le rapport de quantités de friandises qui seront distribuées dans le quartier cette Halloween est représenté ci-dessous.

Quelle est la probabilité de recevoir du Bonbon Maïs?

2/5

Quelle est la probabilité de recevoir des Oursons en Gélatine?

1/5

Quelle est la probabilité de recevoir un Rouleau Miam!?

1/15

Quelle est la probabilité de recevoir une Barre Choco?

1/3

Combien de Bonbons Maïs estimez-vous avoir reçu après 90 maisons?

36

Combien d'Oursons en Gélatine estimez-vous avoir reçu après 60 maisons?

12

Combien de Rouleau Miam! estimez-vous avoir reçu après 30 maisons?

2

Combien de Barres Choco estimez-vous avoir reçu après 30 maisons?

10

Probabilité – Bonbons Halloween (E)

Le rapport de quantités de friandises qui seront distribuées dans le quartier cette Halloween est représenté ci-dessous



Quelle est la probabilité de recevoir du Bonbon Maïs?

Quelle est la probabilité de recevoir des Oursons en Gélatine?

Quelle est la probabilité de recevoir un Rouleau Miam!?

Quelle est la probabilité de recevoir une Barre Choco?

Combien de Bonbons Maïs estimez-vous avoir reçu après 126 maisons?

Combien d'Oursons en Gélatine estimez-vous avoir reçu après 105 maisons?

Combien de Rouleau Miam! estimez-vous avoir reçu après 84 maisons?

Combien de Barres Choco estimez-vous avoir reçu après 63 maisons?

Probabilité – Bonbons Halloween (E) Solutions

Le rapport de quantités de friandises qui seront distribuées dans le quartier cette Halloween est représenté ci-dessous

Quelle est la probabilité de recevoir du Bonbon Maïs?

8/21

Quelle est la probabilité de recevoir des Oursons en Gélatine?

4/21

Quelle est la probabilité de recevoir un Rouleau Miam!?

0

Quelle est la probabilité de recevoir une Barre Choco?

3/7

Combien de Bonbons Maïs estimez-vous avoir reçu après 126 maisons?

48

Combien d'Oursons en Gélatine estimez-vous avoir reçu après 105 maisons?

20

Combien de Rouleau Miam! estimez-vous avoir reçu après 84 maisons?

0

Combien de Barres Choco estimez-vous avoir reçu après 63 maisons?

27

Probabilité – Bonbons Halloween (F)

Le rapport de quantités de friandises qui seront distribuées dans le quartier cette Halloween est représenté ci-dessous.

Quelle est la probabilité de recevoir du Bonbon Maïs?

Quelle est la probabilité de recevoir des Oursons en Gélatine?

Quelle est la probabilité de recevoir un Rouleau Miam!?

Quelle est la probabilité de recevoir une Barre Choco?

Combien de Bonbons Maïs estimez-vous avoir reçu après 60 maisons?

Combien d'Oursons en Gélatine estimez-vous avoir reçu après 60 maisons?

Combien de Rouleau Miam! estimez-vous avoir reçu après 30 maisons?

Combien de Barres Choco estimez-vous avoir reçu après 30 maisons?

Probabilité – Bonbons Halloween (F) Solutions

Le rapport de quantités de friandises qui seront distribuées dans le quartier cette Halloween est représenté ci-dessous.

Quelle est la probabilité de recevoir du Bonbon Maïs?

1/5

Quelle est la probabilité de recevoir des Oursons en Gélatine?

1/15

Quelle est la probabilité de recevoir un Rouleau Miam!?

3/5

Quelle est la probabilité de recevoir une Barre Choco?

2/15

Combien de Bonbons Maïs estimez-vous avoir reçu après 60 maisons?

12

Combien d'Oursons en Gélatine estimez-vous avoir reçu après 60 maisons?

4

Combien de Rouleau Miam! estimez-vous avoir reçu après 30 maisons?

18

Combien de Barres Choco estimez-vous avoir reçu après 30 maisons?

4

Probabilité – Bonbons Halloween (G)

Le rapport de quantités de friandises qui seront distribuées dans le quartier cette Halloween est représenté ci-dessous.



Quelle est la probabilité de recevoir du Bonbon Maïs?

Quelle est la probabilité de recevoir des Oursons en Gélatine?

Quelle est la probabilité de recevoir un Rouleau Miam!?

Quelle est la probabilité de recevoir une Barre Choco?

Combien de Bonbons Maïs estimez-vous avoir reçu après 140 maisons?

Combien d'Oursons en Gélatine estimez-vous avoir reçu après 80 maisons?

Combien de Rouleau Miam! estimez-vous avoir reçu après 140 maisons?

Combien de Barres Choco estimez-vous avoir reçu après 100 maisons?

Probabilité – Bonbons Halloween (G) Solutions

Le rapport de quantités de friandises qui seront distribuées dans le quartier cette Halloween est représenté ci-dessous.



Quelle est la probabilité de recevoir du Bonbon Maïs?

2/5

Quelle est la probabilité de recevoir des Oursons en Gélatine?

3/10

Quelle est la probabilité de recevoir un Rouleau Miam!?

3/10

Quelle est la probabilité de recevoir une Barre Choco?

0

Combien de Bonbons Maïs estimez-vous avoir reçu après 140 maisons?

56

Combien d'Oursons en Gélatine estimez-vous avoir reçu après 80 maisons?

24

Combien de Rouleau Miam! estimez-vous avoir reçu après 140 maisons?

42

Combien de Barres Choco estimez-vous avoir reçu après 100 maisons?

0

Probabilité – Bonbons Halloween (H)

Le rapport de quantités de friandises qui seront distribuées dans le quartier cette Halloween est représenté ci-dessous.



Quelle est la probabilité de recevoir du Bonbon Maïs?

Quelle est la probabilité de recevoir des Oursons en Gélatine?

Quelle est la probabilité de recevoir un Rouleau Miam!?

Quelle est la probabilité de recevoir une Barre Choco?

Combien de Bonbons Maïs estimez-vous avoir reçu après 40 maisons?

Combien d'Oursons en Gélatine estimez-vous avoir reçu après 60 maisons?

Combien de Rouleau Miam! estimez-vous avoir reçu après 40 maisons?

Combien de Barres Choco estimez-vous avoir reçu après 60 maisons?

Probabilité – Bonbons Halloween (H) Solutions

Le rapport de quantités de friandises qui seront distribuées dans le quartier cette Halloween est représenté ci-dessous.

Quelle est la probabilité de recevoir du Bonbon Maïs?

0

Quelle est la probabilité de recevoir des Oursons en Gélatine?

2/5

Quelle est la probabilité de recevoir un Rouleau Miam!?

3/5

Quelle est la probabilité de recevoir une Barre Choco?

0

Combien de Bonbons Maïs estimez-vous avoir reçu après 40 maisons?

0

Combien d'Oursons en Gélatine estimez-vous avoir reçu après 60 maisons?

24

Combien de Rouleau Miam! estimez-vous avoir reçu après 40 maisons?

24

Combien de Barres Choco estimez-vous avoir reçu après 60 maisons?

0

Probabilité – Bonbons Halloween (I)

Le rapport de quantités de friandises qui seront distribuées dans le quartier cette Halloween est représenté ci-dessous.

Quelle est la probabilité de recevoir du Bonbon Maïs?

Quelle est la probabilité de recevoir des Oursons en Gélatine?

Quelle est la probabilité de recevoir un Rouleau Miam!?

Quelle est la probabilité de recevoir une Barre Choco?

Combien de Bonbons Maïs estimez-vous avoir reçu après 133 maisons?

Combien d'Oursons en Gélatine estimez-vous avoir reçu après 152 maisons?

Combien de Rouleau Miam! estimez-vous avoir reçu après 133 maisons?

Combien de Barres Choco estimez-vous avoir reçu après 38 maisons?

Probabilité – Bonbons Halloween (I) Solutions

Le rapport de quantités de friandises qui seront distribuées dans le quartier cette Halloween est représenté ci-dessous.

Quelle est la probabilité de recevoir du Bonbon Maïs?

6/19

Quelle est la probabilité de recevoir des Oursons en Gélatine?

6/19

Quelle est la probabilité de recevoir un Rouleau Miam!?

6/19

Quelle est la probabilité de recevoir une Barre Choco?

1/19

Combien de Bonbons Maïs estimez-vous avoir reçu après 133 maisons?

42

Combien d'Oursons en Gélatine estimez-vous avoir reçu après 152 maisons?

48

Combien de Rouleau Miam! estimez-vous avoir reçu après 133 maisons?

42

Combien de Barres Choco estimez-vous avoir reçu après 38 maisons?

2

Probabilité – Bonbons Halloween (J)

Le rapport de quantités de friandises qui seront distribuées dans le quartier cette Halloween est représenté ci-dessous.

Quelle est la probabilité de recevoir du Bonbon Maïs?

Quelle est la probabilité de recevoir des Oursons en Gélatine?

Quelle est la probabilité de recevoir un Rouleau Miam!?

Quelle est la probabilité de recevoir une Barre Choco?

Combien de Bonbons Maïs estimez-vous avoir reçu après 16 maisons?

Combien d'Oursons en Gélatine estimez-vous avoir reçu après 24 maisons?

Combien de Rouleau Miam! estimez-vous avoir reçu après 8 maisons?

Combien de Barres Choco estimez-vous avoir reçu après 12 maisons?

Probabilité – Bonbons Halloween (J) Solutions

Le rapport de quantités de friandises qui seront distribuées dans le quartier cette Halloween est représenté ci-dessous.

Quelle est la probabilité de recevoir du Bonbon Maïs?

1/4

Quelle est la probabilité de recevoir des Oursons en Gélatine?

1/4

Quelle est la probabilité de recevoir un Rouleau Miam!?

1/4

Quelle est la probabilité de recevoir une Barre Choco?

1/4

Combien de Bonbons Maïs estimez-vous avoir reçu après 16 maisons?

4

Combien d'Oursons en Gélatine estimez-vous avoir reçu après 24 maisons?

6

Combien de Rouleau Miam! estimez-vous avoir reçu après 8 maisons?

2

Combien de Barres Choco estimez-vous avoir reçu après 12 maisons?

3