COMPTER HALLOWEEN (G)

Nom: _____ Date: _____ Score: _____ /4

Comptez le nombre d'objects dans chaque groupe.

1. Il y a ☐ chauves-souris.



2. Il y a ☐ sorcières.

3. Il y a ☐ citrouilles d'Halloween.

4. Il y a ☐ fantômes.



COMPTER HALLOWEEN (G) REPONSES

Nom: _____ Date: _____ Score: _____ /4

Comptez le nombre d'objects dans chaque groupe.

1. Il y a 11 chauves-souris.



2. Il y a 12 sorcières.

3. Il y a 4 citrouilles d'Halloween.

4. Il y a 6 fantômes.